Визуальный вес разряда (в пределах 20) Имя:

Заполните пропуски.

об)

0 десятками 4 единицами

1)

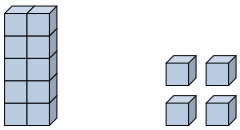

_____ десятками _____ единицами

2)

_____ десятками _____ единицами

3)

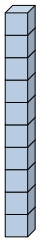

_____ десятками _____ единицами

4)

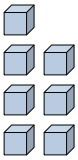

_____ десятками _____ единицами

5)

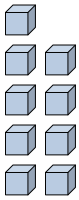

_____ десятками _____ единицами

6)

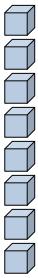

_____ десятками _____ единицами

7)

_____ десятками _____ единицами

8)

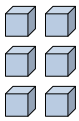

_____ десятками _____ единицами

9)

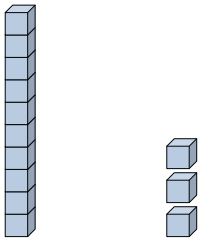

_____ десятками _____ единицами

10)

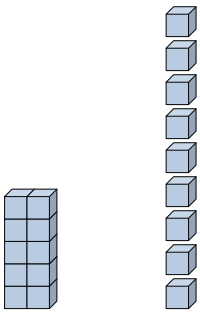

_____ десятками _____ единицами

11)

_____ десятками _____ единицами

Ответы

об. 4

1. _____
2. _____
3. _____
4. _____
5. _____
6. _____
7. _____
8. _____
9. _____
10. _____
11. _____

1-10	91	82	73	64	55	45	36	27	18	9
11	0									

Визуальный вес разряда (в пределах 20) Имя: Ключ к правильным ответам

Заполните пропуски.

об)

0 десятками 4 единицами

1)

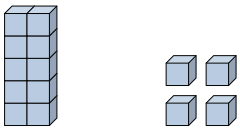

1 десятками 4 единицами

2)

0 десятками 1 единицами

3)

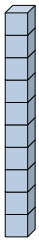

1 десятками 0 единицами

4)

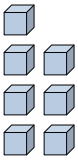

0 десятками 7 единицами

5)

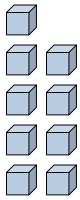

0 десятками 9 единицами

6)

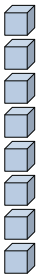

0 десятками 8 единицами

7)

0 десятками 2 единицами

8)

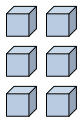

0 десятками 6 единицами

9)

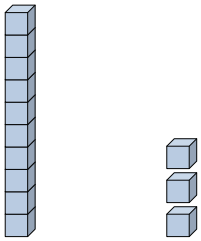

1 десятками 3 единицами

10)

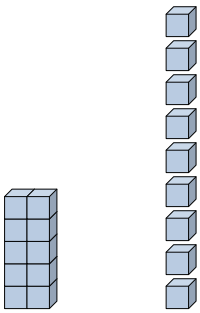

1 десятками 9 единицами

11)

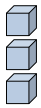

0 десятками 3 единицами

Ответы

об.	4
1.	14
2.	1
3.	10
4.	7
5.	9
6.	8
7.	2
8.	6
9.	13
10.	19
11.	3

1-10	91	82	73	64	55	45	36	27	18	9
11	0									