Нахождение большего и меньшего Имя:

Сравните количество фигур.

1)



Имеется меньше или ?

A.

B.

2)



Имеется больше или ?

A.

B.

3)

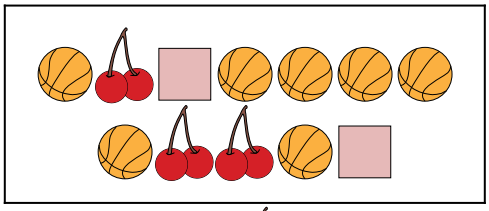

Имеется больше или ?

A.

B.

4)

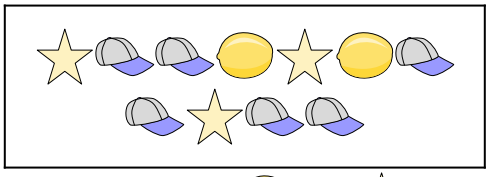

Имеется больше или ?

A.

B.

5)



Имеется меньше или ?

A.

B.

6)



Имеется меньше или ?

A.

B.

Ответы

1. _____
2. _____
3. _____
4. _____
5. _____
6. _____

Сравните количество фигур.

1)



Имеется меньше или ?

A.

B.

2)



Имеется больше или ?

A.

B.

3)

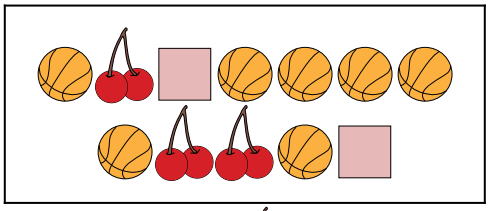

Имеется больше или ?

A.

B.

4)

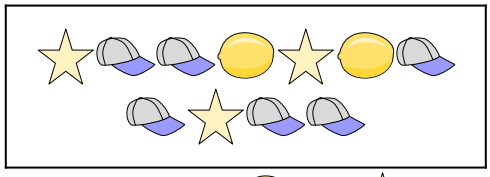

Имеется больше или ?

A.

B.

5)



Имеется меньше или ?

A.

B.

6)



Имеется меньше или ?

A.

B.

Ответы

1. A
2. A
3. A
4. B
5. B
6. A

1-6	83	67	50	33	17	0