Нахождение четного и нечетного (визуальное) Имя:

Определите, является ли число фигур четным или нечетным.

1)

2) 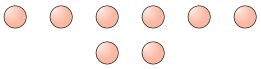

3) 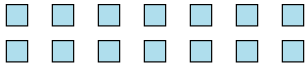

4)

5)

6)

7)

8) 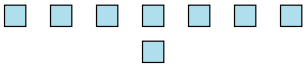

9) 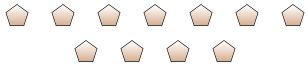

10)

Ответы

1. _____
2. _____
3. _____
4. _____
5. _____
6. _____
7. _____
8. _____
9. _____
10. _____

1-10	90	80	70	60	50	40	30	20	10	0

Нахождение четного и нечетного (визуальное) Имя: Ключ к правильным ответам

Определите, является ли число фигур четным или нечетным.

1) 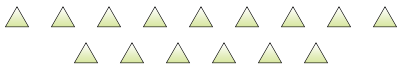

15

2) 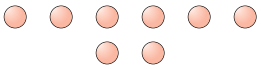

8

3) 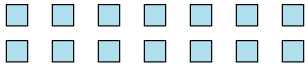

14

4)

10

5)

12

6)

8

7)

16

8) 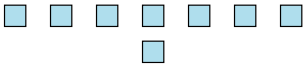

8

9) 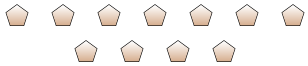

11

10)

7

Ответы

1. Нечетное
2. Четное
3. Четное
4. Четное
5. Четное
6. Четное
7. Четное
8. Четное
9. Нечетное
10. Нечетное

1-10	90	80	70	60	50	40	30	20	10	0