Нахождение четного и нечетного (визуальное) Имя:

**Определите, является ли число фигур четным или нечетным.**

1)

2)

3)

4)

5)

6)

7)

8)

9) 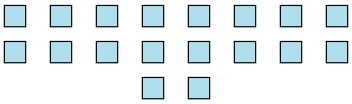

10) 

**Ответы**

1. _____
2. _____
3. _____
4. _____
5. _____
6. _____
7. _____
8. _____
9. _____
10. _____



| 1-10 | 90 | 80 | 70 | 60 | 50 | 40 | 30 | 20 | 10 | 0 |
|---|---|---|---|---|---|---|---|---|---|---|

Нахождение четного и нечетного (визуальное) Имя: Ключ к правильным ответам

**Определите, является ли число фигур четным или нечетным.**

**1)**

5

**2)**

12

**3)**

6

**4)**

8

**5)**

5

**6)**

5

**7)**

5

**8)**

9

**9)** 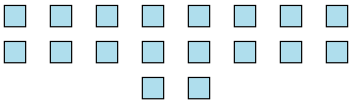

18

**10)** 

17

## Ответы

1. Нечетное
2. Четное
3. Четное
4. Четное
5. Нечетное
6. Нечетное
7. Нечетное
8. Нечетное
9. Четное
10. Нечетное



| 1-10 | 90 | 80 | 70 | 60 | 50 | 40 | 30 | 20 | 10 | 0 |
|---|---|---|---|---|---|---|---|---|---|---|