Используйте чертежи для определения фасада, вертикали и бедра фигур.

1)

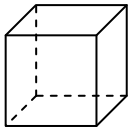

куб

Грани: _____

Вершины: _____

Ребра: _____

2)



сфера

Грани: _____

Вершины: _____

Ребра: _____

3)

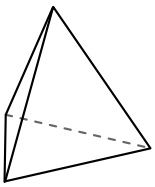

треугольная пирамида

Грани: _____

Вершины: _____

Ребра: _____

4)



сфера

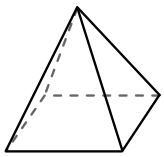

четырехугольная пирамида

Какая фигура имеет больше граний?
A.сфера
B.четырехугольная пирамида
C.Они обе имеют равное количество граней.

5)

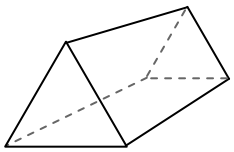

треугольная призма

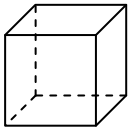

куб

Какая фигура имеет больше вершин?
A.треугольная призма
B.куб
C.Они обе имеют равное количество вершин.

6)

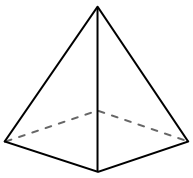

четырехугольная пирамида

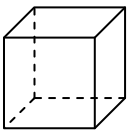

куб

Какая фигура имеет больше ребер?
A.четырехугольная пирамида
B.куб
C.Они обе имеют равное количество ребер.

Ответы

1. _____
2. _____
3. _____
4. _____
5. _____
6. _____

1-6	83	67	50	33	17	0

Используйте чертежи для определения фасада, вертикали и бедра фигур.

1)

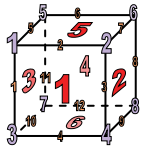

куб

Грани: 6

Вершины: 8

Ребра: 12

2)



сфера

Грани: 1

Вершины: 0

Ребра: 0

3)

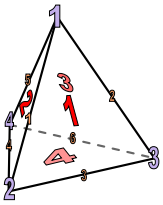

треугольная пирамида

Грани: 4

Вершины: 4

Ребра: 6

4)



сфера

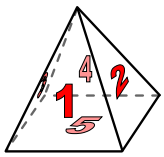

четырехугольная пирамида

Какая фигура имеет больше граний?
A.сфера
B.четырехугольная пирамида
C.Они обе имеют равное количество граней.

5)

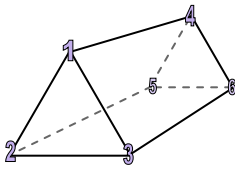

треугольная призма

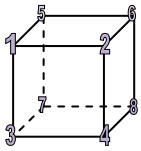

куб

Какая фигура имеет больше вершин?
A.треугольная призма
B.куб
C.Они обе имеют равное количество вершин.

6)

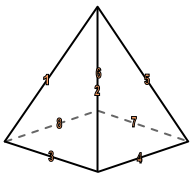

четырехугольная пирамида

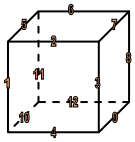

куб

Какая фигура имеет больше ребер?
A.четырехугольная пирамида
B.куб
C.Они обе имеют равное количество ребер.

Ответы

1. 6, 8, 12
2. 1, 0, 0
3. 4, 4, 6
4. B
5. B
6. B

1-6	83	67	50	33	17	0