Используйте чертежи для определения фасада, вертикали и бедра фигур.

1)

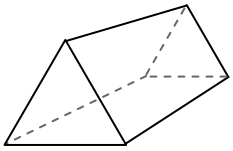

треугольная призма

Грани: _____

Вершины: _____

Ребра: _____

2)

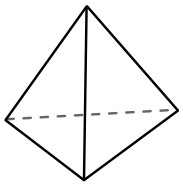

треугольная пирамида

Грани: _____

Вершины: _____

Ребра: _____

3)

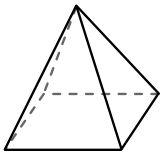

четырехугольная пирамида

Грани: _____

Вершины: _____

Ребра: _____

4)



сфера

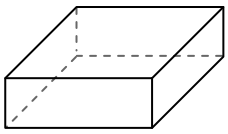

четырехугольная призма

Какая фигура имеет больше граний?
A.сфера
B.четырехугольная призма
C.Они обе имеют равное количество граней.

5)

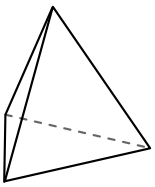

треугольная пирамида

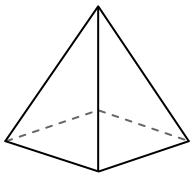

четырехугольная пирамида

Какая фигура имеет больше вершин?
A.треугольная пирамида
B.четырехугольная пирамида
C.Они обе имеют равное количество вершин.

6)

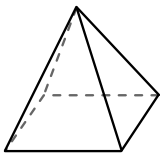

четырехугольная пирамида

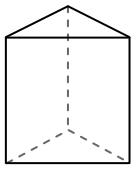

треугольная призма

Какая фигура имеет больше ребер?
A.четырехугольная пирамида
B.треугольная призма
C.Они обе имеют равное количество ребер.

Ответы

1. _____
2. _____
3. _____
4. _____
5. _____
6. _____

1-6	83	67	50	33	17	0

Используйте чертежи для определения фасада, вертикали и бедра фигур.

1)

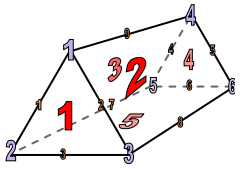

треугольная призма

Грани: 5

Вершины: 6

Ребра: 9

2)

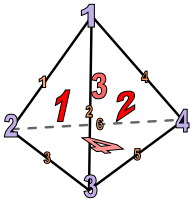

треугольная пирамида

Грани: 4

Вершины: 4

Ребра: 6

3)

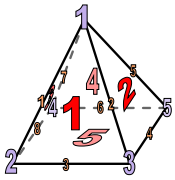

четырехугольная пирамида

Грани: 5

Вершины: 5

Ребра: 8

4)



сфера

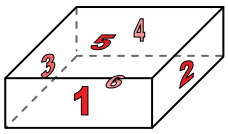

четырехугольная призма

Какая фигура имеет больше граний?
A.сфера
B.четырехугольная призма
C.Они обе имеют равное количество граней.

5)

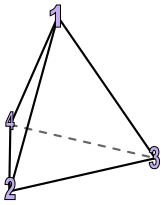

треугольная пирамида

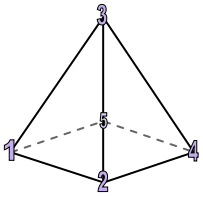

четырехугольная пирамида

Какая фигура имеет больше вершин?
A.треугольная пирамида
B.четырехугольная пирамида
C.Они обе имеют равное количество вершин.

6)

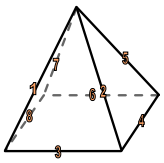

четырехугольная пирамида

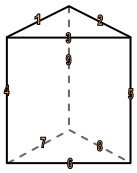

треугольная призма

Какая фигура имеет больше ребер?
A.четырехугольная пирамида
B.треугольная призма
C.Они обе имеют равное количество ребер.

Ответы

1. 5, 6, 9
2. 4, 4, 6
3. 5, 5, 8
4. B
5. B
6. B

1-6	83	67	50	33	17	0