Округление по числовым прямым Имя:

Обозначьте местоположение (приблизительное) на числовой прямой при решении.

1) Округлите 52 817 до ближайших десяти тысячных.

2) Округлите 820 860 до ближайших сотых.

3) Округлите 666 641 до ближайших десяти тысячных.

4) Округлите 9 506 до ближайших тысячных.

5) Округлите 453 975 до ближайших ста тысячных.

6) Округлите 534 644 до ближайших ста тысячных.

7) Округлите 40 673 282 до ближайших ста тысячных.

8) Округлите 126 324 до ближайших десяти тысячных.

9) Округлите 950 до ближайших сотых.

10) Округлите 728 779 до ближайших тысячных.

11) Округлите 82 189 до ближайших десяти тысячных.

12) Округлите 681 152 до ближайших тысячных.

Ответы

1. _____
2. _____
3. _____
4. _____
5. _____
6. _____
7. _____
8. _____
9. _____
10. _____
11. _____
12. _____

1-10	92	83	75	67	58	50	42	33	25	17
11-12	8	0								

Округление по числовым прямым

Имя: **Ключ к правильным ответам**

Обозначьте местоположение (приблизительное) на числовой прямой при решении.

1) Округлите 52 817 до ближайших десяти тысячных.

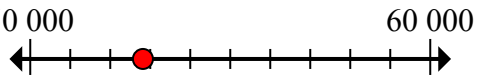

2) Округлите 820 860 до ближайших сотых.

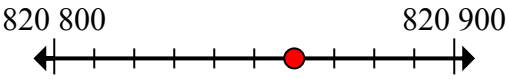

3) Округлите 666 641 до ближайших десяти тысячных.

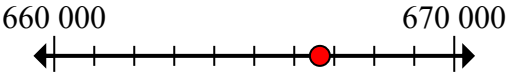

4) Округлите 9 506 до ближайших тысячных.

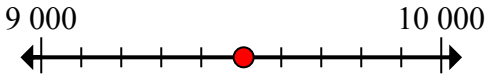

5) Округлите 453 975 до ближайших ста тысячных.

6) Округлите 534 644 до ближайших ста тысячных.

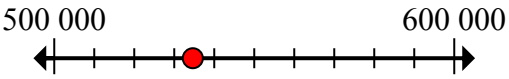

7) Округлите 40 673 282 до ближайших ста тысячных.

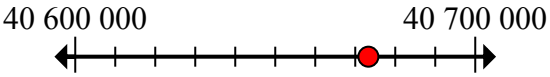

8) Округлите 126 324 до ближайших десяти тысячных.

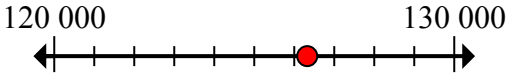

9) Округлите 950 до ближайших сотых.

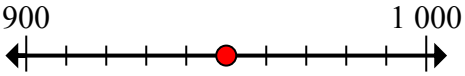

10) Округлите 728 779 до ближайших тысячных.

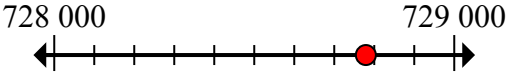

11) Округлите 82 189 до ближайших десяти тысячных.

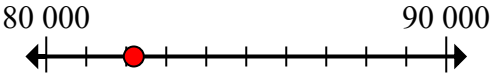

12) Округлите 681 152 до ближайших тысячных.

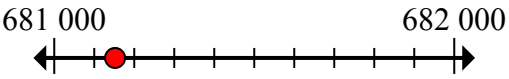

Ответы

1. **50 000**
2. **820 900**
3. **670 000**
4. **10 000**
5. **500 000**
6. **500 000**
7. **40 700 000**
8. **130 000**
9. **1 000**
10. **729 000**
11. **80 000**
12. **681 000**

1-10	92	83	75	67	58	50	42	33	25	17
11-12	8	0								

Округление по числовым прямым Имя:

Обозначьте местоположение (приблизительное) на числовой прямой при решении.

670 000	80 000	681 000	729 000
500 000	130 000	50 000	10 000
40 700 000	500 000	1 000	820 900

1) Округлите 52 817 до ближайших десяти тысячных.

2) Округлите 820 860 до ближайших сотых.

3) Округлите 666 641 до ближайших десяти тысячных.

4) Округлите 9 506 до ближайших тысячных.

5) Округлите 453 975 до ближайших ста тысячных.

6) Округлите 534 644 до ближайших ста тысячных.

7) Округлите 40 673 282 до ближайших ста тысячных.

8) Округлите 126 324 до ближайших десяти тысячных.

9) Округлите 950 до ближайших сотых.

10) Округлите 728 779 до ближайших тысячных.

11) Округлите 82 189 до ближайших десяти тысячных.

12) Округлите 681 152 до ближайших тысячных.

Ответы

1. _____
2. _____
3. _____
4. _____
5. _____
6. _____
7. _____
8. _____
9. _____
10. _____
11. _____
12. _____

1-10	92	83	75	67	58	50	42	33	25	17
11-12	8	0								