Нахождение пропорций(визуальное)

Имя:

Решите каждую задачу.

об) Каково соотношение звезд(ы) и пятиугольников(ка)?

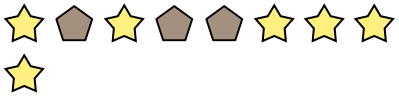

1) Каково соотношение кругов(га) и пятиугольников(ка)?

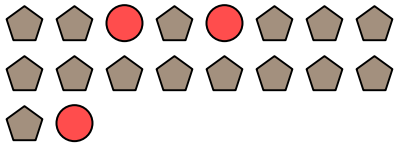

2) Каково соотношение кругов(га) и луны ?

3) Каково соотношение треугольников(ка) и луны ?



4) Каково соотношение кругов(га) и квадратов(та)?

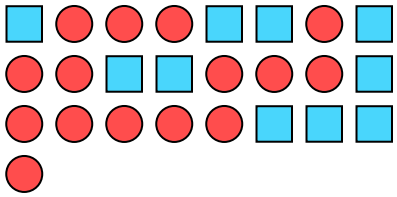

5) Каково соотношение сердца и звезд(ы)?

6) Каково соотношение кругов(га) и треугольников(ка)?

7) Каково соотношение сердца и пятиугольников(ка)?

8) Каково соотношение пятиугольников(ка) и звезд(ы)?

9) Каково соотношение звезд(ы) и треугольников(ка)?



10) Каково соотношение квадратов(та) и луны ?



11) Каково соотношение звезд(ы) и кругов(га)?



Ответы

об. 6:3

1. _____

2. _____

3. _____

4. _____

5. _____

6. _____

7. _____

8. _____

9. _____

10. _____

11. _____

1-10	91	82	73	64	55	45	36	27	18	9
11	0									

Нахождение пропорций(визуальное)

Имя: **Ключ к правильным ответам**

Решите каждую задачу.

об) Каково соотношение звезд(ы) и пятиугольников(ка)?

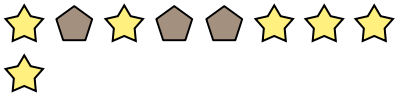

1) Каково соотношение кругов(га) и пятиугольников(ка)?

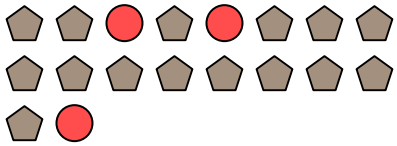

2) Каково соотношение кругов(га) и луны ?

3) Каково соотношение треугольников(ка) и луны ?



4) Каково соотношение кругов(га) и квадратов(та)?

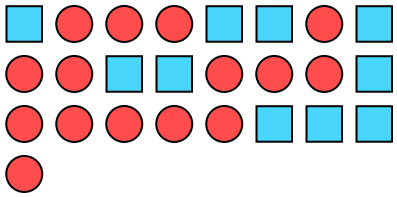

5) Каково соотношение сердца и звезд(ы)?

6) Каково соотношение кругов(га) и треугольников(ка)?

7) Каково соотношение сердца и пятиугольников(ка)?

8) Каково соотношение пятиугольников(ка) и звезд(ы)?

9) Каково соотношение звезд(ы) и треугольников(ка)?



10) Каково соотношение квадратов(та) и луны ?



11) Каково соотношение звезд(ы) и кругов(га)?



Ответы

об.	6:3
1.	3:15
2.	4:5
3.	4:13
4.	15:10
5.	2:13
6.	3:4
7.	5:6
8.	5:4
9.	5:15
10.	8:15
11.	13:6

1-10	91	82	73	64	55	45	36	27	18	9
11	0									