Нахождение пропорций(визуальное)

Имя:

Решите каждую задачу.

об) Каково соотношение треугольников(ка) и пятиугольников(ка)?

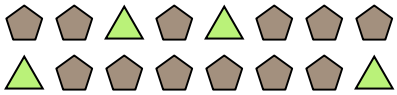

1) Каково соотношение звезд(ы) и луны ?

2) Каково соотношение луны и квадратов(та)?



3) Каково соотношение пятиугольников(ка) и луны ?



4) Каково соотношение звезд(ы) и пятиугольников(ка)?

5) Каково соотношение луны и квадратов(та)?



6) Каково соотношение звезд(ы) и кругов(га)?

7) Каково соотношение кругов(га) и звезд(ы)?



8) Каково соотношение кругов(га) и луны ?



9) Каково соотношение пятиугольников(ка) и звезд(ы)?

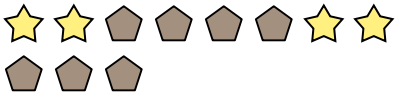

10) Каково соотношение пятиугольников(ка) и кругов(га)?

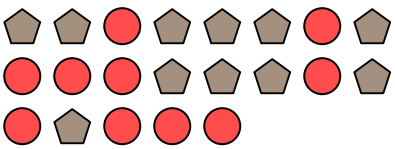

11) Каково соотношение квадратов(та) и сердца ?



Ответы

об. 4:12

1. _____
2. _____
3. _____
4. _____
5. _____
6. _____
7. _____
8. _____
9. _____
10. _____
11. _____

1-10	91	82	73	64	55	45	36	27	18	9
11	0									

Нахождение пропорций(визуальное)

Имя: **Ключ к правильным ответам**

Решите каждую задачу.

об) Каково соотношение треугольников(ка) и пятиугольников(ка)?

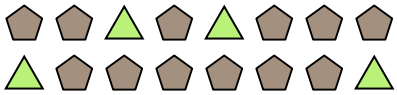

1) Каково соотношение звезд(ы) и луны ?

2) Каково соотношение луны и квадратов(та)?



3) Каково соотношение пятиугольников(ка) и луны ?



4) Каково соотношение звезд(ы) и пятиугольников(ка)?

5) Каково соотношение луны и квадратов(та)?



6) Каково соотношение звезд(ы) и кругов(га)?

7) Каково соотношение кругов(га) и звезд(ы)?



8) Каково соотношение кругов(га) и луны ?



9) Каково соотношение пятиугольников(ка) и звезд(ы)?

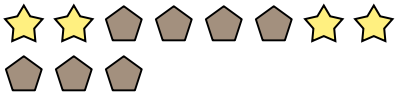

10) Каково соотношение пятиугольников(ка) и кругов(га)?

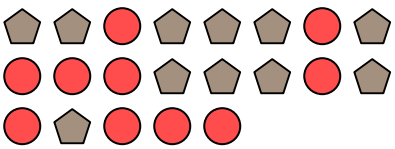

11) Каково соотношение квадратов(та) и сердца ?



Ответы

об.	4:12
1.	9:12
2.	2:13
3.	10:13
4.	12:5
5.	15:11
6.	7:9
7.	12:7
8.	8:15
9.	7:4
10.	11:10
11.	4:6

1-10	91	82	73	64	55	45	36	27	18	9
11	0									