Нахождение пропорций(визуальное) Имя:

Решите каждую задачу.

об) Каково соотношение звезд(ы) и пятиугольников(ка)?



1) Каково соотношение пятиугольников(ка) и звезд(ы)?

2) Каково соотношение сердца и квадратов(та)?

3) Каково соотношение пятиугольников(ка) и звезд(ы)?

4) Каково соотношение звезд(ы) и кругов(га)?



5) Каково соотношение кругов(га) и пятиугольников(ка)?

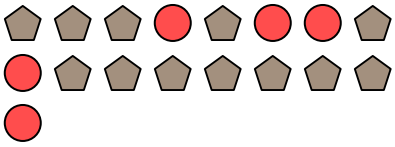

6) Каково соотношение пятиугольников(ка) и сердца ?



7) Каково соотношение треугольников(ка) и пятиугольников(ка)?

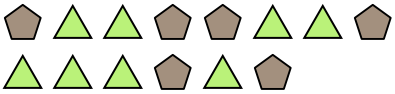

8) Каково соотношение квадратов(та) и кругов(га)?

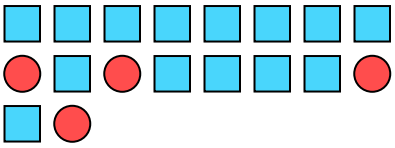

9) Каково соотношение звезд(ы) и пятиугольников(ка)?

10) Каково соотношение луны и сердца ?

11) Каково соотношение луны и квадратов(та)?

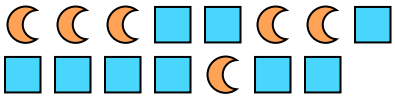

Ответы

об. 15:10

1. _____

2. _____

3. _____

4. _____

5. _____

6. _____

7. _____

8. _____

9. _____

10. _____

11. _____

1-10	91	82	73	64	55	45	36	27	18	9
11	0									

Нахождение пропорций(визуальное)

Имя: Ключ к правильным ответам

Решите каждую задачу.

об) Каково соотношение звезд(ы) и пятиугольников(ка)?



1) Каково соотношение пятиугольников(ка) и звезд(ы)?

2) Каково соотношение сердца и квадратов(та)?

3) Каково соотношение пятиугольников(ка) и звезд(ы)?

4) Каково соотношение звезд(ы) и кругов(га)?



5) Каково соотношение кругов(га) и пятиугольников(ка)?

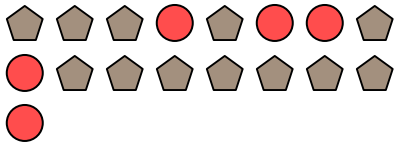

6) Каково соотношение пятиугольников(ка) и сердца ?



7) Каково соотношение треугольников(ка) и пятиугольников(ка)?

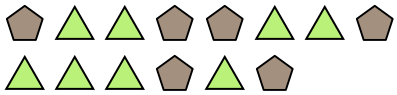

8) Каково соотношение квадратов(та) и кругов(га)?

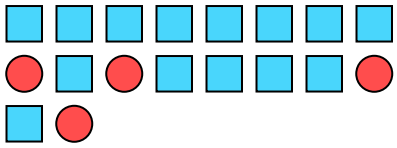

9) Каково соотношение звезд(ы) и пятиугольников(ка)?

10) Каково соотношение луны и сердца ?

11) Каково соотношение луны и квадратов(та)?

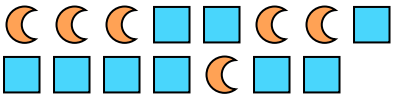

Ответы

об.	15:10
1.	8:12
2.	10:2
3.	11:5
4.	3:10
5.	5:12
6.	14:15
7.	8:6
8.	14:4
9.	7:5
10.	8:5
11.	6:9

1-10	91	82	73	64	55	45	36	27	18	9
11	0									