Нахождение пропорций(визуальное) Имя:

Решите каждую задачу.

об) Каково соотношение треугольников(ка) и кругов(га)?

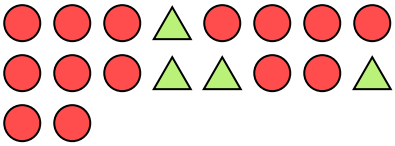

1) Каково соотношение луны и пятиугольников(ка)?

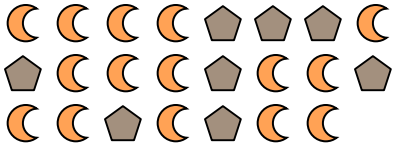

2) Каково соотношение кругов(га) и звезд(ы)?

3) Каково соотношение квадратов(та) и треугольников(ка)?

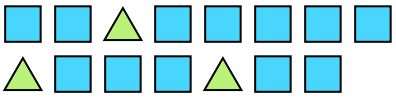

4) Каково соотношение треугольников(ка) и пятиугольников(ка)?

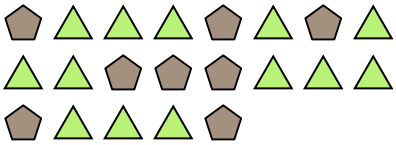

5) Каково соотношение треугольников(ка) и сердца ?

6) Каково соотношение луны и кругов(га)?

7) Каково соотношение кругов(га) и луны ?



8) Каково соотношение луны и звезд(ы)?

9) Каково соотношение звезд(ы) и пятиугольников(ка)?



10) Каково соотношение кругов(га) и луны ?



11) Каково соотношение пятиугольников(ка) и луны ?

Ответы

об. 4:14

1. _____

2. _____

3. _____

4. _____

5. _____

6. _____

7. _____

8. _____

9. _____

10. _____

11. _____

1-10	91	82	73	64	55	45	36	27	18	9
11	0									

Нахождение пропорций(визуальное)

Имя: **Ключ к правильным ответам**

Решите каждую задачу.

об) Каково соотношение треугольников(ка) и кругов(га)?

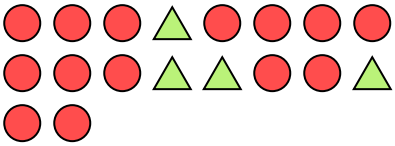

1) Каково соотношение луны и пятиугольников(ка)?

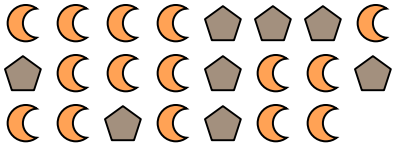

2) Каково соотношение кругов(га) и звезд(ы)?

3) Каково соотношение квадратов(та) и треугольников(ка)?

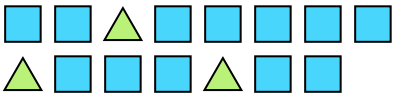

4) Каково соотношение треугольников(ка) и пятиугольников(ка)?

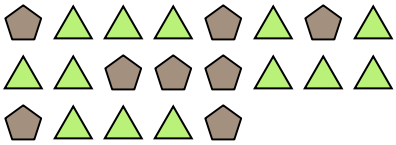

5) Каково соотношение треугольников(ка) и сердца ?

6) Каково соотношение луны и кругов(га)?

7) Каково соотношение кругов(га) и луны ?



8) Каково соотношение луны и звезд(ы)?

9) Каково соотношение звезд(ы) и пятиугольников(ка)?



10) Каково соотношение кругов(га) и луны ?



11) Каково соотношение пятиугольников(ка) и луны ?

Ответы

об.	4:14
1.	15:8
2.	9:7
3.	12:3
4.	13:8
5.	4:10
6.	5:4
7.	11:12
8.	7:5
9.	6:13
10.	8:15
11.	2:3

1-10	91	82	73	64	55	45	36	27	18	9
11	0									