Нахождение пропорций(визуальное)

Имя:

Решите каждую задачу.

об) Каково соотношение треугольников(ка) и звезд(ы)?

1) Каково соотношение кругов(га) и треугольников(ка)?

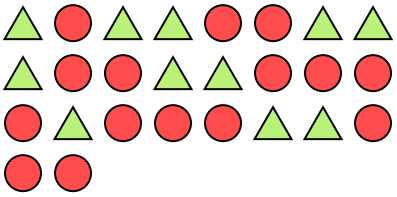

2) Каково соотношение пятиугольников(ка) и луны ?

3) Каково соотношение квадратов(та) и пятиугольников(ка)?

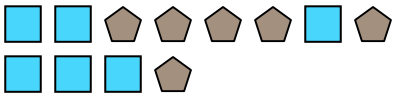

4) Каково соотношение луны и сердца ?



5) Каково соотношение кругов(га) и пятиугольников(ка)?

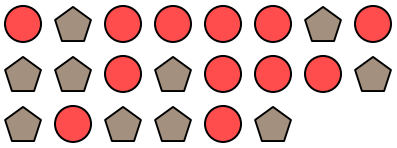

6) Каково соотношение треугольников(ка) и звезд(ы)?

7) Каково соотношение сердца и кругов(га)?



8) Каково соотношение сердца и кругов(га)?



9) Каково соотношение сердца и кругов(га)?



10) Каково соотношение квадратов(та) и луны ?



11) Каково соотношение треугольников(ка) и пятиугольников(ка)?

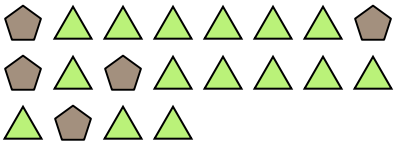

Ответы

об. 3:9

1. _____

2. _____

3. _____

4. _____

5. _____

6. _____

7. _____

8. _____

9. _____

10. _____

11. _____

1-10	91	82	73	64	55	45	36	27	18	9
11	0									

Нахождение пропорций(визуальное)

Имя: **Ключ к правильным ответам**

Решите каждую задачу.

об) Каково соотношение треугольников(ка) и звезд(ы)?

1) Каково соотношение кругов(га) и треугольников(ка)?

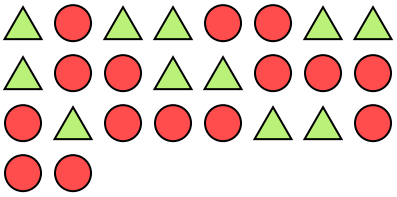

2) Каково соотношение пятиугольников(ка) и луны ?

3) Каково соотношение квадратов(та) и пятиугольников(ка)?

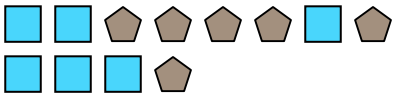

4) Каково соотношение луны и сердца ?



5) Каково соотношение кругов(га) и пятиугольников(ка)?

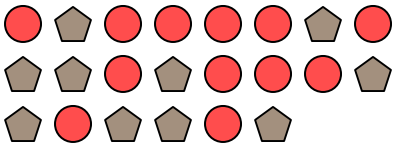

6) Каково соотношение треугольников(ка) и звезд(ы)?

7) Каково соотношение сердца и кругов(га)?



8) Каково соотношение сердца и кругов(га)?



9) Каково соотношение сердца и кругов(га)?



10) Каково соотношение квадратов(та) и луны ?



11) Каково соотношение треугольников(ка) и пятиугольников(ка)?

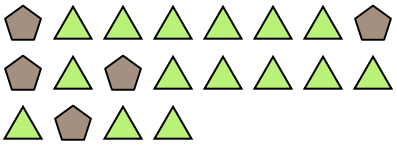

Ответы

об.	3:9
1.	15:11
2.	4:11
3.	6:6
4.	8:14
5.	12:10
6.	6:4
7.	8:11
8.	15:8
9.	5:9
10.	6:13
11.	15:5

1-10	91	82	73	64	55	45	36	27	18	9
11	0									