Нахождение пропорций(визуальное) Имя:

Решите каждую задачу.

об) Каково соотношение треугольников(ка) и квадратов(та)?

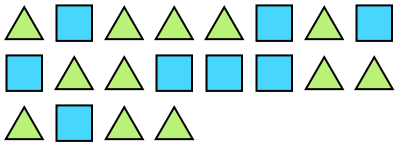

1) Каково соотношение звезд(ы) и квадратов(та)?



2) Каково соотношение луны и звезд(ы)?

3) Каково соотношение луны и звезд(ы)?

4) Каково соотношение звезд(ы) и сердца ?



5) Каково соотношение треугольников(ка) и сердца ?

6) Каково соотношение сердца и луны ?

7) Каково соотношение сердца и звезд(ы)?

8) Каково соотношение сердца и кругов(га)?



9) Каково соотношение квадратов(та) и пятиугольников(ка)?

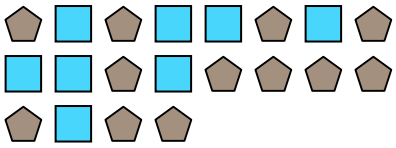

10) Каково соотношение сердца и пятиугольников(ка)?

11) Каково соотношение квадратов(та) и звезд(ы)?



Ответы

об. 12:8

1. _____

2. _____

3. _____

4. _____

5. _____

6. _____

7. _____

8. _____

9. _____

10. _____

11. _____

1-10	91	82	73	64	55	45	36	27	18	9
11	0									

Нахождение пропорций(визуальное)

Имя: **Ключ к правильным ответам**

Решите каждую задачу.

об) Каково соотношение треугольников(ка) и квадратов(та)?

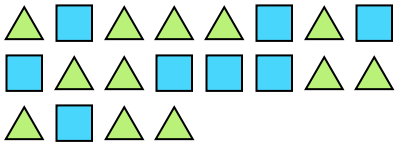

1) Каково соотношение звезд(ы) и квадратов(та)?



2) Каково соотношение луны и звезд(ы)?

3) Каково соотношение луны и звезд(ы)?

4) Каково соотношение звезд(ы) и сердца ?



5) Каково соотношение треугольников(ка) и сердца ?

6) Каково соотношение сердца и луны ?

7) Каково соотношение сердца и звезд(ы)?

8) Каково соотношение сердца и кругов(га)?



9) Каково соотношение квадратов(та) и пятиугольников(ка)?

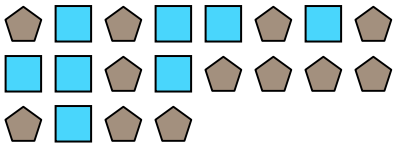

10) Каково соотношение сердца и пятиугольников(ка)?

11) Каково соотношение квадратов(та) и звезд(ы)?



Ответы

об.	12:8
1.	3:9
2.	11:2
3.	10:4
4.	8:11
5.	8:6
6.	2:10
7.	9:13
8.	9:7
9.	8:12
10.	4:2
11.	13:14

1-10	91	82	73	64	55	45	36	27	18	9
11	0									