Нахождение пропорций(визуальное)

Имя:

Решите каждую задачу.

об) Каково соотношение луны и звезд(ы)?

1) Каково соотношение луны и треугольников(ка)?



2) Каково соотношение сердца и квадратов(та)?



3) Каково соотношение треугольников(ка) и сердца ?



4) Каково соотношение звезд(ы) и сердца ?

5) Каково соотношение звезд(ы) и треугольников(ка)?

6) Каково соотношение пятиугольников(ка) и луны ?



7) Каково соотношение кругов(га) и квадратов(та)?

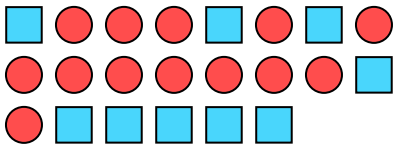

8) Каково соотношение звезд(ы) и пятиугольников(ка)?

9) Каково соотношение треугольников(ка) и звезд(ы)?

10) Каково соотношение звезд(ы) и кругов(га)?

11) Каково соотношение звезд(ы) и сердца ?

Ответы

об. 5:10

1. _____

2. _____

3. _____

4. _____

5. _____

6. _____

7. _____

8. _____

9. _____

10. _____

11. _____

1-10	91	82	73	64	55	45	36	27	18	9
11	0									

Нахождение пропорций(визуальное)

Имя: **Ключ к правильным ответам**

Решите каждую задачу.

об) Каково соотношение луны и звезд(ы)?

1) Каково соотношение луны и треугольников(ка)?



2) Каково соотношение сердца и квадратов(та)?



3) Каково соотношение треугольников(ка) и сердца ?



4) Каково соотношение звезд(ы) и сердца ?

5) Каково соотношение звезд(ы) и треугольников(ка)?

6) Каково соотношение пятиугольников(ка) и луны ?



7) Каково соотношение кругов(га) и квадратов(та)?

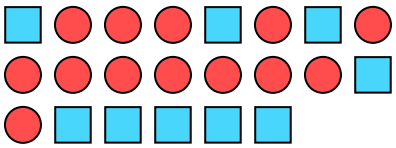

8) Каково соотношение звезд(ы) и пятиугольников(ка)?

9) Каково соотношение треугольников(ка) и звезд(ы)?

10) Каково соотношение звезд(ы) и кругов(га)?

11) Каково соотношение звезд(ы) и сердца ?

Ответы

об.	5:10
1.	14:13
2.	11:7
3.	14:15
4.	8:3
5.	2:3
6.	4:5
7.	13:9
8.	15:7
9.	10:8
10.	2:4
11.	2:11

1-10	91	82	73	64	55	45	36	27	18	9
11	0									