Нахождение пропорций(визуальное)

Имя:

Решите каждую задачу.

об) Каково соотношение пятиугольников(ка) и треугольников(ка)?

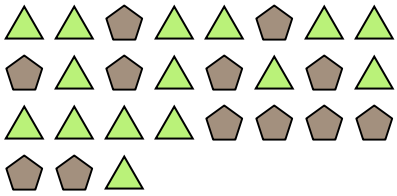

1) Каково соотношение кругов(га) и луны ?



2) Каково соотношение звезд(ы) и квадратов(та)?



3) Каково соотношение луны и пятиугольников(ка)?

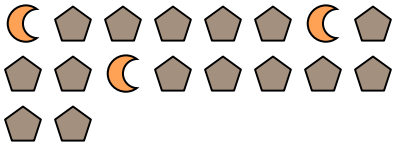

4) Каково соотношение сердца и луны ?

5) Каково соотношение звезд(ы) и треугольников(ка)?

6) Каково соотношение луны и звезд(ы)?

7) Каково соотношение пятиугольников(ка) и сердца ?



8) Каково соотношение пятиугольников(ка) и звезд(ы)?

9) Каково соотношение кругов(га) и луны ?



10) Каково соотношение звезд(ы) и луны ?

11) Каково соотношение треугольников(ка) и пятиугольников(ка)?

Ответы

об. 12:15

1. _____
2. _____
3. _____
4. _____
5. _____
6. _____
7. _____
8. _____
9. _____
10. _____
11. _____

1-10	91	82	73	64	55	45	36	27	18	9
11	0									

Нахождение пропорций(визуальное)

Имя: **Ключ к правильным ответам**

Решите каждую задачу.

об) Каково соотношение пятиугольников(ка) и треугольников(ка)?

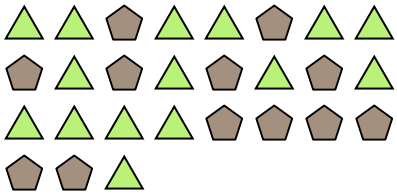

1) Каково соотношение кругов(га) и луны ?



2) Каково соотношение звезд(ы) и квадратов(та)?



3) Каково соотношение луны и пятиугольников(ка)?

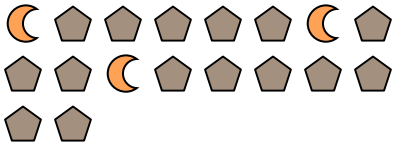

4) Каково соотношение сердца и луны ?

5) Каково соотношение звезд(ы) и треугольников(ка)?

6) Каково соотношение луны и звезд(ы)?

7) Каково соотношение пятиугольников(ка) и сердца ?



8) Каково соотношение пятиугольников(ка) и звезд(ы)?

9) Каково соотношение кругов(га) и луны ?



10) Каково соотношение звезд(ы) и луны ?

11) Каково соотношение треугольников(ка) и пятиугольников(ка)?

Ответы

об.	12:15
1.	11:11
2.	7:9
3.	3:15
4.	9:2
5.	4:11
6.	12:8
7.	8:10
8.	11:2
9.	15:11
10.	4:5
11.	11:3

1-10	91	82	73	64	55	45	36	27	18	9
11	0									