Чтение кругового графика Имя:

Используйте график при решении.

Любимый супер-герой

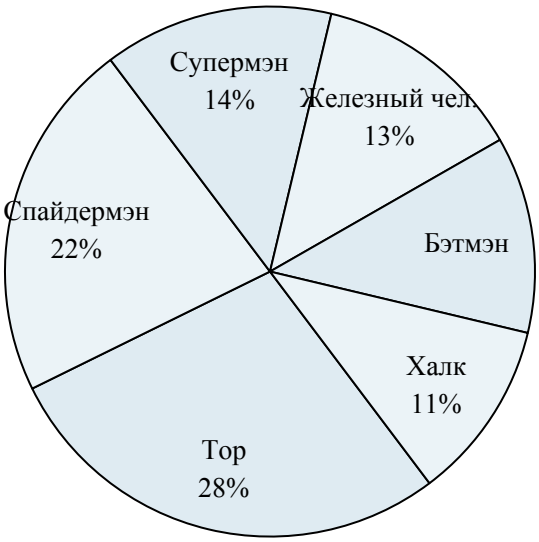

1) Каких двух героев предпочли почти половина опрашиваемых?

2) Сколько процентов голосов заработал {VAR1}?

3) Какой герой самый непопулярный?

4) Какой герой самый популярный?

5) Сколько процентов голосов заработали Железный чел. и Бэтмэн ?

Любимый герой игры

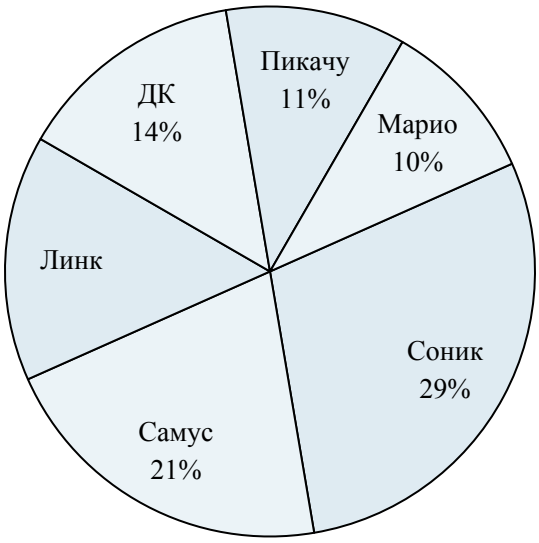

6) Сколько процентов голосов заработали Линк и Марио ?

7) Какой герой самый популярный?

8) Сколько процентов голосов заработал {VAR1}?

9) За каких двух героев проголосовали почти половина опрашиваемых?

10) Какой герой самый непопулярный?

Ответы

1. _____
2. _____
3. _____
4. _____
5. _____
6. _____
7. _____
8. _____
9. _____
10. _____

1-10	90	80	70	60	50	40	30	20	10	0

Чтение кругового графика

Имя: Ключ к правильным ответам

Используйте график при решении.

Любимый супер-герой

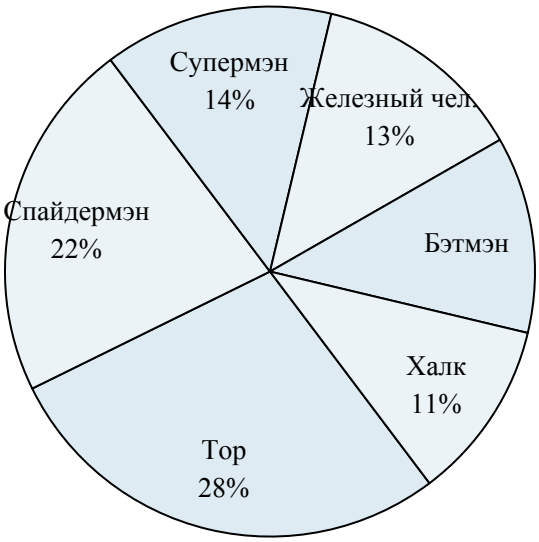

1) Каких двух героев предпочли почти половина опрашиваемых?
2) Сколько процентов голосов заработал {VAR1}?
3) Какой герой самый непопулярный?
4) Какой герой самый популярный?
5) Сколько процентов голосов заработали Железный чел. и Бэтмэн ?

Любимый герой игры

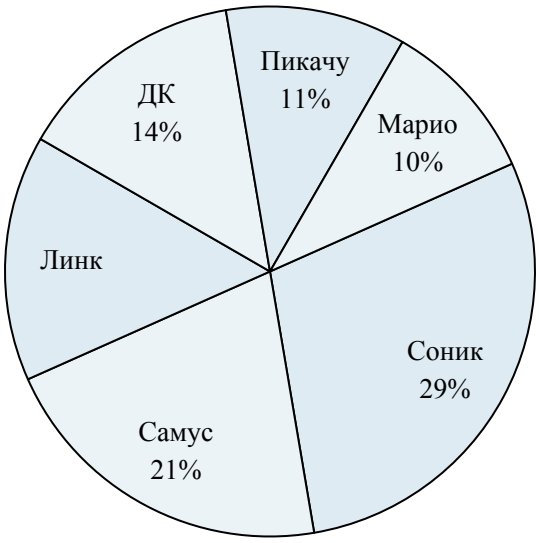

6) Сколько процентов голосов заработали Линк и Марио ?
7) Какой герой самый популярный?
8) Сколько процентов голосов заработал {VAR1}?
9) За каких двух героев проголосовали почти половина опрашиваемых?
10) Какой герой самый непопулярный?

Ответы

1. Тор & Спайдермэн
2. 11%
3. Халк
4. Тор
5. 25%
6. 25%
7. Соник
8. 21%
9. Соник & Самус
10. Марио

1-10	90	80	70	60	50	40	30	20	10	0