Чтение кругового графика Имя:

Используйте график при решении.

Результаты голосования в классе

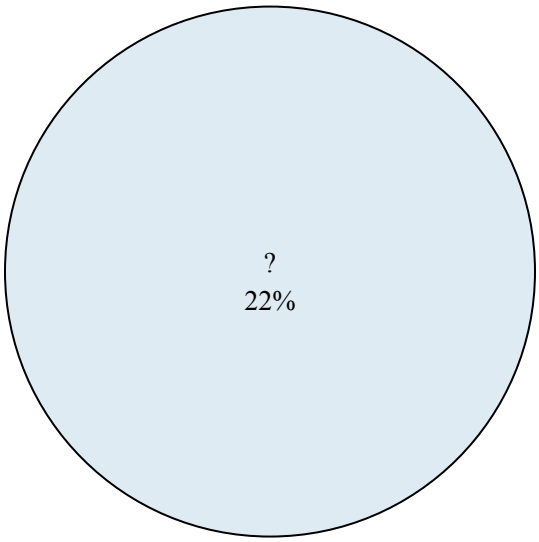

1) Кто выйграл голосование?

2) Сколько процентов голосов получил(а) {VAR1}?

3) Кто набрал меньшее число голосов?

4) Сколько процентов голосов получили ? и ??

5) За каких двух кандидатов проголосовала половина голосовавших?

Любимый супер-герой

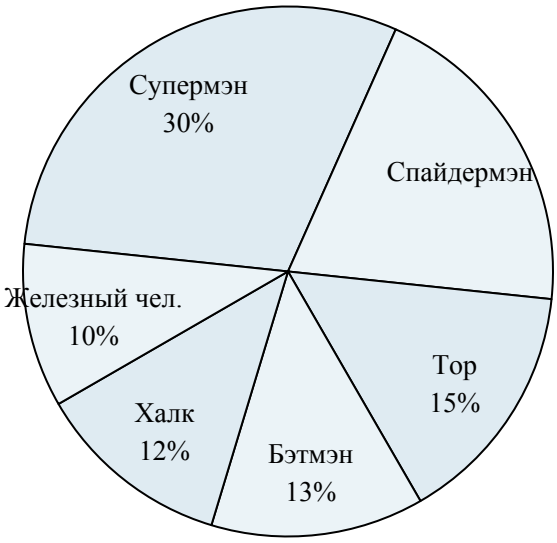

6) Какой герой самый непопулярный?

7) Сколько процентов голосов заработал {VAR1}?

8) Сколько процентов голосов заработали Спайдермэн и Тор ?

9) Какой герой самый популярный?

10) Каких двух героев предпочли почти половина опрашиваемых?

Ответы

1. _____
2. _____
3. _____
4. _____
5. _____
6. _____
7. _____
8. _____
9. _____
10. _____

1-10	90	80	70	60	50	40	30	20	10	0

Используйте график при решении.

Результаты голосования в классе

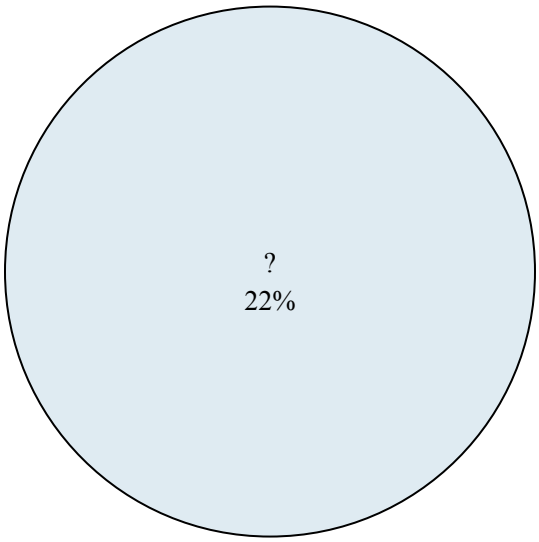

1) Кто выйграл голосование?

2) Сколько процентов голосов получил(а) {VAR1}?

3) Кто набрал меньшее число голосов?

4) Сколько процентов голосов получили ? и ??

5) За каких двух кандидатов проголосовала половина голосовавших?

Любимый супер-герой

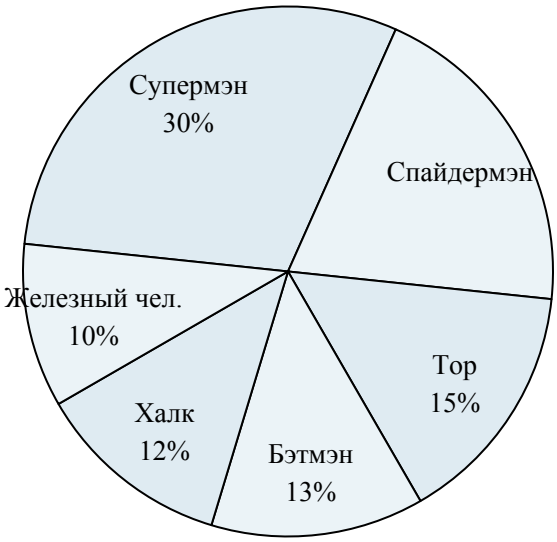

6) Какой герой самый непопулярный?

7) Сколько процентов голосов заработал {VAR1}?

8) Сколько процентов голосов заработали Спайдермэн и Тор ?

9) Какой герой самый популярный?

10) Каких двух героев предпочли почти половина опрашиваемых?

Ответы

1. ?
2. 22%
3. ?
4. 44%
5. ? &
6. Железный чел.
7. 12%
8. 35%
9. Супермэн
10. Супермэн & Спайдермэн

1-10	90	80	70	60	50	40	30	20	10	0