Сравнение скорости изменения Имя:

Определите, какая функция имеет большее изменение скорости. Если ставка такая же, ответьте «одинаково».

1) A.

Вход	Выход
-1	-15
0	0
1	15
2	30

B.

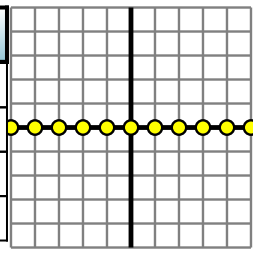

2) A.

Вход	Выход
-1	-24
0	0
1	24
2	48

B.

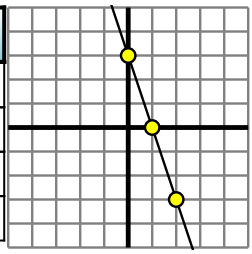

3) A.

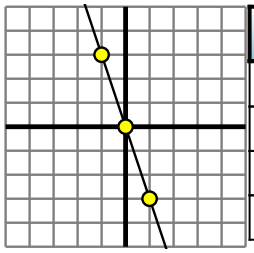

B.

Вход	Выход
-1	-3
0	-2
1	-1
2	0

4) A.

Вход	Выход
-9	-11
-6	-8
-5	-7
1	-1
9	7

B.

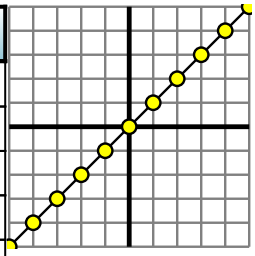

5) A.

Вход	Выход
-1	-6
0	0
1	6
2	12

B.

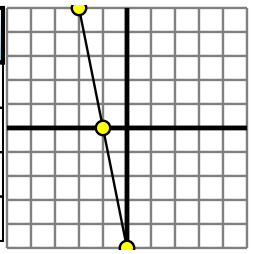

6) A.

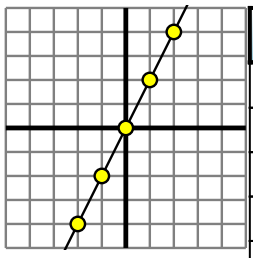

B.

Вход	Выход
-8	-26
-1	-5
1	1
2	4
9	25

7) A.

Вход	Выход
-7	-13
-5	-11
4	-2
7	1
8	2

B.

Вход	Выход
-1	-9
0	0
1	9
2	18

8) A.

Вход	Выход
-8	-64
-1	-8
3	24
7	56
9	72

B.

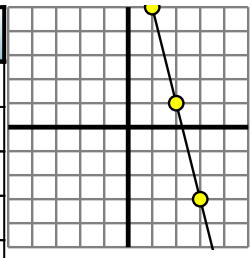

Ответы

1. _____
2. _____
3. _____
4. _____
5. _____
6. _____
7. _____
8. _____

Сравнение скорости изменения

Имя: Ключ к правильным ответам

Определите, какая функция имеет большее изменение скорости. Если ставка такая же, ответьте «одинаково».

1) A.

Вход	Выход
-1	-15
0	0
1	15
2	30

B.

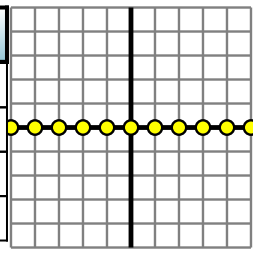

2) A.

Вход	Выход
-1	-24
0	0
1	24
2	48

B.

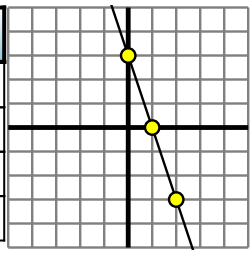

3) A.

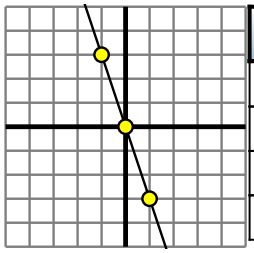

B.

Вход	Выход
-1	-3
0	-2
1	-1
2	0

4) A.

Вход	Выход
-9	-11
-6	-8
-5	-7
1	-1
9	7

B.

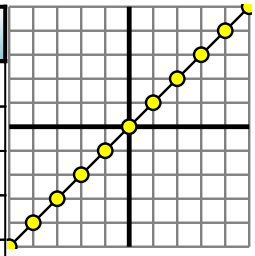

5) A.

Вход	Выход
-1	-6
0	0
1	6
2	12

B.

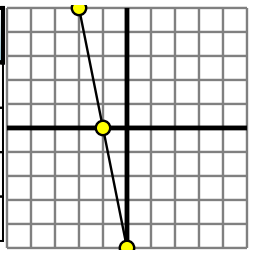

6) A.

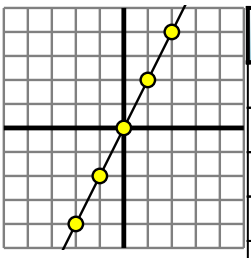

B.

Вход	Выход
-8	-26
-1	-5
1	1
2	4
9	25

7) A.

Вход	Выход
-7	-13
-5	-11
4	-2
7	1
8	2

B.

Вход	Выход
-1	-9
0	0
1	9
2	18

8) A.

Вход	Выход
-8	-64
-1	-8
3	24
7	56
9	72

B.

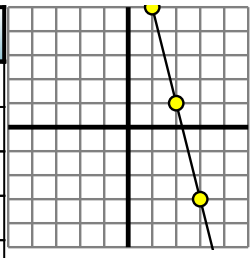

Ответы

1. A
2. A
3. A
4. то же самое
5. A
6. B
7. B
8. A