Используйте числовую прямую для нахождения абсолютной величины.

1) a. Каково значение A?

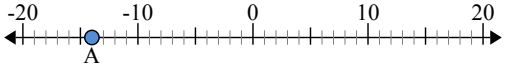

b. На каком расстоянии A от 0 (абсолютной величины)?

2) a. Каково значение A?

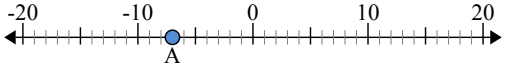

b. На каком расстоянии A от 0 (абсолютной величины)?

3) a. Каково значение A?

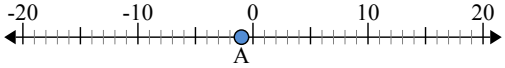

Ответы

1. _____ _____
2. _____ _____
3. _____ _____
4. _____ _____
5. _____ _____
6. _____ _____
7. _____ _____
8. _____ _____
9. _____ _____
10. _____ _____

1-10	90	80	70	60	50	40	30	20	10	0

Используйте числовую прямую для нахождения абсолютной величины.

1) a. Каково значение A?

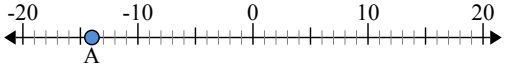

b. На каком расстоянии A от 0 (абсолютной величины)?

2) a. Каково значение A?

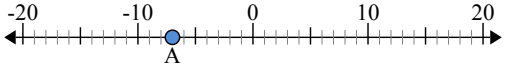

b. На каком расстоянии A от 0 (абсолютной величины)?

3) a. Каково значение A?

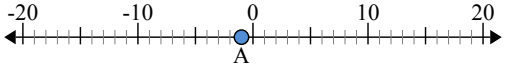

Ответы

1.	-14	14
2.	-7	7
3.	-1	1
4.	10	10
5.	20	20
6.	5	5
7.	-17	17
8.	-6	6
9.	12	12
10.	-2	2

1-10	90	80	70	60	50	40	30	20	10	0