Понимание абсолютной величины Имя:

Используйте числовую прямую для нахождения абсолютной величины.

1) a. Каково значение A?

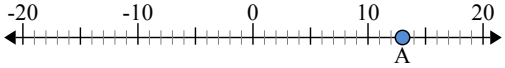

b. На каком расстоянии A от 0 (абсолютной величины)?

2) a. Каково значение A?

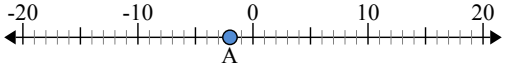

b. На каком расстоянии A от 0 (абсолютной величины)?

3) a. Каково значение A?

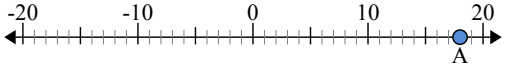

Ответы

1. _____ _____
2. _____ _____
3. _____ _____
4. _____ _____
5. _____ _____
6. _____ _____
7. _____ _____
8. _____ _____
9. _____ _____
10. _____ _____

1-10	90	80	70	60	50	40	30	20	10	0

Используйте числовую прямую для нахождения абсолютной величины.

1) a. Каково значение A?

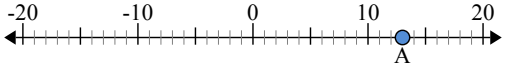

b. На каком расстоянии A от 0 (абсолютной величины)?

2) a. Каково значение A?

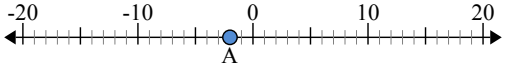

b. На каком расстоянии A от 0 (абсолютной величины)?

3) a. Каково значение A?

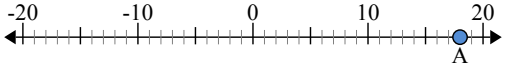

Ответы

1.	13	13
2.	-2	2
3.	18	18
4.	20	20
5.	-3	3
6.	4	4
7.	-6	6
8.	0	0
9.	-15	15
10.	-14	14

1-10	90	80	70	60	50	40	30	20	10	0