Отрицательное положение на числовой прямой

Имя:

Решите каждую задачу.

1) Какая буква отражает значение -73



2) Какая буква отражает значение -112



3) Какая буква отражает значение -13



4) Какая буква отражает значение -16



5) Какая буква отражает значение -80

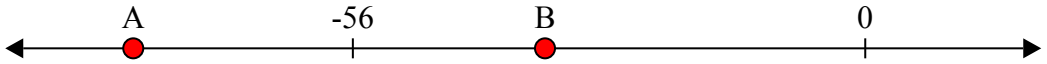

6) Какая буква отражает значение -102



7) Какая буква отражает значение -29



8) Какая буква отражает значение -80



9) Какая буква отражает значение -33



10) Какая буква отражает значение -22



Ответы

1. _____
2. _____
3. _____
4. _____
5. _____
6. _____
7. _____
8. _____
9. _____
10. _____

1-10	90	80	70	60	50	40	30	20	10	0

Отрицательное положение на числовой прямой Имя: **Ключ к правильным ответам**

Решите каждую задачу.

1) Какая буква отражает значение -73

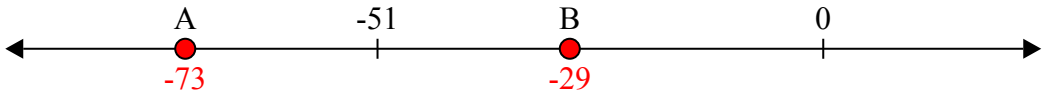

2) Какая буква отражает значение -112

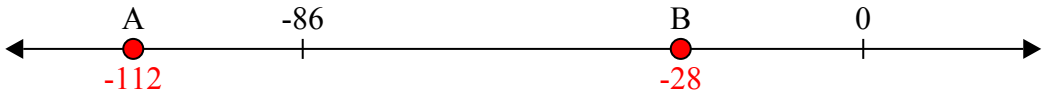

3) Какая буква отражает значение -13

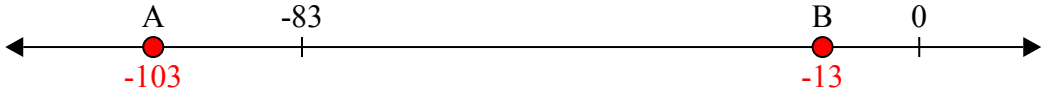

4) Какая буква отражает значение -16

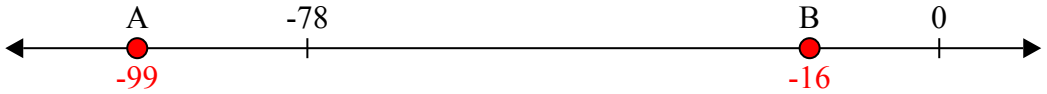

5) Какая буква отражает значение -80

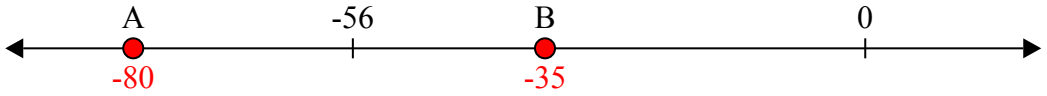

6) Какая буква отражает значение -102

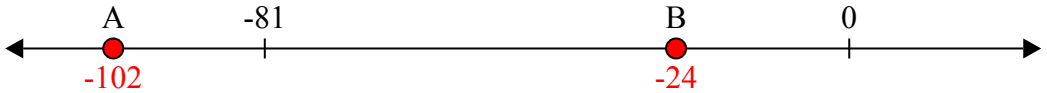

7) Какая буква отражает значение -29

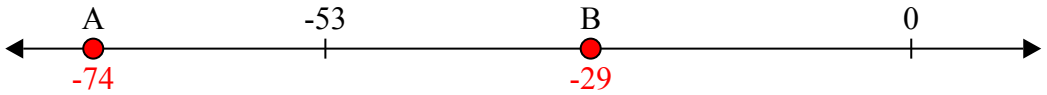

8) Какая буква отражает значение -80

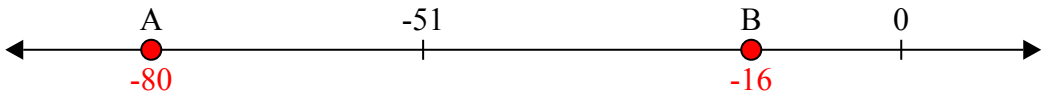

9) Какая буква отражает значение -33

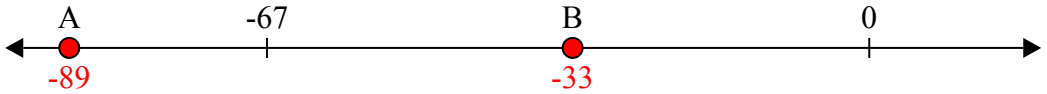

10) Какая буква отражает значение -22

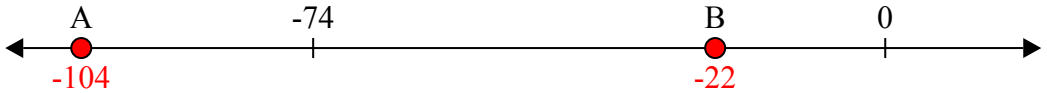

Ответы

1. **A**
2. **A**
3. **B**
4. **B**
5. **A**
6. **A**
7. **B**
8. **A**
9. **B**
10. **B**

1-10	90	80	70	60	50	40	30	20	10	0