Визуальное определение изменений Имя:

Решите каждую задачу.

Ответы

1. _____

2. _____

3. _____

1) На книжной ярмарке ? потратил $6,83 на покупку книг. Он дал кассиру банкнота в двадцать долларов. Сколько сдачи он должен получить обратно?

A.

B.

C.

D.

2) ? купил новую настольную игру за $2,78. Она дала кассиру десятидолларовая купюра. Сколько сдачи ей нужно вернуть?

A.

B.

C.

D. 

3) ? потратил $10,55 на билет в кино. Она дала кассиру банкнота в двадцать долларов. Сколько сдачи ей нужно вернуть?

A.

B.

C.

D.

1-3 | 67 | 33 | 0

Решите каждую задачу.

1) На книжной ярмарке ? потратил $6,83 на покупку книг. Он дал кассиру банкнота в двадцать долларов. Сколько сдачи он должен получить обратно?

A.

B.

C.

D.

2) ? купил новую настольную игру за $2,78. Она дала кассиру десятидолларовая купюра. Сколько сдачи ей нужно вернуть?

A.

B.

C.

D. 

3) ? потратил $10,55 на билет в кино. Она дала кассиру банкнота в двадцать долларов. Сколько сдачи ей нужно вернуть?

A.

B.

C.

D.

Ответы

1. D
2. A
3. A

1-3	67	33	0

Решите каждую задачу.

Ответы

1. _____

2. _____

3. _____

1) ? потратил $12,91 на покупку новых игрушек. Он купил их на банкнота в двадцать долларов. Сколько сдачи он должен получить обратно?

A.

B.

C.

D.

2) На книжной ярмарке ? потратил $1,16 на покупку книг. Он дал кассиру десятидолларовая купюра. Сколько сдачи он должен получить обратно?

A.

B.

C.

D.

3) ? закупил продуктов на $6,97. Он дал кассиру банкнота в двадцать долларов. Сколько сдачи он должен получить обратно?

A.

B. 

C.

D.

1-3	67	33	0

Решите каждую задачу.

1) ? потратил $12,91 на покупку новых игрушек. Он купил их на банкнота в двадцать долларов. Сколько сдачи он должен получить обратно?

A.

B.

C.

D.

2) На книжной ярмарке ? потратил $1,16 на покупку книг. Он дал кассиру десятидолларовая купюра. Сколько сдачи он должен получить обратно?

A.

B.

C.

D.

3) ? закупил продуктов на $6,97. Он дал кассиру банкнота в двадцать долларов. Сколько сдачи он должен получить обратно?

A.

B. 

C.

D.

Ответы

1. A
2. A
3. B

1-3	67	33	0

Решите каждую задачу.

Ответы

1. _____

2. _____

3. _____

1) На ярмарке ? потратил $7,00 на покупку справедливой еды. Она дала кассиру банкнота в двадцать долларов. Сколько сдачи ей нужно вернуть?

A.

B.

C.

D.

2) На книжной ярмарке ? потратил $5,77 на покупку книг. Он дал кассиру десятидолларовая купюра. Сколько сдачи он должен получить обратно?

A. 

B.

C.

D.

3) ? потратил $10,74 на покупку новых игрушек. Он купил их на банкнота в двадцать долларов. Сколько сдачи он должен получить обратно?

A.

B.

C.

D.

1-3	67	33	0

Решите каждую задачу.

1) На ярмарке ? потратил $7,00 на покупку справедливой еды. Она дала кассиру банкнота в двадцать долларов. Сколько сдачи ей нужно вернуть?

A.

B.

C.

D.

2) На книжной ярмарке ? потратил $5,77 на покупку книг. Он дал кассиру десятидолларовая купюра. Сколько сдачи он должен получить обратно?

A. 

B.

C.

D.

3) ? потратил $10,74 на покупку новых игрушек. Он купил их на банкнота в двадцать долларов. Сколько сдачи он должен получить обратно?

A.

B.

C.

D.

Ответы

1. B
2. C
3. C

1-3	67	33	0

Решите каждую задачу.

Ответы

1. _____

2. _____

3. _____

1) ? потратил $7,82 на билет в кино. Она дала кассиру банкнота в двадцать долларов. Сколько сдачи ей нужно вернуть?

A.

B.

C.

D.

2) ? потратил $4,05 на покупку новых игрушек. Он купил их на десятидолларовая купюра. Сколько сдачи он должен получить обратно?

A.

B.

C.

D.

3) На ярмарке ? потратил $18,24 на покупку справедливой еды. Она дала кассиру банкнота в двадцать долларов. Сколько сдачи ей нужно вернуть?

A.

B.

C.

D.

1-3	67	33	0

Решите каждую задачу.

1) ? потратил $7,82 на билет в кино. Она дала кассиру банкнота в двадцать долларов. Сколько сдачи ей нужно вернуть?

A.

B.

C.

D.

2) ? потратил $4,05 на покупку новых игрушек. Он купил их на десятидолларовая купюра. Сколько сдачи он должен получить обратно?

A.

B.

C.

D.

3) На ярмарке ? потратил $18,24 на покупку справедливой еды. Она дала кассиру банкнота в двадцать долларов. Сколько сдачи ей нужно вернуть?

A.

B.

C.

D.

Ответы

1. D
2. A
3. B

1-3	67	33	0

Решите каждую задачу.

Ответы

1. _____

2. _____

3. _____

1) ? потратил $11,22 на покупку новых игрушек. Он купил их на банкнота в двадцать долларов. Сколько сдачи он должен получить обратно?

A.

B.

C.

D.

2) ? закупил продуктов на $7,02. Он дал кассиру десятидолларовая купюра. Сколько сдачи он должен получить обратно?

A.

B.

C.

D.

3) ? потратил $13,83 на билет в кино. Она дала кассиру банкнота в двадцать долларов. Сколько сдачи ей нужно вернуть?

A.

B.

C.

D.

1-3	67	33	0

Решите каждую задачу.

1) ? потратил $11,22 на покупку новых игрушек. Он купил их на банкнота в двадцать долларов. Сколько сдачи он должен получить обратно?

A.

B.

C.

D.

2) ? закупил продуктов на $7,02. Он дал кассиру десятидолларовая купюра. Сколько сдачи он должен получить обратно?

A.

B.

C.

D.

3) ? потратил $13,83 на билет в кино. Она дала кассиру банкнота в двадцать долларов. Сколько сдачи ей нужно вернуть?

A.

B.

C.

D.

Ответы

1. B
2. B
3. A

1-3	67	33	0

Решите каждую задачу.

Ответы

1. _____

2. _____

3. _____

1) ? потратил $10,46 на покупку новых игрушек. Он купил их на банкнота в двадцать долларов. Сколько сдачи он должен получить обратно?

A.

B.

C.

D.

2) ? купил новую настольную игру за $7,90. Она дала кассиру десятидолларовая купюра. Сколько сдачи ей нужно вернуть?

A.

B.

C.

D.

3) На книжной ярмарке ? потратил $12,53 на покупку книг. Он дал кассиру банкнота в двадцать долларов. Сколько сдачи он должен получить обратно?

A.

B.

C.

D.

1-3	67	33	0

Решите каждую задачу.

1) ? потратил $10,46 на покупку новых игрушек. Он купил их на банкнота в двадцать долларов. Сколько сдачи он должен получить обратно?

A.

B.

C.

D.

2) ? купил новую настольную игру за $7,90. Она дала кассиру десятидолларовая купюра. Сколько сдачи ей нужно вернуть?

A.

B.

C.

D.

3) На книжной ярмарке ? потратил $12,53 на покупку книг. Он дал кассиру банкнота в двадцать долларов. Сколько сдачи он должен получить обратно?

A.

B.

C.

D.

Ответы

1. C
2. C
3. C

1-3	67	33	0

Решите каждую задачу.

Ответы

1. _____

2. _____

3. _____

1) На книжной ярмарке ? потратил $4,75 на покупку книг. Он дал кассиру банкнота в двадцать долларов. Сколько сдачи он должен получить обратно?

A. 

B. 

C.

D.

2) ? купил новую настольную игру за $2,44. Она дала кассиру десятидолларовая купюра. Сколько сдачи ей нужно вернуть?

A.

B.

C.

D.

3) ? потратил $2,41 на билет в кино. Она дала кассиру банкнота в двадцать долларов. Сколько сдачи ей нужно вернуть?

A.

B.

C.

D.

1-3	67	33	0

Решите каждую задачу.

1) На книжной ярмарке ? потратил $4,75 на покупку книг. Он дал кассиру банкнота в двадцать долларов. Сколько сдачи он должен получить обратно?

A. 

B. 

C.

D.

2) ? купил новую настольную игру за $2,44. Она дала кассиру десятидолларовая купюра. Сколько сдачи ей нужно вернуть?

A.

B.

C.

D.

3) ? потратил $2,41 на билет в кино. Она дала кассиру банкнота в двадцать долларов. Сколько сдачи ей нужно вернуть?

A.

B.

C.

D.

Ответы

1. B
2. D
3. D

1-3	67	33	0

Решите каждую задачу.

Ответы

1. _____

2. _____

3. _____

1) На ярмарке ? потратил $5,12 на покупку справедливой еды. Она дала кассиру банкнота в двадцать долларов. Сколько сдачи ей нужно вернуть?

A.

B.

C.

D.

2) ? купил новую настольную игру за $7,21. Она дала кассиру десятидолларовая купюра. Сколько сдачи ей нужно вернуть?

A.

B.

C.

D.

3) ? потратил $14,61 на конфеты в торговом центре. Он дал кассиру банкнота в двадцать долларов. Сколько сдачи он должен получить обратно?

A.

B.

C.

D.

1-3	67	33	0

Решите каждую задачу.

1) На ярмарке ? потратил $5,12 на покупку справедливой еды. Она дала кассиру банкнота в двадцать долларов. Сколько сдачи ей нужно вернуть?

A.

B.

C.

D.

2) ? купил новую настольную игру за $7,21. Она дала кассиру десятидолларовая купюра. Сколько сдачи ей нужно вернуть?

A.

B.

C.

D.

3) ? потратил $14,61 на конфеты в торговом центре. Он дал кассиру банкнота в двадцать долларов. Сколько сдачи он должен получить обратно?

A.

B.

C.

D.

Ответы

1. D
2. D
3. D

1-3	67	33	0

Решите каждую задачу.

Ответы

1. _____

2. _____

3. _____

1) ? купил новую настольную игру за $2,06. Она дала кассиру банкнота в двадцать долларов. Сколько сдачи ей нужно вернуть?

A.

B.

C.

D.

2) На книжной ярмарке ? потратил $4,57 на покупку книг. Он дал кассиру десятидолларовая купюра. Сколько сдачи он должен получить обратно?

A.

B.

C.

D.

3) ? потратил $7,50 на билет в кино. Она дала кассиру банкнота в двадцать долларов. Сколько сдачи ей нужно вернуть?

A.

B.

C.

D.

1-3 | 67 | 33 | 0

Решите каждую задачу.

1) ? купил новую настольную игру за $2,06. Она дала кассиру банкнота в двадцать долларов. Сколько сдачи ей нужно вернуть?

A.

B.

C.

D.

2) На книжной ярмарке ? потратил $4,57 на покупку книг. Он дал кассиру десятидолларовая купюра. Сколько сдачи он должен получить обратно?

A.

B.

C.

D.

3) ? потратил $7,50 на билет в кино. Она дала кассиру банкнота в двадцать долларов. Сколько сдачи ей нужно вернуть?

A.

B.

C.

D.

Ответы

1. A
2. A
3. B

1-3	67	33	0

Решите каждую задачу.

Ответы

1. _____

2. _____

3. _____

1) ? потратил $16,71 на конфеты в торговом центре. Он дал кассиру банкнота в двадцать долларов. Сколько сдачи он должен получить обратно?

A.

B.

C.

D.

2) ? закупил продуктов на $8,64. Он дал кассиру десятидолларовая купюра. Сколько сдачи он должен получить обратно?

A.

B.

C.

D.

3) ? потратил $7,33 на покупку новых игрушек. Он купил их на банкнота в двадцать долларов. Сколько сдачи он должен получить обратно?

A.

B.

C.

D.

1-3	67	33	0

Решите каждую задачу.

Ответы

1. A
2. C
3. A

1) ? потратил $16,71 на конфеты в торговом центре. Он дал кассиру банкнота в двадцать долларов. Сколько сдачи он должен получить обратно?

A.

B.

C.

D.

2) ? закупил продуктов на $8,64. Он дал кассиру десятидолларовая купюра. Сколько сдачи он должен получить обратно?

A.

B.

C.

D.

3) ? потратил $7,33 на покупку новых игрушек. Он купил их на банкнота в двадцать долларов. Сколько сдачи он должен получить обратно?

A.

B.

C.

D.

1-3	67	33	0