Единицы измерения дистанции (метрические) Имя:

Определите, какая буква наилучшим образом отражает длину/ высоту.

Milímetro (mm)	Centímetro (cm)	Metro (m)	Kilómetro (km)
Un milímetro equivale al grosor de una tarjeta de crédito.	10 mm = 1 cm. La parte metálica de un lápiz mide aproximadamente 1 cm. Una regla mide unos 30 centímetros.	100 cm = 1 m Desde el suelo hasta la perilla de una puerta hay aproximadamente 1 metro.	1,000 m = 1 km La mayoría de las carreteras principales tienen al menos un kilómetro de largo.

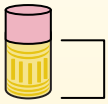
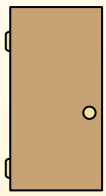

1)

Клубника
A. 1 метр
B. 25 сантиметры
C. 5 сантиметры
D. 15 сантиметры

2)

Высота дерева
A. 5 метры
B. 100 сантиметры
C. 30 сантиметры
D. 2 километров

3)

Божья коровка
A. 30 сантиметры
B. 10 сантиметры
C. 5 сантиметры
D. 7 миллиметры

4)



Галлон молока
A. 20 сантиметры
B. 3 метры
C. 8 сантиметры
D. 10 миллиметры

5)



Высота яблока
A. 60 сантиметры
B. 10 сантиметры
C. 3 сантиметры
D. 1 метр

6)

Гора
A. 60 сантиметры
B. 700 миллиметры
C. 9 метры
D. 3 километров

7)

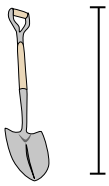

Лопата
A. 3 метры
B. 60 сантиметры
C. 1 метр
D. 30 сантиметры

8)

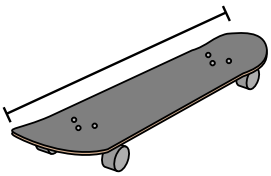

Доска для скейт-борда
A. 3 сантиметры
B. 2 метры
C. 30 сантиметры
D. 80 сантиметры

9)

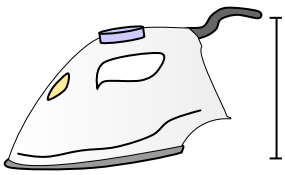

Утюг
A. 15 сантиметры
B. 40 сантиметры
C. 240 сантиметры
D. 60 сантиметры

Ответы

1. _____
2. _____
3. _____
4. _____
5. _____
6. _____
7. _____
8. _____
9. _____

Единицы измерения дистанции (метрические) Имя: Ключ к правильным ответам

Определите, какая буква наилучшим образом отражает длину/ высоту.

Milímetro (mm)	Centímetro (cm)	Metro (m)	Kilómetro (km)
Un milímetro equivale al grosor de una tarjeta de crédito.	10 mm = 1 cm. La parte metálica de un lápiz mide aproximadamente 1 cm. Una regla mide unos 30 centímetros.	100 cm = 1 m Desde el suelo hasta la perilla de una puerta hay aproximadamente 1 metro.	1,000 m = 1 km La mayoría de las carreteras principales tienen al menos un kilómetro de largo.
	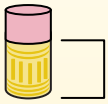	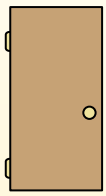	

1)

Клубника
A. 1 метр
B. 25 сантиметры
C. 5 сантиметры
D. 15 сантиметры

2)

Высота дерева
A. 5 метры
B. 100 сантиметры
C. 30 сантиметры
D. 2 километров

3)

Божья коровка
A. 30 сантиметры
B. 10 сантиметры
C. 5 сантиметры
D. 7 миллиметры

4)



Галлон молока
A. 20 сантиметры
B. 3 метры
C. 8 сантиметры
D. 10 миллиметры

5)



Высота яблока
A. 60 сантиметры
B. 10 сантиметры
C. 3 сантиметры
D. 1 метр

6)

Гора
A. 60 сантиметры
B. 700 миллиметры
C. 9 метры
D. 3 километров

7)

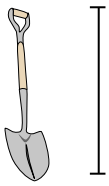

Лопата
A. 3 метры
B. 60 сантиметры
C. 1 метр
D. 30 сантиметры

8)

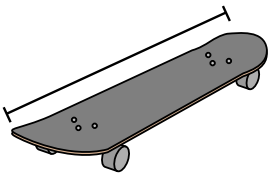

Доска для скейт-борда
A. 3 сантиметры
B. 2 метры
C. 30 сантиметры
D. 80 сантиметры

9)

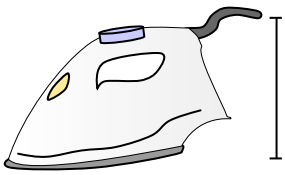

Утюг
A. 15 сантиметры
B. 40 сантиметры
C. 240 сантиметры
D. 60 сантиметры

Ответы

1. C
2. A
3. D
4. A
5. B
6. D
7. C
8. D
9. A