Единицы измерения дистанции (метрические) Имя:

Определите, какая буква наилучшим образом отражает длину/ высоту.

Milímetro (mm)	Centímetro (cm)	Metro (m)	Kilómetro (km)
Un milímetro equivale al grosor de una tarjeta de crédito.	10 mm = 1 cm. La parte metálica de un lápiz mide aproximadamente 1 cm. Una regla mide unos 30 centímetros.	100 cm = 1 m Desde el suelo hasta la perilla de una puerta hay aproximadamente 1 metro.	1,000 m = 1 km La mayoría de las carreteras principales tienen al menos un kilómetro de largo.
	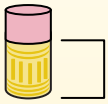	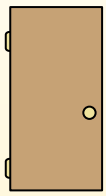	

1)

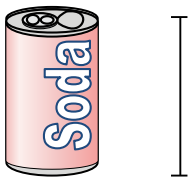

Банка газировки
A. 30 сантиметры
B. 3 сантиметры
C. 1 метр
D. 10 сантиметры

2)

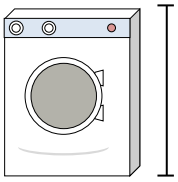

Стиральная машина
A. 1 метр
B. 30 сантиметры
C. 2 метры
D. 10 сантиметры

3)



Леденец
A. 30 миллиметры
B. 30 сантиметры
C. 2 километров
D. 10 сантиметры

4)

Велосипед
A. 25 сантиметры
B. 10 сантиметры
C. 1 метр
D. 3 метры

5)

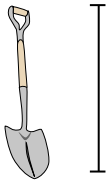

Лопата
A. 30 сантиметры
B. 60 сантиметры
C. 1 метр
D. 3 метры

6)

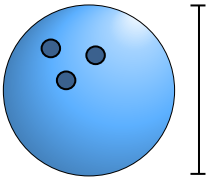

Высота мяча для боулинга
A. 25 сантиметры
B. 305 сантиметры
C. 1 метр
D. 10 сантиметры

7)

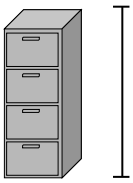

Шкафчик для папок
A. 30 сантиметры
B. 1.5 миллиметры
C. 30 миллиметры
D. 60 сантиметры

8)

Карандаш
A. 30 миллиметры
B. 20 сантиметры
C. 150 сантиметры
D. 1 метр

9)

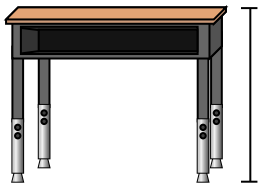

Парта
A. 2 метры
B. 15 сантиметры
C. 30 сантиметры
D. 70 сантиметры

Ответы

1. _____
2. _____
3. _____
4. _____
5. _____
6. _____
7. _____
8. _____
9. _____

1-9	89	78	67	56	44	33	22	11	0

Единицы измерения дистанции (метрические) Имя: Ключ к правильным ответам

Определите, какая буква наилучшим образом отражает длину/ высоту.

Milímetro (mm)	Centímetro (cm)	Metro (m)	Kilómetro (km)
Un milímetro equivale al grosor de una tarjeta de crédito.	10 mm = 1 cm. La parte metálica de un lápiz mide aproximadamente 1 cm. Una regla mide unos 30 centímetros.	100 cm = 1 m Desde el suelo hasta la perilla de una puerta hay aproximadamente 1 metro.	1,000 m = 1 km La mayoría de las carreteras principales tienen al menos un kilómetro de largo.
	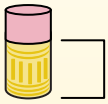	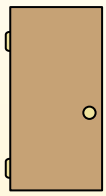	

1)

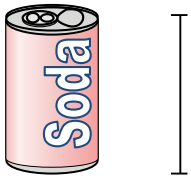

Банка газировки
A. 30 сантиметры
B. 3 сантиметры
C. 1 метр
D. 10 сантиметры

2)

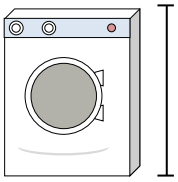

Стиральная машина
A. 1 метр
B. 30 сантиметры
C. 2 метры
D. 10 сантиметры

3)



Леденец
A. 30 миллиметры
B. 30 сантиметры
C. 2 километров
D. 10 сантиметры

4)

Велосипед
A. 25 сантиметры
B. 10 сантиметры
C. 1 метр
D. 3 метры

5)

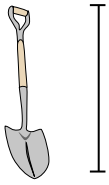

Лопата
A. 30 сантиметры
B. 60 сантиметры
C. 1 метр
D. 3 метры

6)

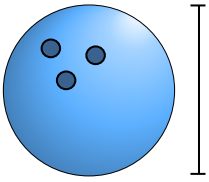

Высота мяча для боулинга
A. 25 сантиметры
B. 305 сантиметры
C. 1 метр
D. 10 сантиметры

7)

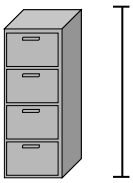

Шкафчик для папок
A. 30 сантиметры
B. 1.5 миллиметры
C. 30 миллиметры
D. 60 сантиметры

8)

Карандаш
A. 30 миллиметры
B. 20 сантиметры
C. 150 сантиметры
D. 1 метр

9)

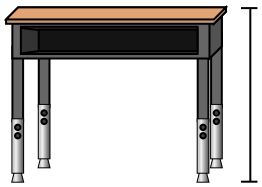

Парта
A. 2 метры
B. 15 сантиметры
C. 30 сантиметры
D. 70 сантиметры

Ответы

1. D
2. A
3. D
4. C
5. C
6. A
7. B
8. B
9. D

1-9	89	78	67	56	44	33	22	11	0