Единицы измерения дистанции (метрические) Имя:

Определите, какая буква наилучшим образом отражает длину/ высоту.

Milímetro (mm)	Centímetro (cm)	Metro (m)	Kilómetro (km)
Un milímetro equivale al grosor de una tarjeta de crédito.	10 mm = 1 cm. La parte metálica de un lápiz mide aproximadamente 1 cm. Una regla mide unos 30 centímetros.	100 cm = 1 m Desde el suelo hasta la perilla de una puerta hay aproximadamente 1 metro.	1,000 m = 1 km La mayoría de las carreteras principales tienen al menos un kilómetro de largo.
	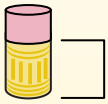	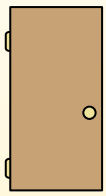	

1)

Велосипед
A. 10 сантиметры
B. 25 сантиметры
C. 1 метр
D. 3 метры

2)

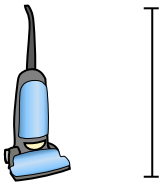

Пылесос
A. 30 сантиметры
B. 120 сантиметры
C. 3 метры
D. 35 сантиметры

3)

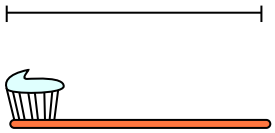

Зубная щетка
A. 3 метры
B. 10 сантиметры
C. 17 сантиметры
D. 1 метр

4)



Высота коробки с крупой
A. 10 сантиметры
B. 60 сантиметры
C. 3 сантиметры
D. 30 сантиметры

5)



Слон
A. 2 километров
B. 150 миллиметры
C. 45 сантиметры
D. 4 метры

6)

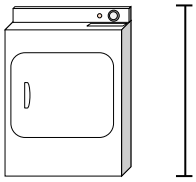

Сушилка для одежды
A. 15 сантиметры
B. 60 сантиметры
C. 25 сантиметры
D. 1 метр

7)

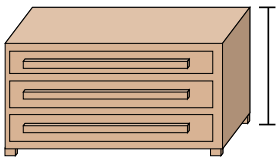

Комод
A. 30 сантиметры
B. 3 метры
C. 90 сантиметры
D. 45 сантиметры

8)

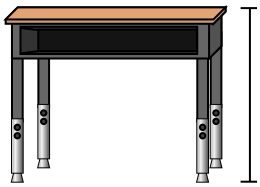

Парта
A. 15 сантиметры
B. 30 сантиметры
C. 70 сантиметры
D. 2 метры

9)

Божья коровка
A. 30 сантиметры
B. 10 сантиметры
C. 5 сантиметры
D. 7 миллиметры

Ответы

1. _____
2. _____
3. _____
4. _____
5. _____
6. _____
7. _____
8. _____
9. _____

1-9	89	78	67	56	44	33	22	11	0

Единицы измерения дистанции (метрические) Имя: Ключ к правильным ответам

Определите, какая буква наилучшим образом отражает длину/ высоту.

Milímetro (mm)	Centímetro (cm)	Metro (m)	Kilómetro (km)
Un milímetro equivale al grosor de una tarjeta de crédito.	10 mm = 1 cm. La parte metálica de un lápiz mide aproximadamente 1 cm. Una regla mide unos 30 centímetros.	100 cm = 1 m Desde el suelo hasta la perilla de una puerta hay aproximadamente 1 metro.	1,000 m = 1 km La mayoría de las carreteras principales tienen al menos un kilómetro de largo.
	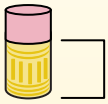	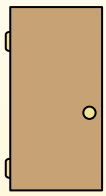	

1)

Велосипед
A. 10 сантиметры
B. 25 сантиметры
C. 1 метр
D. 3 метры

2)

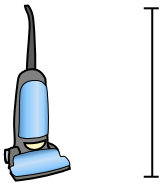

Пылесос
A. 30 сантиметры
B. 120 сантиметры
C. 3 метры
D. 35 сантиметры

3)

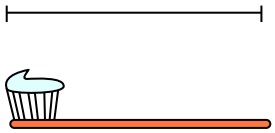

Зубная щетка
A. 3 метры
B. 10 сантиметры
C. 17 сантиметры
D. 1 метр

4)



Высота коробки с крупой
A. 10 сантиметры
B. 60 сантиметры
C. 3 сантиметры
D. 30 сантиметры

5)



Слон
A. 2 километров
B. 150 миллиметры
C. 45 сантиметры
D. 4 метры

6)

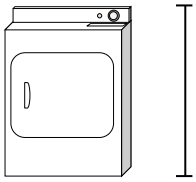

Сушилка для одежды
A. 15 сантиметры
B. 60 сантиметры
C. 25 сантиметры
D. 1 метр

7)

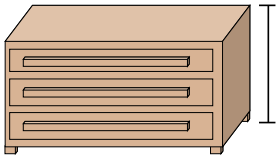

Комод
A. 30 сантиметры
B. 3 метры
C. 90 сантиметры
D. 45 сантиметры

8)

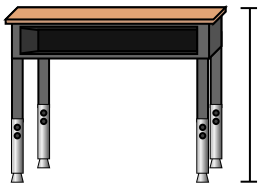

Парта
A. 15 сантиметры
B. 30 сантиметры
C. 70 сантиметры
D. 2 метры

9)

Божья коровка
A. 30 сантиметры
B. 10 сантиметры
C. 5 сантиметры
D. 7 миллиметры

Ответы

1. C
2. B
3. C
4. D
5. D
6. D
7. C
8. C
9. D

1-9	89	78	67	56	44	33	22	11	0