Измерьте каждую фигуру в дюймах и сантиметрах.

об)



1)



2)

3)

4)

Ответы

об.	4	0 ½	10,2	1,3
1.				
2.				
3.				
4.				

1-4	75	50	25	0

Сравнение двух единиц измерения Имя: **Ключ к правильным ответам**

Измерьте каждую фигуру в дюймах и сантиметрах.

об)

1)



2)

3)

4)

Ответы

об.	4	0 ½	10,2	1,3
1.	0 ½	1 ½	1,3	3,8
2.	1 ½	0 ½	3,8	1,3
3.	5 ½	0 ½	14	1,3
4.	3	1 ½	7,6	3,8

1-4	75	50	25	0