Переведите каждую фигуру как описано.

1)

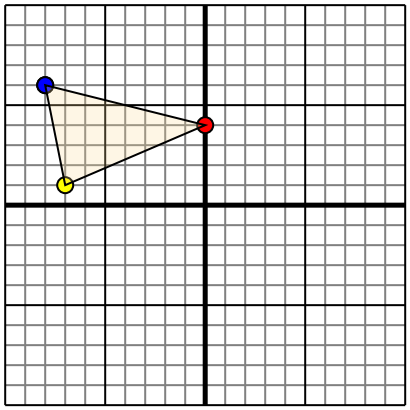

Фигура сверху имеет следующие координаты:

A. (0,4)

B. (-7,1)

C. (-8,6)

Переместите фигуру на 7 единицу прямой и 4 единицу вниз.

2)

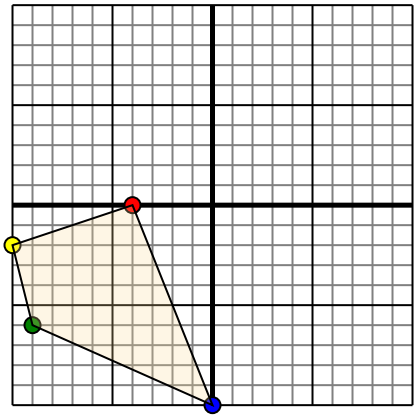

Фигура сверху имеет следующие координаты:

A. (-4,0)

B. (-10,-2)

C. (-9,-6)

D. (0,-10)

Переместите фигуру на 10 единицу прямой и 3 единицу вверх.

3)

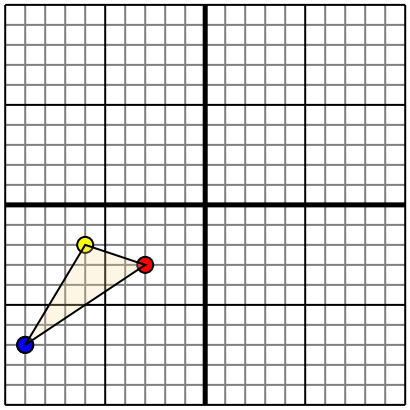

Фигура сверху имеет следующие координаты:

A. (-3,-3)

B. (-6,-2)

C. (-9,-7)

Переместите фигуру на 4 единицу прямой и 9 единицу вверх.

4)

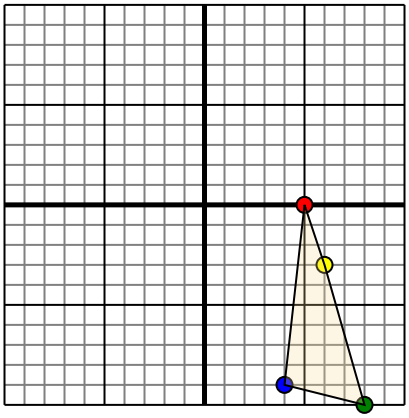

Фигура сверху имеет следующие координаты:

A. (5,0)

B. (6,-3)

C. (8,-10)

D. (4,-9)

Переместите фигуру на 5 единицу влево и 9 единицу вверх.

Ответы

1. ____ ____ ____ График

2. ____ ____ ____ ____ График

3. ____ ____ ____ График

4. ____ ____ ____ ____ График

1-4	75	50	25	0

Переведите каждую фигуру как описано.

1)

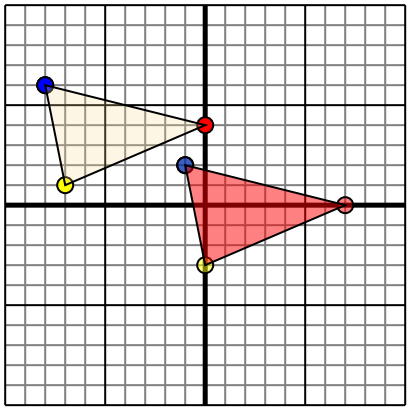

Фигура сверху имеет следующие координаты:

A. (0,4)

B. (-7,1)

C. (-8,6)

Переместите фигуру на 7 единицу прямой и 4 единицу вниз.

2)

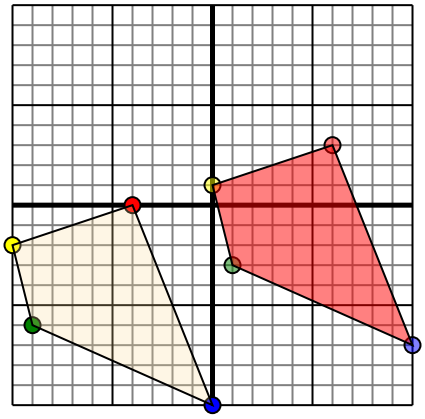

Фигура сверху имеет следующие координаты:

A. (-4,0)

B. (-10,-2)

C. (-9,-6)

D. (0,-10)

Переместите фигуру на 10 единицу прямой и 3 единицу вверх.

3)

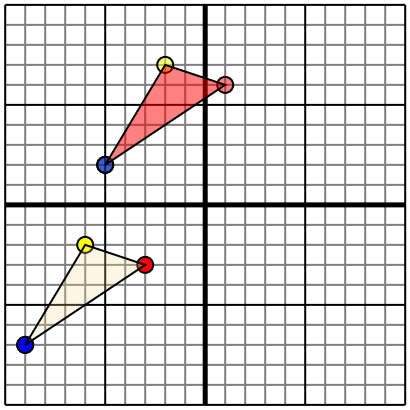

Фигура сверху имеет следующие координаты:

A. (-3,-3)

B. (-6,-2)

C. (-9,-7)

Переместите фигуру на 4 единицу прямой и 9 единицу вверх.

4)

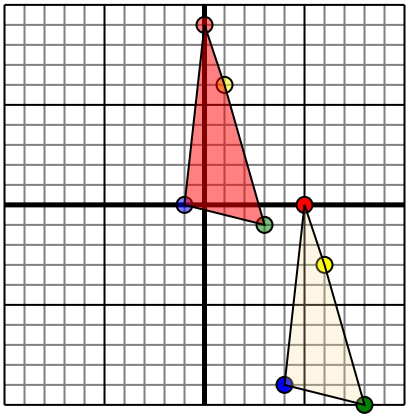

Фигура сверху имеет следующие координаты:

A. (5,0)

B. (6,-3)

C. (8,-10)

D. (4,-9)

Переместите фигуру на 5 единицу влево и 9 единицу вверх.

Ответы

1. 7 0 | 0 -3 | -1 2 | График
2. 6 3 | 0 1 | 1 -3 | 10 -7 | График
3. 1 6 | -2 7 | -5 2 | График
4. 0 9 | 1 6 | 3 -1 | -1 0 | График

1-4	75	50	25	0