**Переведите каждую фигуру как описано.**

**1)**

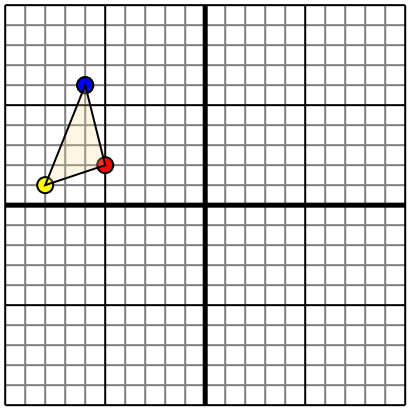

Фигура сверху имеет следующие координаты:

A. (-5,2)

B. (-8,1)

C. (-6,6)

Переместите фигуру на 6 единицу прямой и 10 единицу вниз.

**2)**

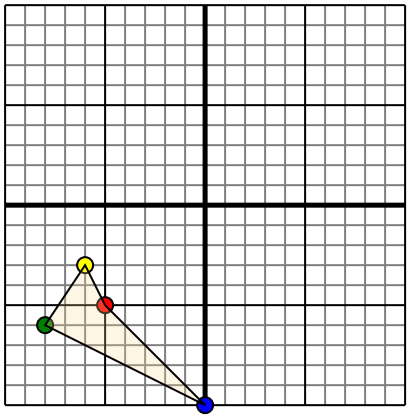

Фигура сверху имеет следующие координаты:

A. (-5,-5)

B. (-6,-3)

C. (-8,-6)

D. (0,-10)

Переместите фигуру на 7 единицу прямой и 10 единицу вверх.

**3)**

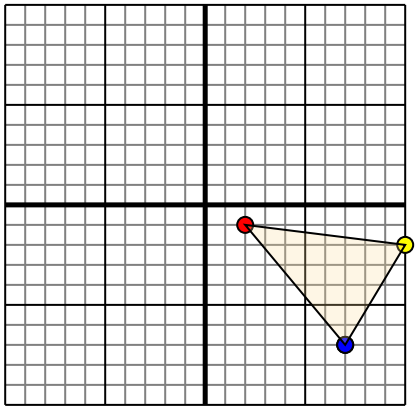

Фигура сверху имеет следующие координаты:

A. (2,-1)

B. (10,-2)

C. (7,-7)

Переместите фигуру на 7 единицу влево и 5 единицу вверх.

**4)**

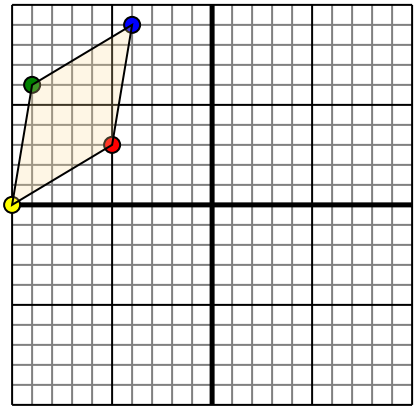

Фигура сверху имеет следующие координаты:

A. (-5,3)

B. (-10,0)

C. (-9,6)

D. (-4,9)

Переместите фигуру на 5 единицу прямой и 3 единицу вниз.

## Ответы

1. ____ ____ ____ График

2. ____ ____ ____ ____ График

3. ____ ____ ____ График

4. ____ ____ ____ ____ График



| 1-4 | 75 | 50 | 25 | 0 |
|---|---|---|---|---|

**Переведите каждую фигуру как описано.**

1)

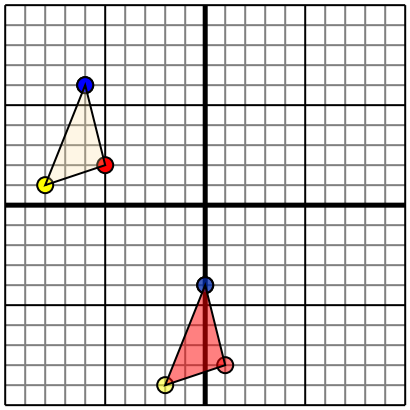

Фигура сверху имеет следующие координаты:

A. (-5,2)

B. (-8,1)

C. (-6,6)

Переместите фигуру на 6 единицу прямой и 10 единицу вниз.

2)

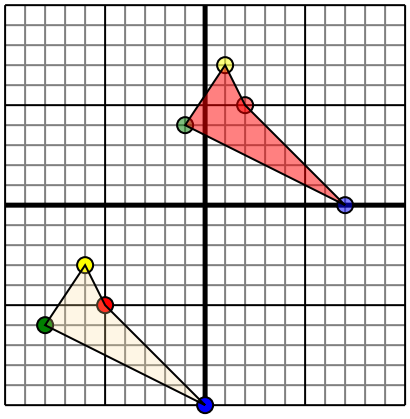

Фигура сверху имеет следующие координаты:

A. (-5,-5)

B. (-6,-3)

C. (-8,-6)

D. (0,-10)

Переместите фигуру на 7 единицу прямой и 10 единицу вверх.

3)

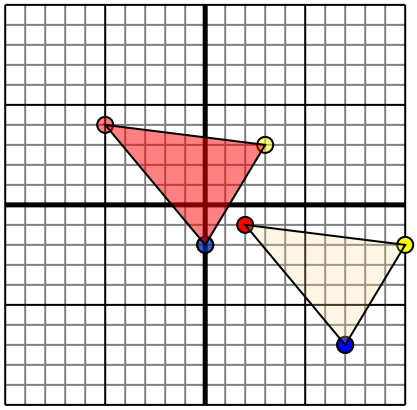

Фигура сверху имеет следующие координаты:

A. (2,-1)

B. (10,-2)

C. (7,-7)

Переместите фигуру на 7 единицу влево и 5 единицу вверх.

4)

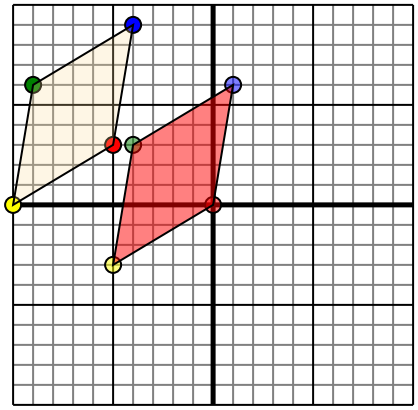

Фигура сверху имеет следующие координаты:

A. (-5,3)

B. (-10,0)

C. (-9,6)

D. (-4,9)

Переместите фигуру на 5 единицу прямой и 3 единицу вниз.

## Ответы

1. 1 -8 -2 -9 0 -4 График
2. 2 5 1 7 -1 4 7 0 График
3. -5 4 3 3 0 -2 График
4. 0 0 -5 -3 -4 3 1 6 График



| 1-4 | 75 | 50 | 25 | 0 |
|---|---|---|---|---|