Переведите каждую фигуру как описано.

1)

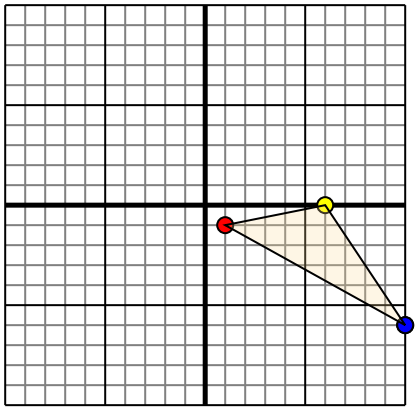

Фигура сверху имеет следующие координаты:

A. (1,-1)

B. (6,0)

C. (10,-6)

Переместите фигуру на 7 единицу влево и 10 единицу вверх.

2)

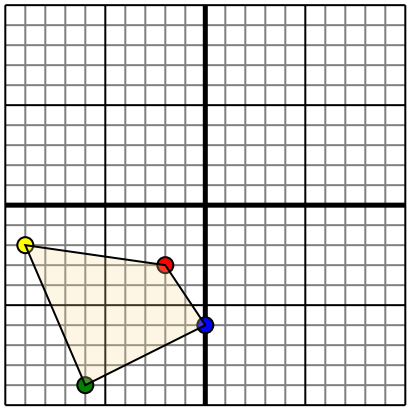

Фигура сверху имеет следующие координаты:

A. (-2,-3)

B. (-9,-2)

C. (-6,-9)

D. (0,-6)

Переместите фигуру на 6 единицу прямой и 9 единицу вверх.

3)

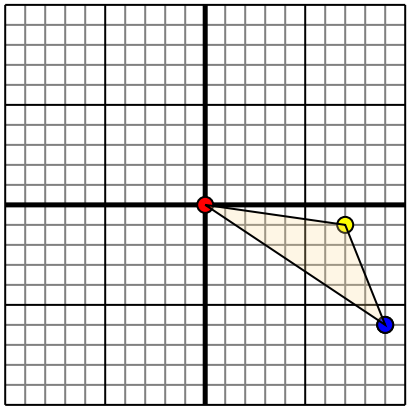

Фигура сверху имеет следующие координаты:

A. (0,0)

B. (7,-1)

C. (9,-6)

Переместите фигуру на 10 единицу влево и 2 единицу вверх.

4)

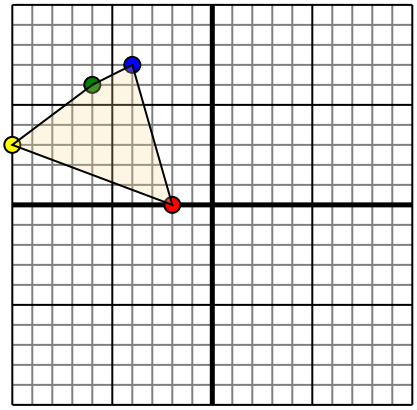

Фигура сверху имеет следующие координаты:

A. (-2,0)

B. (-10,3)

C. (-6,6)

D. (-4,7)

Переместите фигуру на 4 единицу прямой и 9 единицу вниз.

Ответы

1. ____ ____ ____ График

2. ____ ____ ____ ____ График

3. ____ ____ ____ График

4. ____ ____ ____ ____ График

1-4	75	50	25	0

Переведите каждую фигуру как описано.

1)

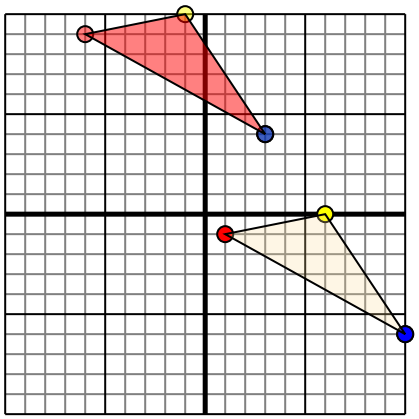

Фигура сверху имеет следующие координаты:

A. (1,-1)

B. (6,0)

C. (10,-6)

Переместите фигуру на 7 единицу влево и 10 единицу вверх.

2)

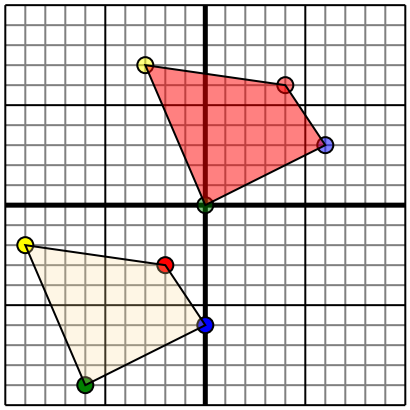

Фигура сверху имеет следующие координаты:

A. (-2,-3)

B. (-9,-2)

C. (-6,-9)

D. (0,-6)

Переместите фигуру на 6 единицу прямой и 9 единицу вверх.

3)

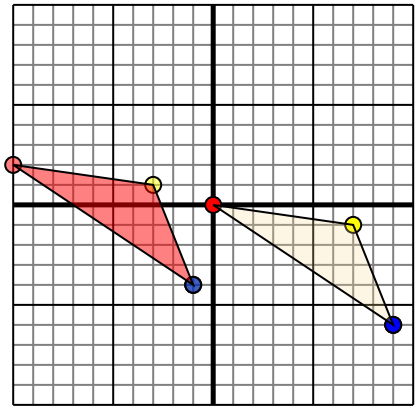

Фигура сверху имеет следующие координаты:

A. (0,0)

B. (7,-1)

C. (9,-6)

Переместите фигуру на 10 единицу влево и 2 единицу вверх.

4)

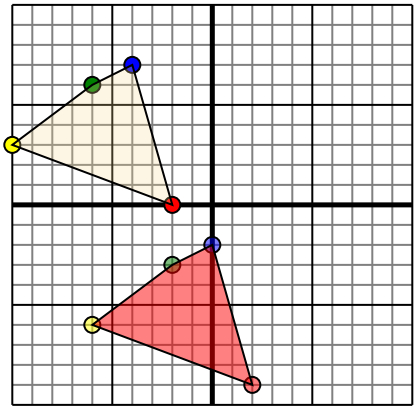

Фигура сверху имеет следующие координаты:

A. (-2,0)

B. (-10,3)

C. (-6,6)

D. (-4,7)

Переместите фигуру на 4 единицу прямой и 9 единицу вниз.

Ответы

1. -6 9 | -1 10 | 3 4 | График
2. 4 6 | -3 7 | 0 0 | 6 3 | График
3. -10 2 | -3 1 | -1 -4 | График
4. 2 -9 | -6 -6 | -2 -3 | 0 -2 | График

1-4	75	50	25	0