Переведите каждую фигуру как описано.

1)

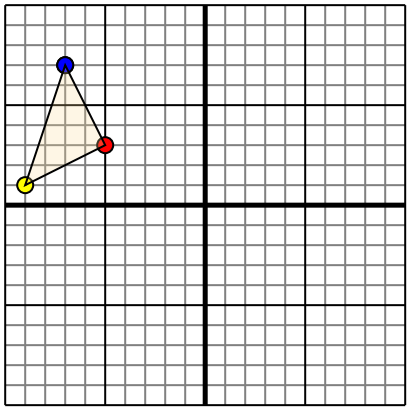

Фигура сверху имеет следующие координаты:

A. (-5,3)

B. (-9,1)

C. (-7,7)

Переместите фигуру на 6 единицу прямой и 3 единицу вниз.

2)

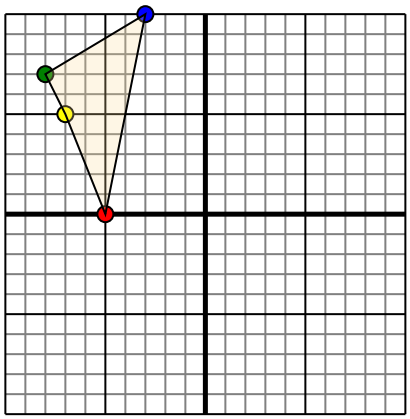

Фигура сверху имеет следующие координаты:

A. (-5,0)

B. (-7,5)

C. (-8,7)

D. (-3,10)

Переместите фигуру на 5 единицу прямой и 2 единицу вниз.

3)

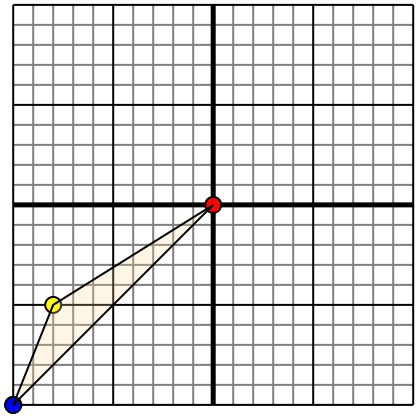

Фигура сверху имеет следующие координаты:

A. (0,0)

B. (-8,-5)

C. (-10,-10)

Переместите фигуру на 10 единицу прямой и 8 единицу вверх.

4)

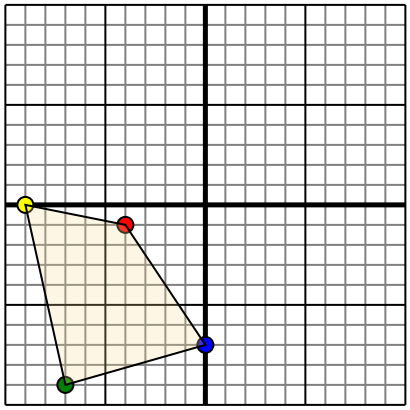

Фигура сверху имеет следующие координаты:

A. (-4,-1)

B. (-9,0)

C. (-7,-9)

D. (0,-7)

Переместите фигуру на 5 единицу прямой и 4 единицу вверх.

Ответы

1. ___ ___ ___ ___ График

2. ___ ___ ___ ___ График

3. ___ ___ ___ ___ График

4. ___ ___ ___ ___ График

1-4	75	50	25	0

Переведите каждую фигуру как описано.

1)

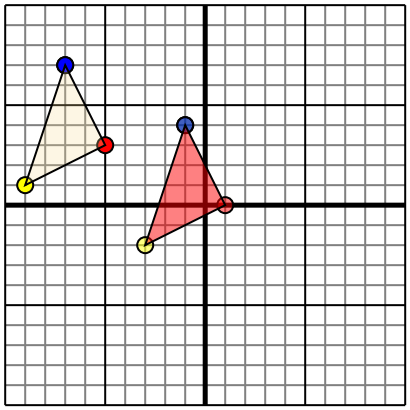

Фигура сверху имеет следующие координаты:

A. (-5,3)

B. (-9,1)

C. (-7,7)

Переместите фигуру на 6 единицу прямой и 3 единицу вниз.

2)

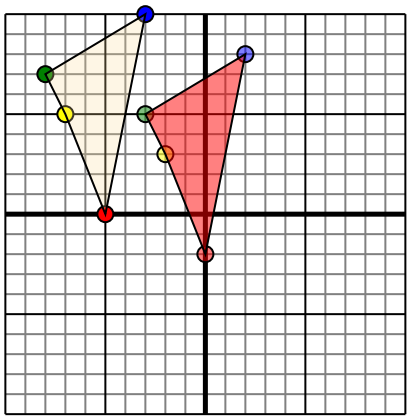

Фигура сверху имеет следующие координаты:

A. (-5,0)

B. (-7,5)

C. (-8,7)

D. (-3,10)

Переместите фигуру на 5 единицу прямой и 2 единицу вниз.

3)

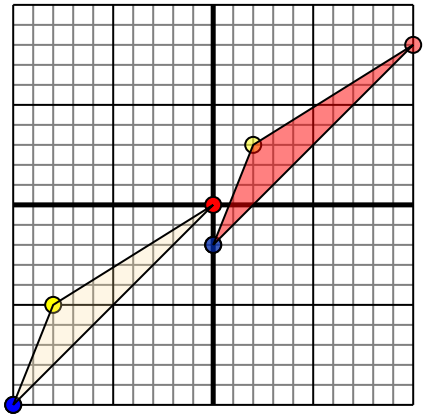

Фигура сверху имеет следующие координаты:

A. (0,0)

B. (-8,-5)

C. (-10,-10)

Переместите фигуру на 10 единицу прямой и 8 единицу вверх.

4)

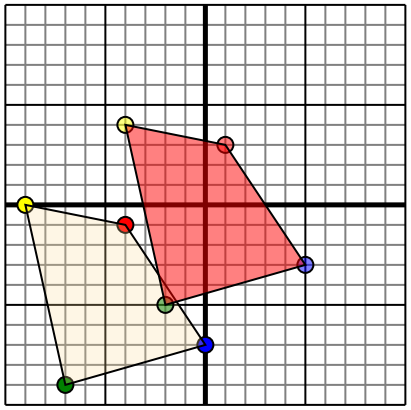

Фигура сверху имеет следующие координаты:

A. (-4,-1)

B. (-9,0)

C. (-7,-9)

D. (0,-7)

Переместите фигуру на 5 единицу прямой и 4 единицу вверх.

Ответы

1. 1 0 -3 -2 -1 4 График
2. 0 -2 -2 3 -3 5 2 8 График
3. 10 8 2 3 0 -2 График
4. 1 3 -4 4 -2 -5 5 -3 График

1-4	75	50	25	0