Переведите каждую фигуру как описано.

1)

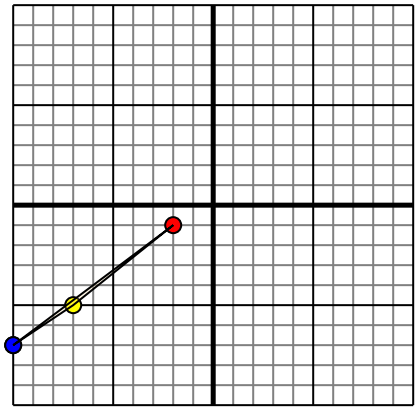

Фигура сверху имеет следующие координаты:

A. (-2,-1)

B. (-7,-5)

C. (-10,-7)

Переместите фигуру на 4 единицу прямой и 3 единицу вверх.

2)

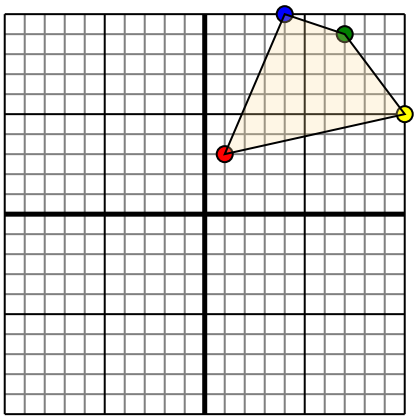

Фигура сверху имеет следующие координаты:

A. (1,3)

B. (10,5)

C. (7,9)

D. (4,10)

Переместите фигуру на 7 единицу влево и 4 единицу вниз.

3)

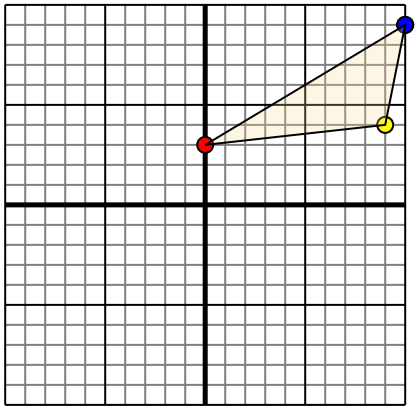

Фигура сверху имеет следующие координаты:

A. (0,3)

B. (9,4)

C. (10,9)

Переместите фигуру на 8 единицу влево и 9 единицу вниз.

4)

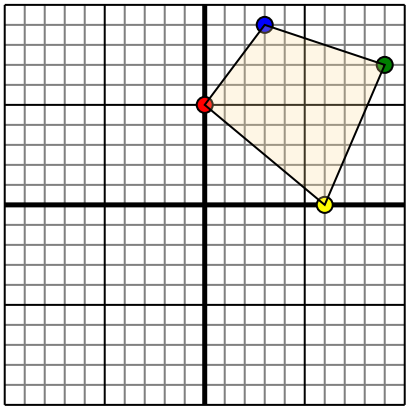

Фигура сверху имеет следующие координаты:

A. (0,5)

B. (6,0)

C. (9,7)

D. (3,9)

Переместите фигуру на 3 единицу влево и 7 единицу вниз.

Ответы

1. ____ ____ ____ График

2. ____ ____ ____ ____ График

3. ____ ____ ____ График

4. ____ ____ ____ ____ График

1-4	75	50	25	0

Переведите каждую фигуру как описано.

1)

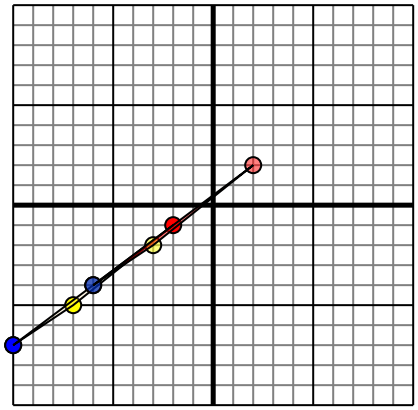

Фигура сверху имеет следующие координаты:

A. (-2,-1)

B. (-7,-5)

C. (-10,-7)

Переместите фигуру на 4 единицу прямой и 3 единицу вверх.

2)

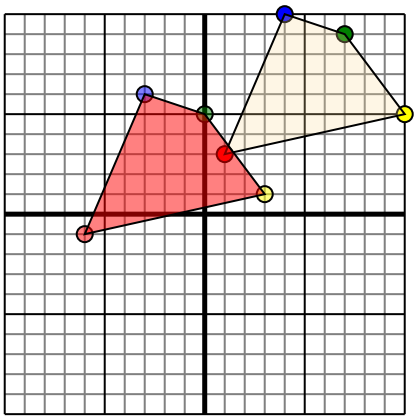

Фигура сверху имеет следующие координаты:

A. (1,3)

B. (10,5)

C. (7,9)

D. (4,10)

Переместите фигуру на 7 единицу влево и 4 единицу вниз.

3)

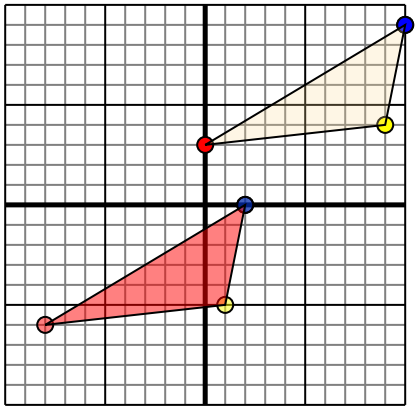

Фигура сверху имеет следующие координаты:

A. (0,3)

B. (9,4)

C. (10,9)

Переместите фигуру на 8 единицу влево и 9 единицу вниз.

4)

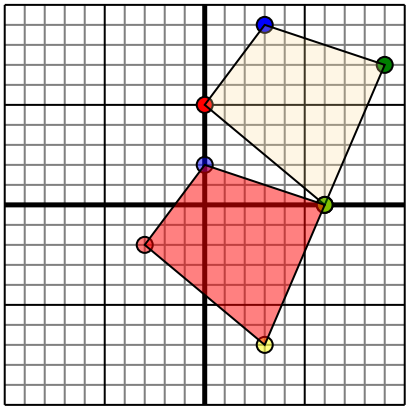

Фигура сверху имеет следующие координаты:

A. (0,5)

B. (6,0)

C. (9,7)

D. (3,9)

Переместите фигуру на 3 единицу влево и 7 единицу вниз.

Ответы

1. 2 2 -3 -2 -6 -4 График
2. -6 -1 3 1 0 5 -3 6 График
3. -8 -6 1 -5 2 0 График
4. -3 -2 3 -7 6 0 0 2 График

1-4	75	50	25	0