Поверните каждую фигуру, как описано. При каждом повороте используйте начальную точку как ось.

1)

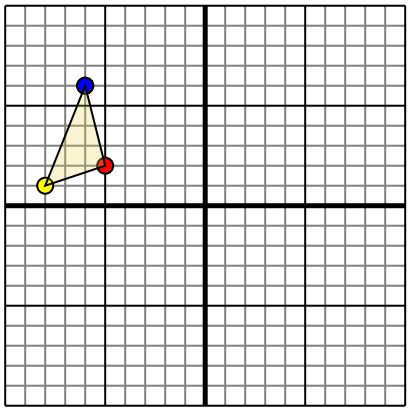

Фигура сверху имеет седующие координаты:

A. (-5,2)

B. (-8,1)

C. (-6,6)

Поверните фигуру на 180 по часовой стрелки.

2)

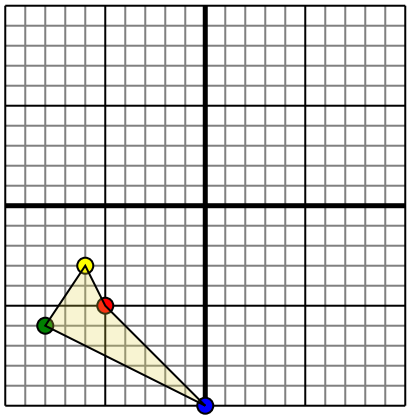

Фигура сверху имеет седующие координаты:

A. (-5,-5)

B. (-6,-3)

C. (-8,-6)

D. (0,-10)

Поверните фигуру на 270 против часовой стрелки.

3)

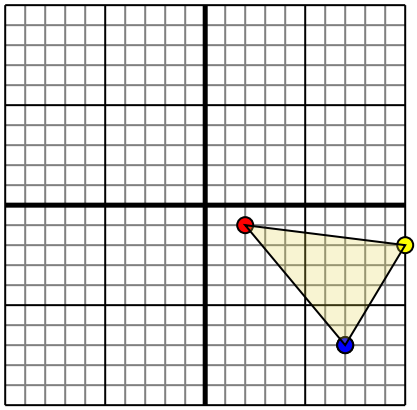

Фигура сверху имеет седующие координаты:

A. (2,-1)

B. (10,-2)

C. (7,-7)

Поверните фигуру на 90 по часовой стрелки.

4)

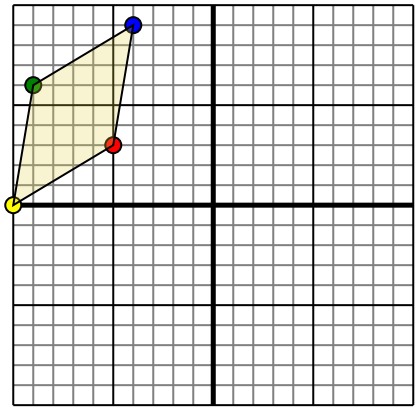

Фигура сверху имеет седующие координаты:

A. (-5,3)

B. (-10,0)

C. (-9,6)

D. (-4,9)

Поверните фигуру на 90 против часовой стрелки.

Ответы

1. ____ ____ ____ ____ График

2. ____ ____ ____ ____ График

3. ____ ____ ____ ____ График

4. ____ ____ ____ ____ График

1-4	75	50	25	0

Поверните каждую фигуру, как описано. При каждом повороте используйте начальную точку как ось.

1)

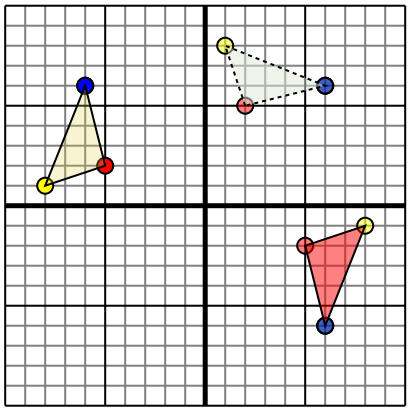

Фигура сверху имеет седующие координаты:

A. (-5,2)

B. (-8,1)

C. (-6,6)

Поверните фигуру на 180 по часовой стрелки.

2)

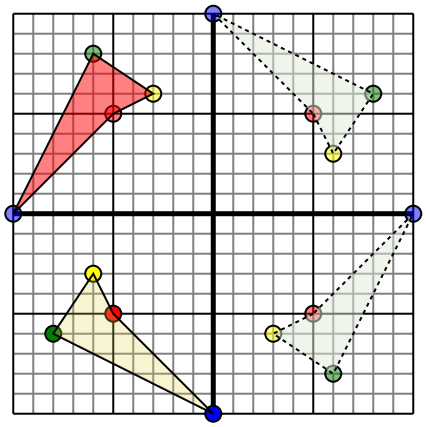

Фигура сверху имеет седующие координаты:

A. (-5,-5)

B. (-6,-3)

C. (-8,-6)

D. (0,-10)

Поверните фигуру на 270 против часовой стрелки.

3)

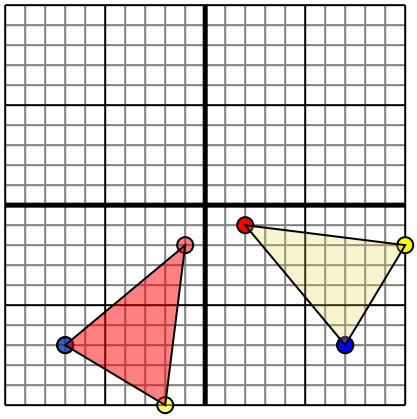

Фигура сверху имеет седующие координаты:

A. (2,-1)

B. (10,-2)

C. (7,-7)

Поверните фигуру на 90 по часовой стрелки.

4)

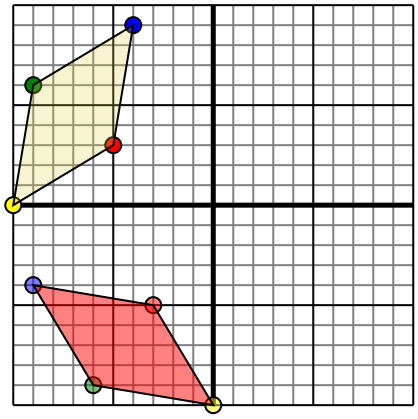

Фигура сверху имеет седующие координаты:

A. (-5,3)

B. (-10,0)

C. (-9,6)

D. (-4,9)

Поверните фигуру на 90 против часовой стрелки.

Ответы

1. 5 -2 8 -1 6 -6 График
2. -5 5 -3 6 -6 8 -10 0 График
3. -1 -2 -2 -10 -7 -7 График
4. -3 -5 -0 -10 -6 -9 -9 -4 График

1-4	75	50	25	0