Отрожение на координатной плоскости Имя:

Отразите каждую фигуру на координатной плоскости.

Ответы

1. ___ ___ ___ ___

2. ___ ___ ___ ___ ___

3. ___ ___ ___ ___

4. ___ ___ ___ ___ ___

1)

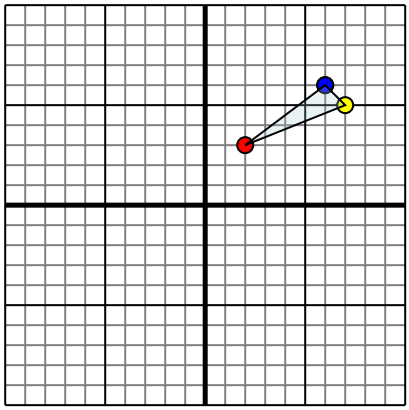

Фигура сверху имеет координаты:

A. (2,3)

B. (7,5)

C. (6,6)

Отразите фигуру относительно оси x.

2)

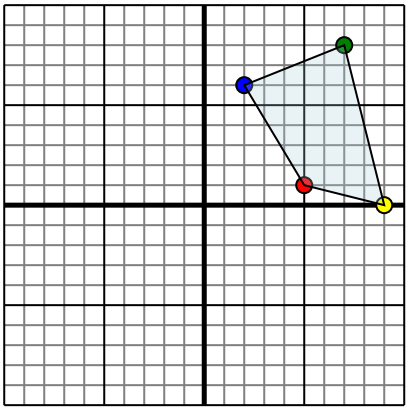

Фигура сверху имеет координаты:

A. (5,1)

B. (9,0)

C. (7,8)

D. (2,6)

Отразите фигуру относительно оси y.

3)

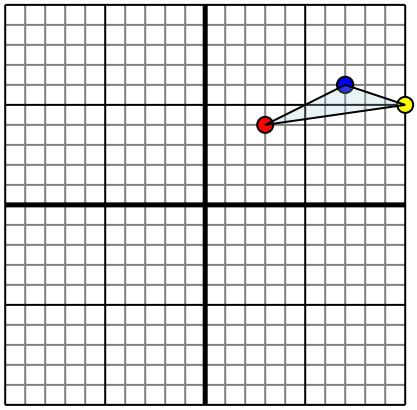

Фигура сверху имеет координаты:

A. (3,4)

B. (10,5)

C. (7,6)

Отразите фигуру относительно оси x.

4)

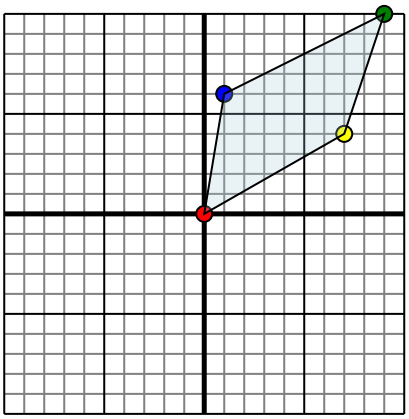

Фигура сверху имеет координаты:

A. (0,0)

B. (7,4)

C. (9,10)

D. (1,6)

Отразите фигуру относительно оси x.

Отрожение на координатной плоскости Имя: Ключ к правильным ответам

Отразите каждую фигуру на координатной плоскости.

1)

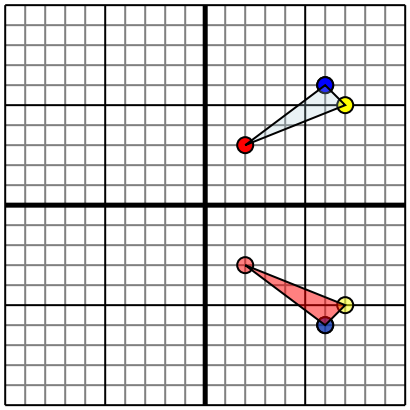

Фигура сверху имеет координаты:

A. (2,3)

B. (7,5)

C. (6,6)

Отразите фигуру относительно оси x.

2)

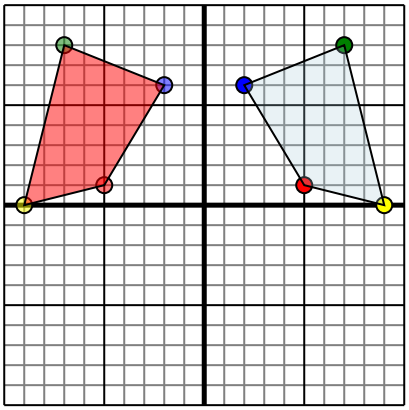

Фигура сверху имеет координаты:

A. (5,1)

B. (9,0)

C. (7,8)

D. (2,6)

Отразите фигуру относительно оси y.

3)

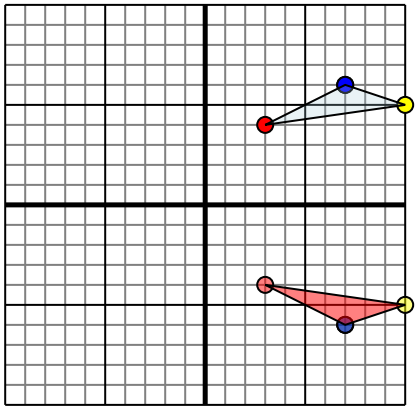

Фигура сверху имеет координаты:

A. (3,4)

B. (10,5)

C. (7,6)

Отразите фигуру относительно оси x.

4)

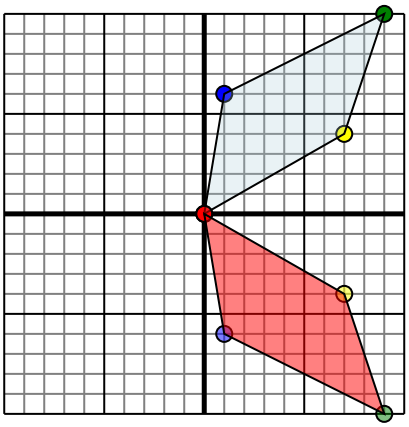

Фигура сверху имеет координаты:

A. (0,0)

B. (7,4)

C. (9,10)

D. (1,6)

Отразите фигуру относительно оси x.

Ответы

1. 2 -3 7 -5 6 -6 График
2. -5 1 -9 0 -7 8 -2 6 График
3. 3 -4 10 -5 7 -6 График
4. 0 0 7 -4 9 -10 1 -6 График