Отразите каждую фигуру на координатной плоскости.

Ответы

1. ___ ___ ___ ___

2. ___ ___ ___ ___ ___

3. ___ ___ ___ ___

4. ___ ___ ___ ___ ___

1)

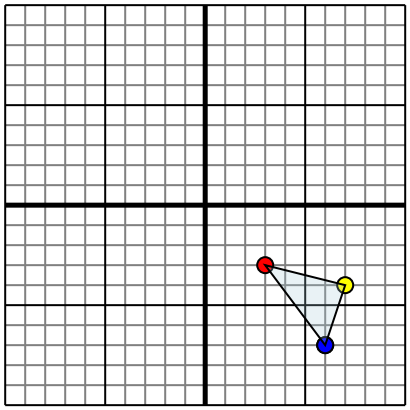

Фигура сверху имеет координаты:

A. (3,-3)

B. (7,-4)

C. (6,-7)

Отразите фигуру относительно оси x.

2)

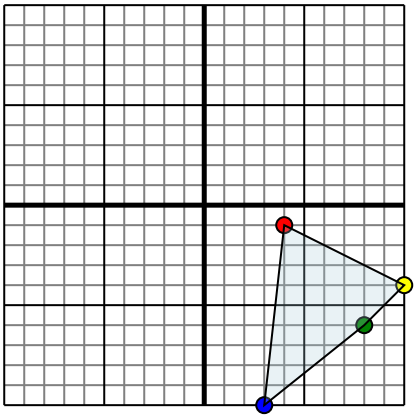

Фигура сверху имеет координаты:

A. (4,-1)

B. (10,-4)

C. (8,-6)

D. (3,-10)

Отразите фигуру относительно оси x.

3)

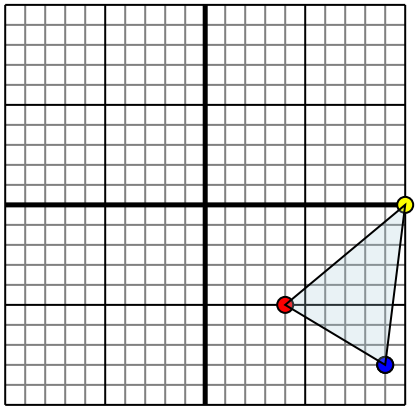

Фигура сверху имеет координаты:

A. (4,-5)

B. (10,0)

C. (9,-8)

Отразите фигуру относительно оси y.

4)

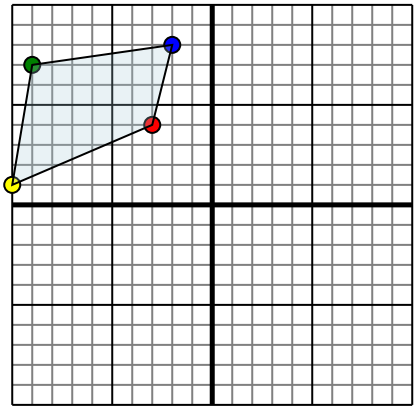

Фигура сверху имеет координаты:

A. (-3,4)

B. (-10,1)

C. (-9,7)

D. (-2,8)

Отразите фигуру относительно оси x.

1-4	75	50	25	0

Отразите каждую фигуру на координатной плоскости.

1)

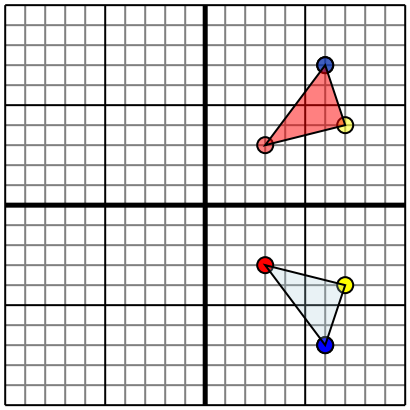

Фигура сверху имеет координаты:

A. (3,-3)

B. (7,-4)

C. (6,-7)

Отразите фигуру относительно оси x.

2)

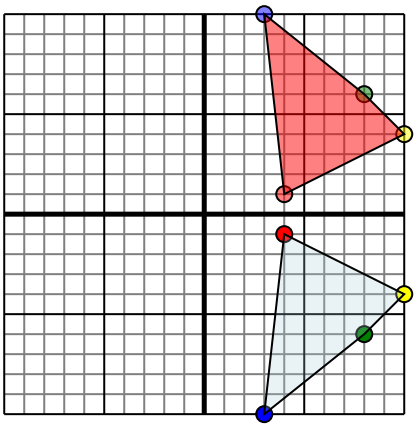

Фигура сверху имеет координаты:

A. (4,-1)

B. (10,-4)

C. (8,-6)

D. (3,-10)

Отразите фигуру относительно оси x.

3)

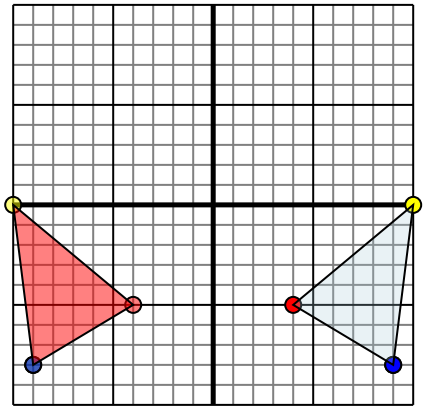

Фигура сверху имеет координаты:

A. (4,-5)

B. (10,0)

C. (9,-8)

Отразите фигуру относительно оси y.

4)

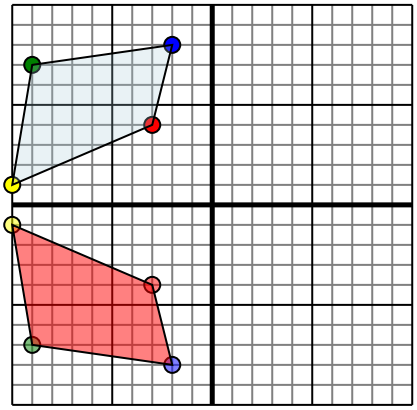

Фигура сверху имеет координаты:

A. (-3,4)

B. (-10,1)

C. (-9,7)

D. (-2,8)

Отразите фигуру относительно оси x.

Ответы

1. 3 3 7 4 6 7 График
2. 4 1 10 4 8 6 3 10 График
3. -4 -5 -10 0 -9 -8 График
4. -3 -4 -10 -1 -9 -7 -2 -8 График

1-4	75	50	25	0