Отразите каждую фигуру на координатной плоскости.

Ответы

1. ___ ___ ___ ___

2. ___ ___ ___ ___ ___

3. ___ ___ ___ ___

4. ___ ___ ___ ___ ___

1)

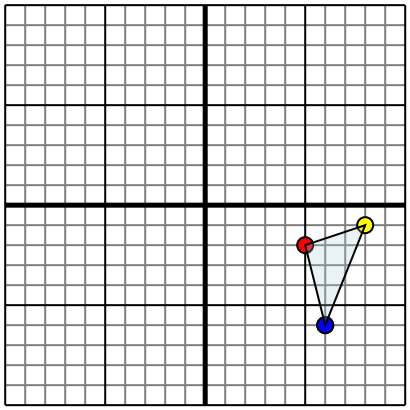

Фигура сверху имеет координаты:

A. (5,-2)

B. (8,-1)

C. (6,-6)

Отразите фигуру относительно оси x.

2)

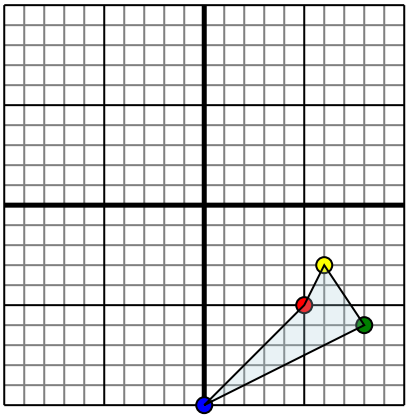

Фигура сверху имеет координаты:

A. (5,-5)

B. (6,-3)

C. (8,-6)

D. (0,-10)

Отразите фигуру относительно оси y.

3)

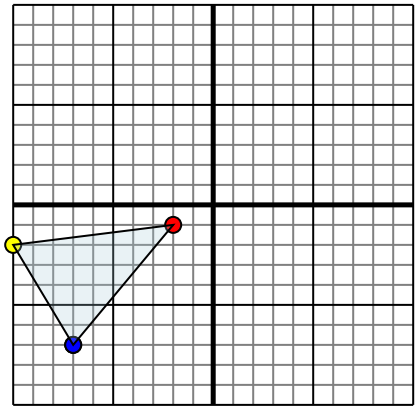

Фигура сверху имеет координаты:

A. (-2,-1)

B. (-10,-2)

C. (-7,-7)

Отразите фигуру относительно оси x.

4)

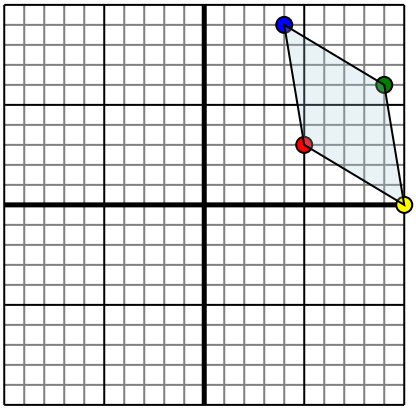

Фигура сверху имеет координаты:

A. (5,3)

B. (10,0)

C. (9,6)

D. (4,9)

Отразите фигуру относительно оси x.

1-4	75	50	25	0

Отразите каждую фигуру на координатной плоскости.

1)

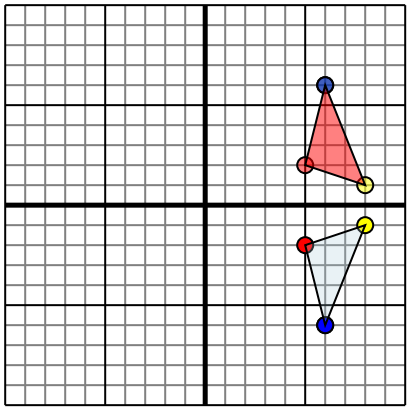

Фигура сверху имеет координаты:

A. (5,-2)

B. (8,-1)

C. (6,-6)

Отразите фигуру относительно оси x.

2)

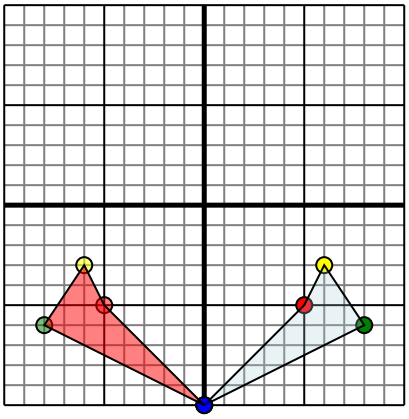

Фигура сверху имеет координаты:

A. (5,-5)

B. (6,-3)

C. (8,-6)

D. (0,-10)

Отразите фигуру относительно оси y.

3)

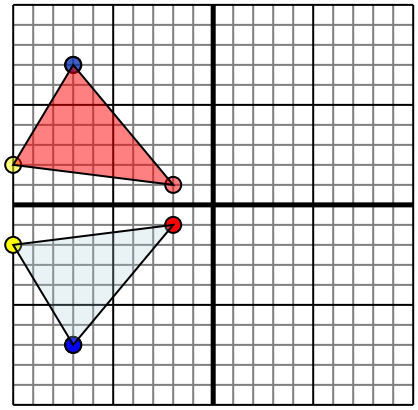

Фигура сверху имеет координаты:

A. (-2,-1)

B. (-10,-2)

C. (-7,-7)

Отразите фигуру относительно оси x.

4)

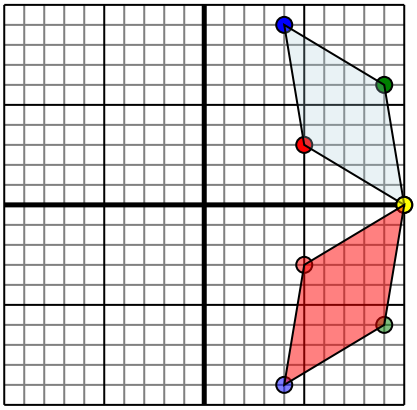

Фигура сверху имеет координаты:

A. (5,3)

B. (10,0)

C. (9,6)

D. (4,9)

Отразите фигуру относительно оси x.

Ответы

1. 5 2 8 1 6 6 График
2. -5 -5 -6 -3 -8 -6 0 -10 График
3. -2 1 -10 2 -7 7 График
4. 5 -3 10 0 9 -6 4 -9 График

1-4	75	50	25	0