Отразите каждую фигуру на координатной плоскости.

Ответы

1. ___ ___ ___ ___

2. ___ ___ ___ ___ ___

3. ___ ___ ___ ___

4. ___ ___ ___ ___ ___

1)

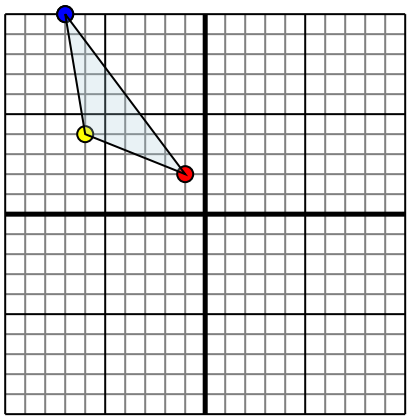

Фигура сверху имеет координаты:

A. (-1,2)

B. (-6,4)

C. (-7,10)

Отразите фигуру относительно оси y.

2)

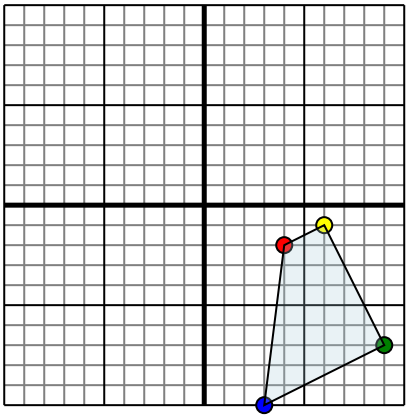

Фигура сверху имеет координаты:

A. (4,-2)

B. (6,-1)

C. (9,-7)

D. (3,-10)

Отразите фигуру относительно оси x.

3)

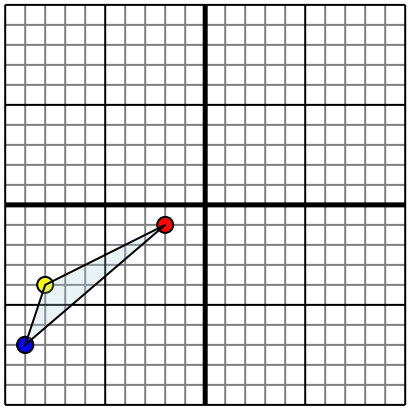

Фигура сверху имеет координаты:

A. (-2,-1)

B. (-8,-4)

C. (-9,-7)

Отразите фигуру относительно оси x.

4)

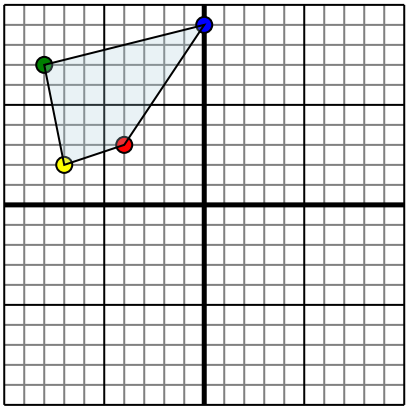

Фигура сверху имеет координаты:

A. (-4,3)

B. (-7,2)

C. (-8,7)

D. (0,9)

Отразите фигуру относительно оси y.

1-4	75	50	25	0

Отразите каждую фигуру на координатной плоскости.

1)

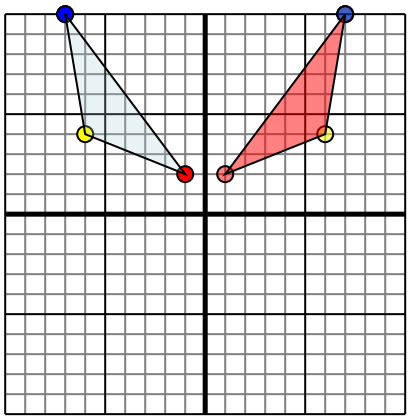

Фигура сверху имеет координаты:

A. (-1,2)

B. (-6,4)

C. (-7,10)

Отразите фигуру относительно оси y.

2)

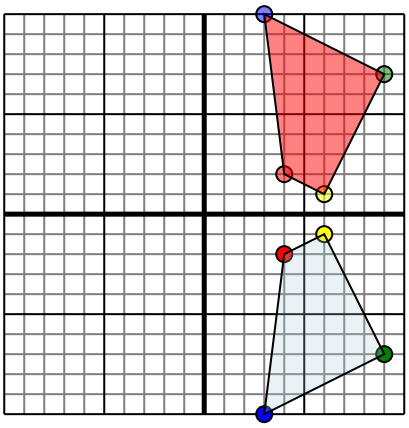

Фигура сверху имеет координаты:

A. (4,-2)

B. (6,-1)

C. (9,-7)

D. (3,-10)

Отразите фигуру относительно оси x.

3)

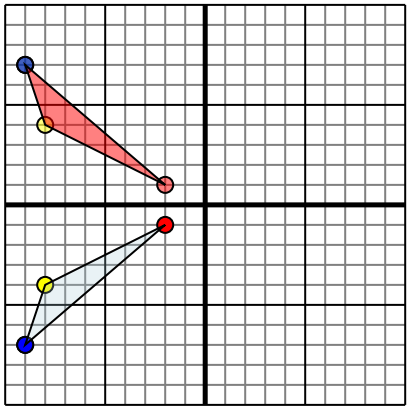

Фигура сверху имеет координаты:

A. (-2,-1)

B. (-8,-4)

C. (-9,-7)

Отразите фигуру относительно оси x.

4)

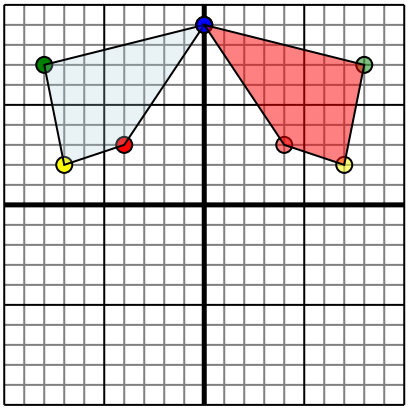

Фигура сверху имеет координаты:

A. (-4,3)

B. (-7,2)

C. (-8,7)

D. (0,9)

Отразите фигуру относительно оси y.

Ответы

1. 1 2 6 4 7 10 График
2. 4 2 6 1 9 7 3 10 График
3. -2 1 -8 4 -9 7 График
4. 4 3 7 2 8 7 0 9 График

1-4	75	50	25	0