Отразите каждую фигуру на координатной плоскости.

Ответы

1. ___ ___ ___ ___

2. ___ ___ ___ ___ ___

3. ___ ___ ___ ___

4. ___ ___ ___ ___ ___

1)

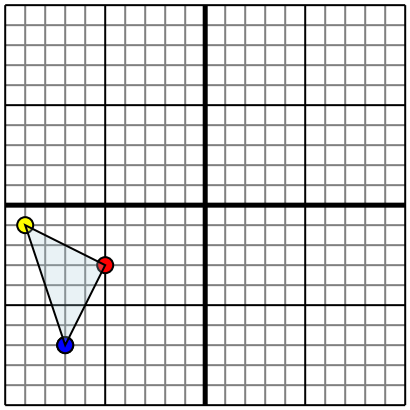

Фигура сверху имеет координаты:

A. (-5,-3)

B. (-9,-1)

C. (-7,-7)

Отразите фигуру относительно оси x.

2)

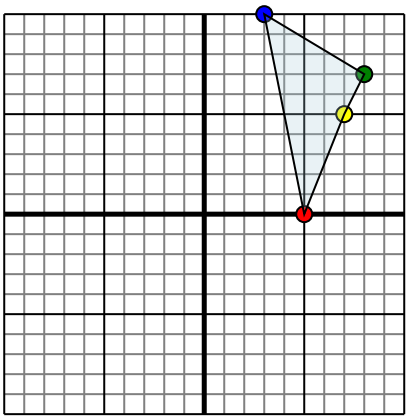

Фигура сверху имеет координаты:

A. (5,0)

B. (7,5)

C. (8,7)

D. (3,10)

Отразите фигуру относительно оси x.

3)

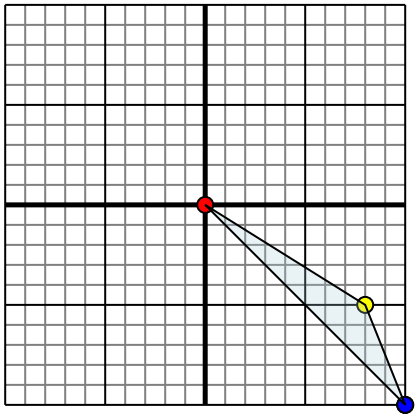

Фигура сверху имеет координаты:

A. (0,0)

B. (8,-5)

C. (10,-10)

Отразите фигуру относительно оси y.

4)

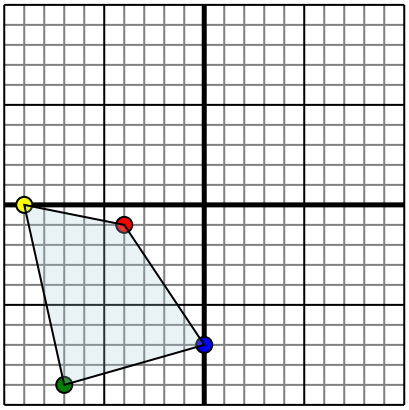

Фигура сверху имеет координаты:

A. (-4,-1)

B. (-9,0)

C. (-7,-9)

D. (0,-7)

Отразите фигуру относительно оси y.

1-4	75	50	25	0

Отразите каждую фигуру на координатной плоскости.

1)

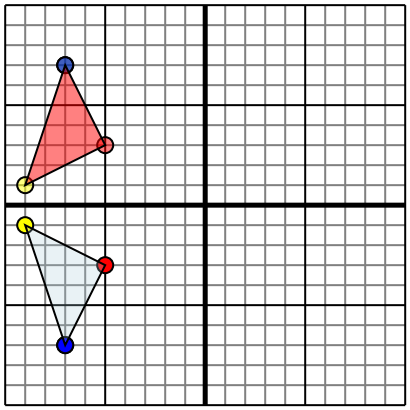

Фигура сверху имеет координаты:

A. (-5,-3)

B. (-9,-1)

C. (-7,-7)

Отразите фигуру относительно оси x.

2)

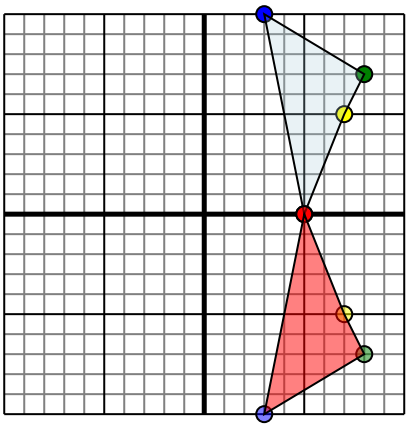

Фигура сверху имеет координаты:

A. (5,0)

B. (7,5)

C. (8,7)

D. (3,10)

Отразите фигуру относительно оси x.

3)

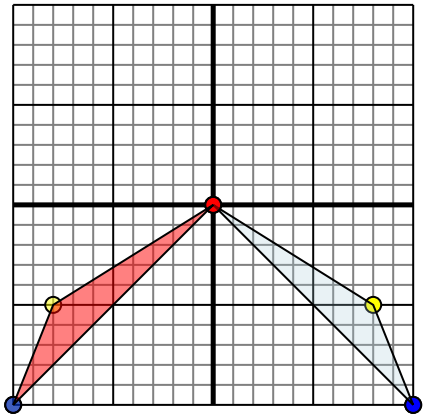

Фигура сверху имеет координаты:

A. (0,0)

B. (8,-5)

C. (10,-10)

Отразите фигуру относительно оси y.

4)

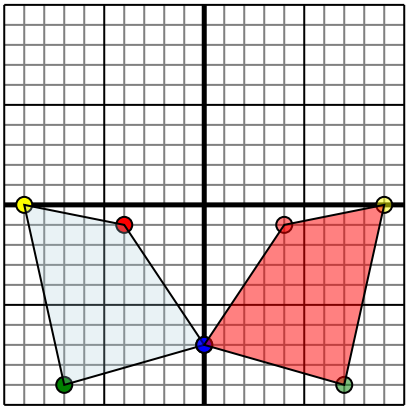

Фигура сверху имеет координаты:

A. (-4,-1)

B. (-9,0)

C. (-7,-9)

D. (0,-7)

Отразите фигуру относительно оси y.

Ответы

1. -5 3 -9 1 -7 7 График
2. 5 0 7 -5 8 -7 3 -10 График
3. 0 0 -8 -5 -10 -10 График
4. 4 -1 9 0 7 -9 0 -7 График

1-4	75	50	25	0