Вычерчивание графика Имя:

Определите части и обозначте их на графике.

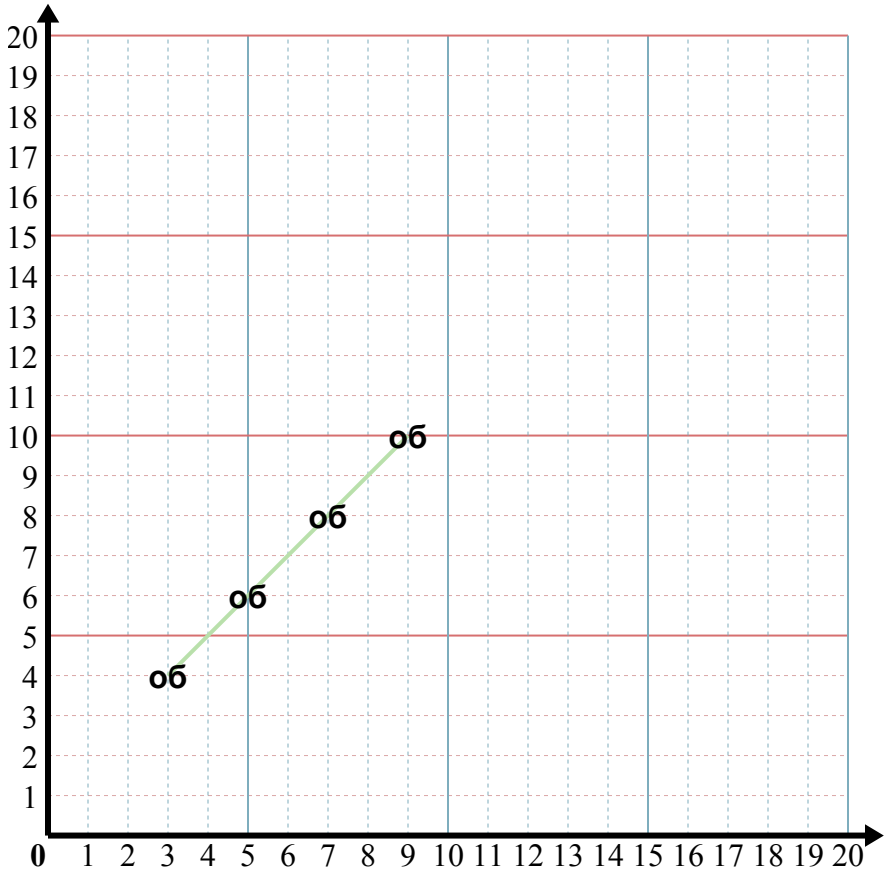

об) X: Начните с 3 и прибавьте 2.
Y: Начните с 4 и прибавьте 2.
x: 3 5 7 9
y: 4 6 8 10

1) X: Начните с 7 и прибавьте 2.
Y: Начните с 19 и отнемите 3.
x: ____ ____ ____ ____
y: ____ ____ ____ ____

2) X: Начните с 8 и прибавьте 1.
Y: Начните с 7 и отнемите 2.
x: ____ ____ ____ ____
y: ____ ____ ____ ____

3) X: Начните с 9 и прибавьте 3.
Y: Начните с 6 и отнемите 1.
x: ____ ____ ____ ____
y: ____ ____ ____ ____

4) X: Начните с 8 и прибавьте 1.
Y: Начните с 8 и отнемите 1.
x: ____ ____ ____ ____
y: ____ ____ ____ ____

5) X: Начните с 12 и отнемите 3.
Y: Начните с 1 и прибавьте 1.
x: ____ ____ ____ ____
y: ____ ____ ____ ____

Ответы

об. (9 10)
1. ____
2. ____
3. ____
4. ____
5. ____

1-5	80	60	40	20	0

Вычерчивание графика

Имя: Ключ к правильным ответам

Определите части и обозначте их на графике.

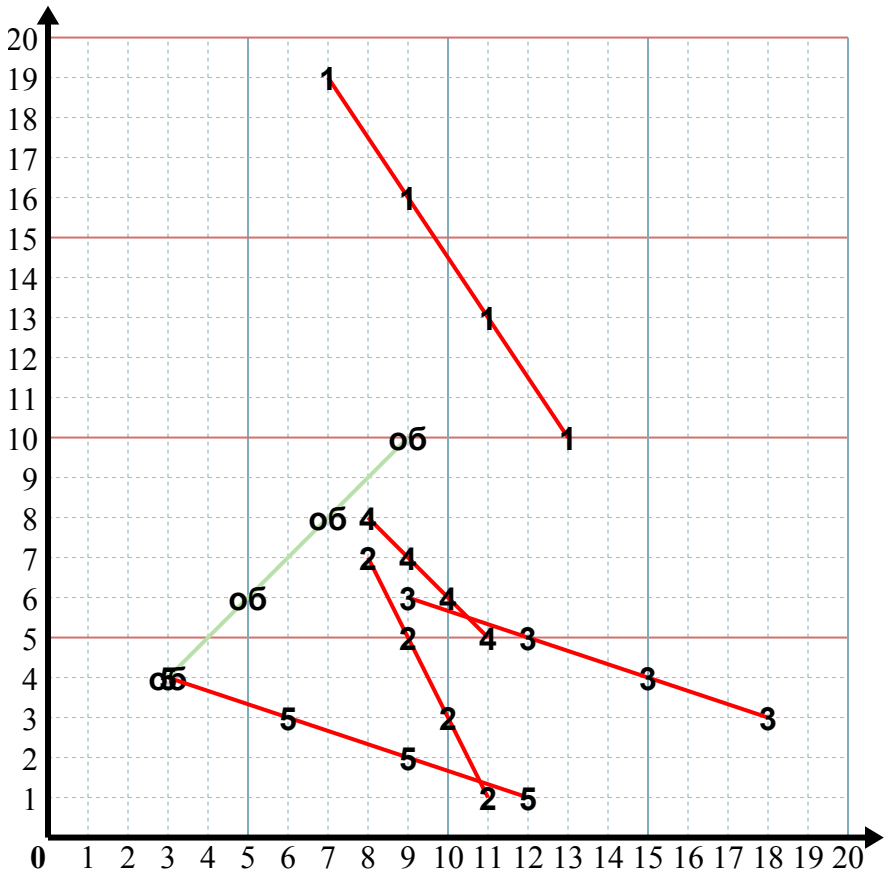

об) X: Начните с 3 и прибавьте 2.
Y: Начните с 4 и прибавьте 2.

x:	3	5	7	9
y:	4	6	8	10

1) X: Начните с 7 и прибавьте 2.
Y: Начните с 19 и отнемите 3.

x:	7	9	11	13
y:	19	16	13	10

2) X: Начните с 8 и прибавьте 1.
Y: Начните с 7 и отнемите 2.

x:	8	9	10	11
y:	7	5	3	1

3) X: Начните с 9 и прибавьте 3.
Y: Начните с 6 и отнемите 1.

x:	9	12	15	18
y:	6	5	4	3

4) X: Начните с 8 и прибавьте 1.
Y: Начните с 8 и отнемите 1.

x:	8	9	10	11
y:	8	7	6	5

5) X: Начните с 12 и отнемите 3.
Y: Начните с 1 и прибавьте 1.

x:	12	9	6	3
y:	1	2	3	4

Ответы

об. (9 10)

1. (13 10)

2. (11 1)

3. (18 3)

4. (11 5)

5. (3 4)

1-5	80	60	40	20	0

Вычерчивание графика Имя:

Определите части и обозначте их на графике.

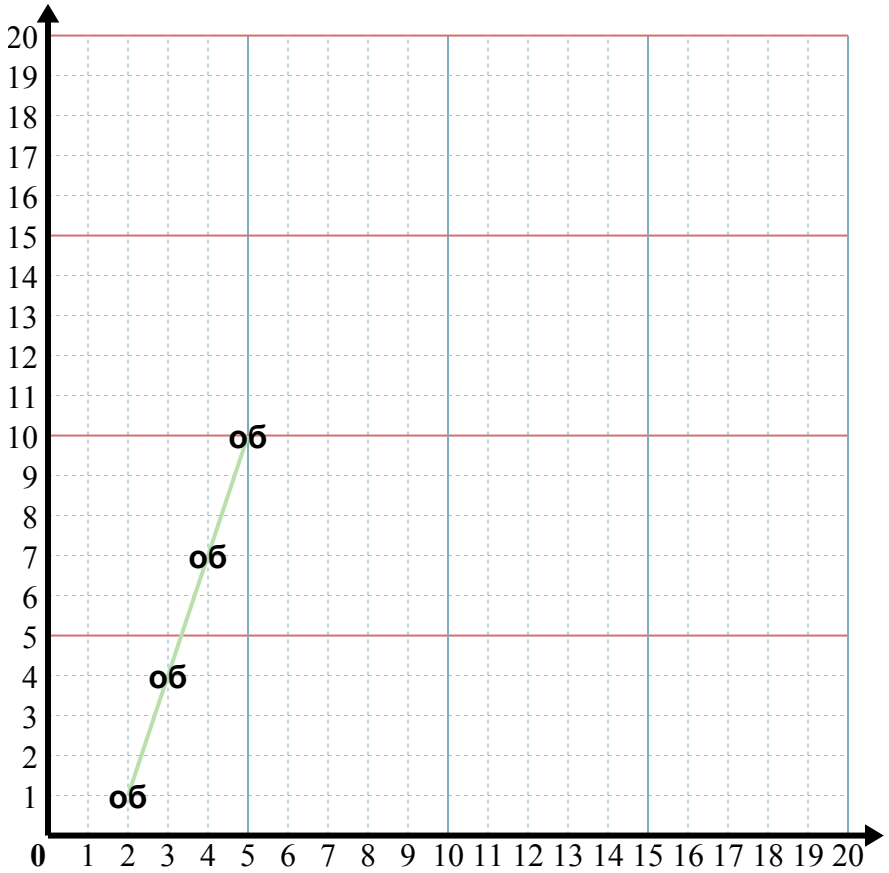

об) X: Начните с 2 и прибавьте 1.
Y: Начните с 1 и прибавьте 3.
x: 2 3 4 5
y: 1 4 7 10

1) X: Начните с 6 и прибавьте 1.
Y: Начните с 13 и отнемите 1.
x: ____ ____ ____ ____
y: ____ ____ ____ ____

2) X: Начните с 4 и прибавьте 1.
Y: Начните с 11 и отнемите 1.
x: ____ ____ ____ ____
y: ____ ____ ____ ____

3) X: Начните с 4 и прибавьте 1.
Y: Начните с 10 и прибавьте 1.
x: ____ ____ ____ ____
y: ____ ____ ____ ____

4) X: Начните с 13 и отнемите 2.
Y: Начните с 9 и прибавьте 3.
x: ____ ____ ____ ____
y: ____ ____ ____ ____

5) X: Начните с 11 и отнемите 1.
Y: Начните с 1 и прибавьте 2.
x: ____ ____ ____ ____
y: ____ ____ ____ ____

Ответы

об. (5 10)
1. ____
2. ____
3. ____
4. ____
5. ____

1-5	80	60	40	20	0

Вычерчивание графика

Имя: Ключ к правильным ответам

Определите части и обозначте их на графике.

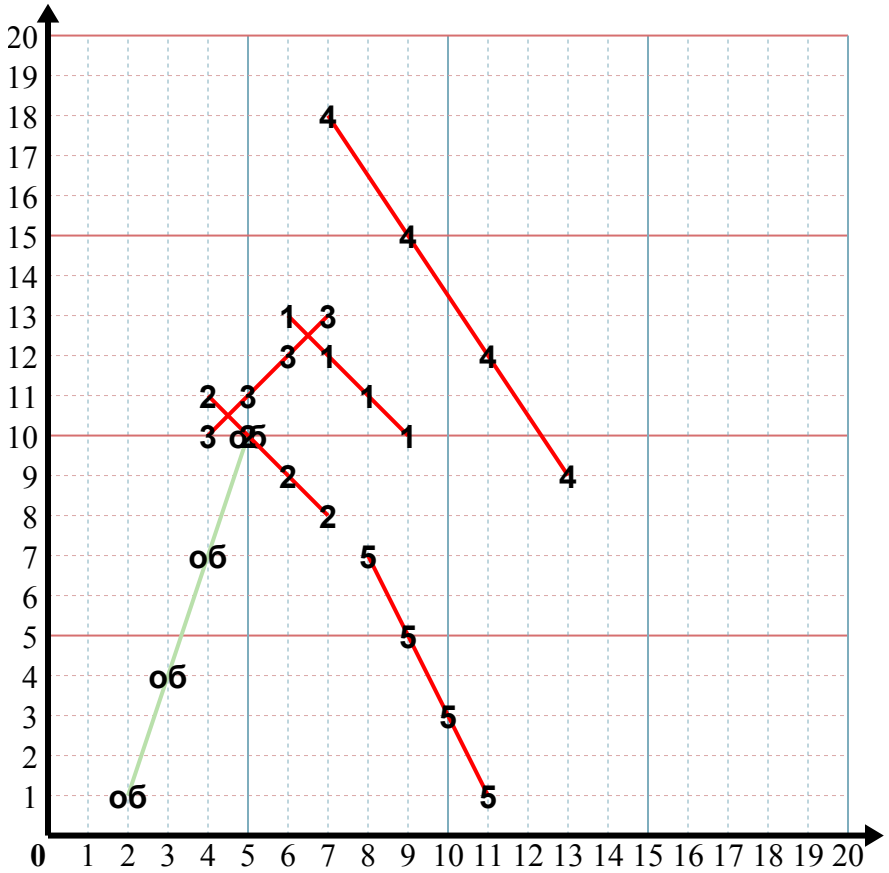

об) X: Начните с 2 и прибавьте 1.
Y: Начните с 1 и прибавьте 3.

x:	2	3	4	5
y:	1	4	7	10

1) X: Начните с 6 и прибавьте 1.
Y: Начните с 13 и отнемите 1.

x:	6	7	8	9
y:	13	12	11	10

2) X: Начните с 4 и прибавьте 1.
Y: Начните с 11 и отнемите 1.

x:	4	5	6	7
y:	11	10	9	8

3) X: Начните с 4 и прибавьте 1.
Y: Начните с 10 и прибавьте 1.

x:	4	5	6	7
y:	10	11	12	13

4) X: Начните с 13 и отнемите 2.
Y: Начните с 9 и прибавьте 3.

x:	13	11	9	7
y:	9	12	15	18

5) X: Начните с 11 и отнемите 1.
Y: Начните с 1 и прибавьте 2.

x:	11	10	9	8
y:	1	3	5	7

Ответы

об. (5 10)

1. (9 10)

2. (7 8)

3. (7 13)

4. (7 18)

5. (8 7)

1-5	80	60	40	20	0

Вычерчивание графика Имя:

Определите части и обозначте их на графике.

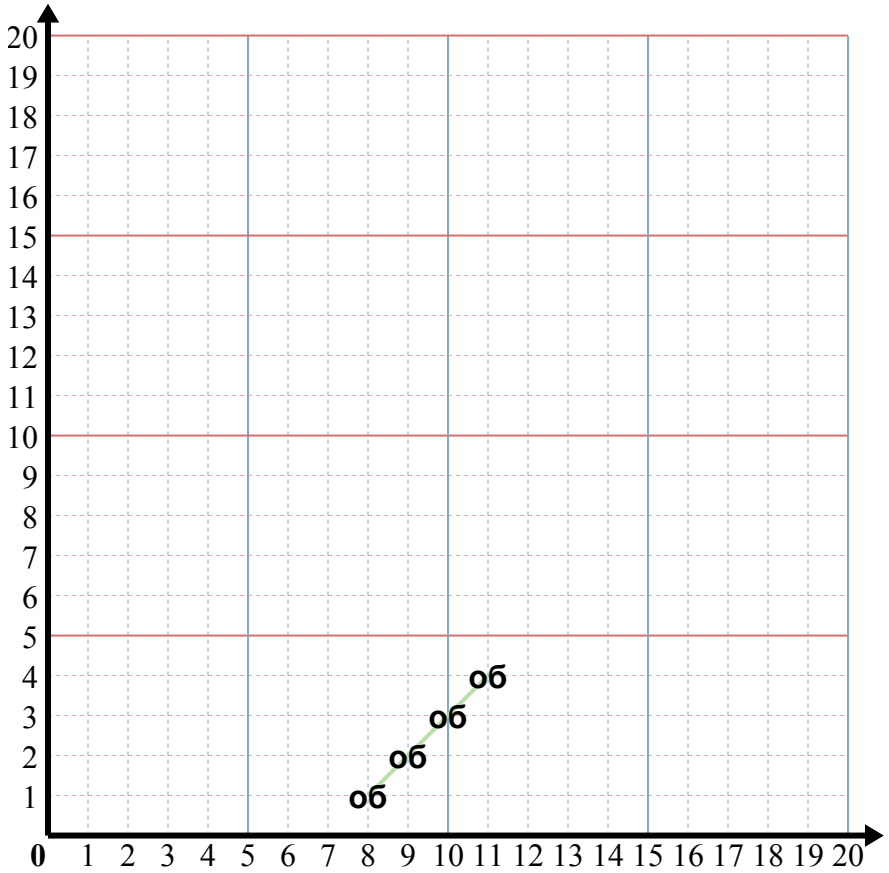

об) X: Начните с 11 и отнемите 1.
Y: Начните с 4 и отнемите 1.
x: 11 10 9 8
y: 4 3 2 1

1) X: Начните с 3 и прибавьте 3.
Y: Начните с 12 и отнемите 3.
x: ____ ____ ____ ____
y: ____ ____ ____ ____

2) X: Начните с 13 и отнемите 3.
Y: Начните с 4 и прибавьте 2.
x: ____ ____ ____ ____
y: ____ ____ ____ ____

3) X: Начните с 3 и прибавьте 2.
Y: Начните с 9 и прибавьте 2.
x: ____ ____ ____ ____
y: ____ ____ ____ ____

4) X: Начните с 12 и отнемите 1.
Y: Начните с 8 и прибавьте 3.
x: ____ ____ ____ ____
y: ____ ____ ____ ____

5) X: Начните с 12 и отнемите 2.
Y: Начните с 13 и отнемите 2.
x: ____ ____ ____ ____
y: ____ ____ ____ ____

Ответы

об. **(8 1)**
1. ____
2. ____
3. ____
4. ____
5. ____

1-5	80	60	40	20	0

Определите части и обозначте их на графике.

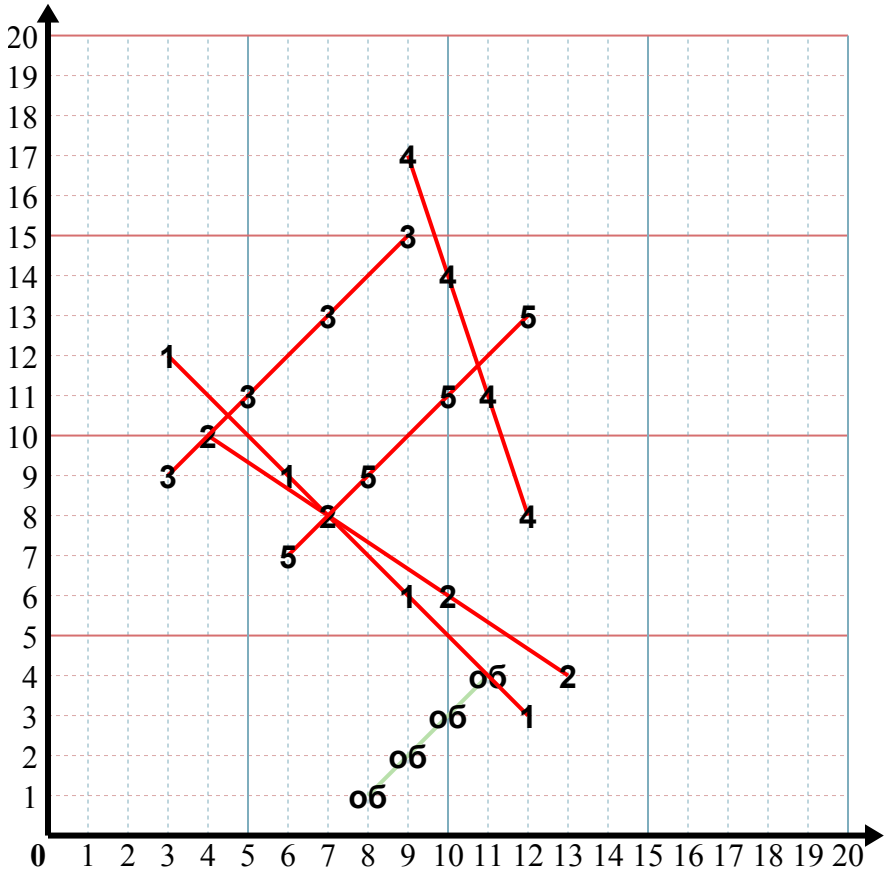

об) X: Начните с 11 и отнемите 1.
Y: Начните с 4 и отнемите 1.

x:	11	10	9	8
y:	4	3	2	1

1) X: Начните с 3 и прибавьте 3.
Y: Начните с 12 и отнемите 3.

x:	3	6	9	12
y:	12	9	6	3

2) X: Начните с 13 и отнемите 3.
Y: Начните с 4 и прибавьте 2.

x:	13	10	7	4
y:	4	6	8	10

3) X: Начните с 3 и прибавьте 2.
Y: Начните с 9 и прибавьте 2.

x:	3	5	7	9
y:	9	11	13	15

4) X: Начните с 12 и отнемите 1.
Y: Начните с 8 и прибавьте 3.

x:	12	11	10	9
y:	8	11	14	17

5) X: Начните с 12 и отнемите 2.
Y: Начните с 13 и отнемите 2.

x:	12	10	8	6
y:	13	11	9	7

Ответы

об. (8 1)
1. (12 3)
2. (4 10)
3. (9 15)
4. (9 17)
5. (6 7)

1-5	80	60	40	20	0

Вычерчивание графика Имя:

Определите части и обозначте их на графике.

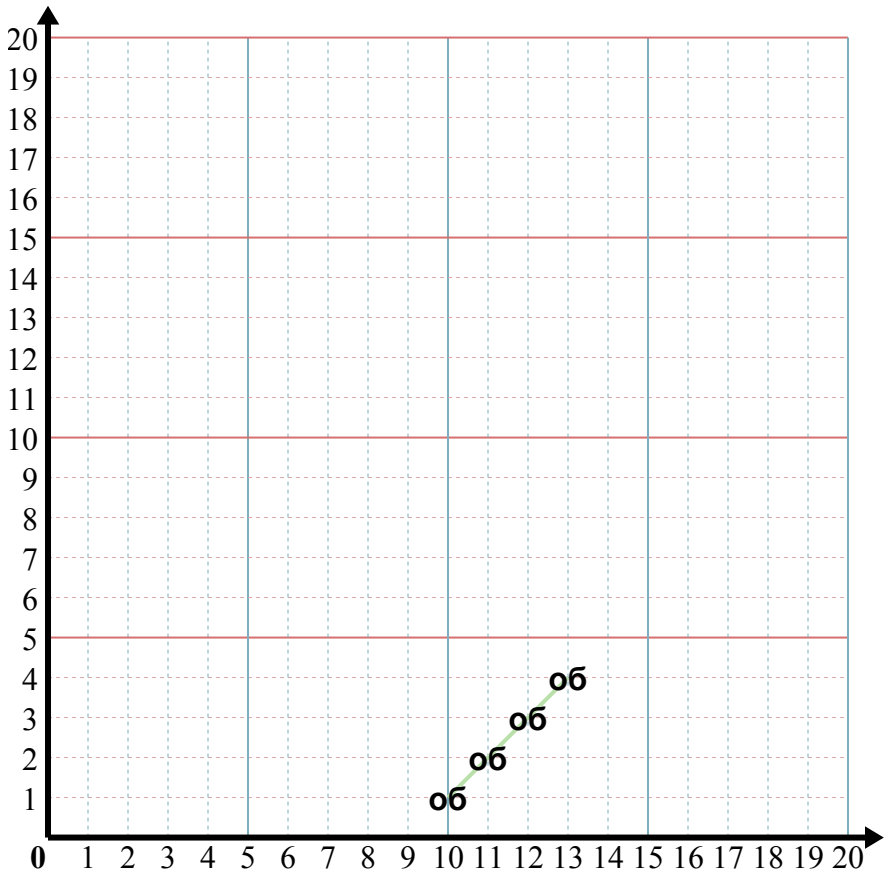

об) X: Начните с 13 и отнемите 1.
Y: Начните с 4 и отнемите 1.
x: 13 12 11 10
y: 4 3 2 1

1) X: Начните с 7 и прибавьте 2.
Y: Начните с 19 и отнемите 3.
x: ____ ____ ____ ____
y: ____ ____ ____ ____

2) X: Начните с 5 и прибавьте 1.
Y: Начните с 1 и прибавьте 2.
x: ____ ____ ____ ____
y: ____ ____ ____ ____

3) X: Начните с 12 и отнемите 1.
Y: Начните с 6 и прибавьте 3.
x: ____ ____ ____ ____
y: ____ ____ ____ ____

4) X: Начните с 5 и отнемите 1.
Y: Начните с 5 и прибавьте 3.
x: ____ ____ ____ ____
y: ____ ____ ____ ____

5) X: Начните с 7 и отнемите 2.
Y: Начните с 8 и прибавьте 3.
x: ____ ____ ____ ____
y: ____ ____ ____ ____

Ответы

об. (10 1)
1. ____
2. ____
3. ____
4. ____
5. ____

1-5	80	60	40	20	0

Определите части и обозначте их на графике.

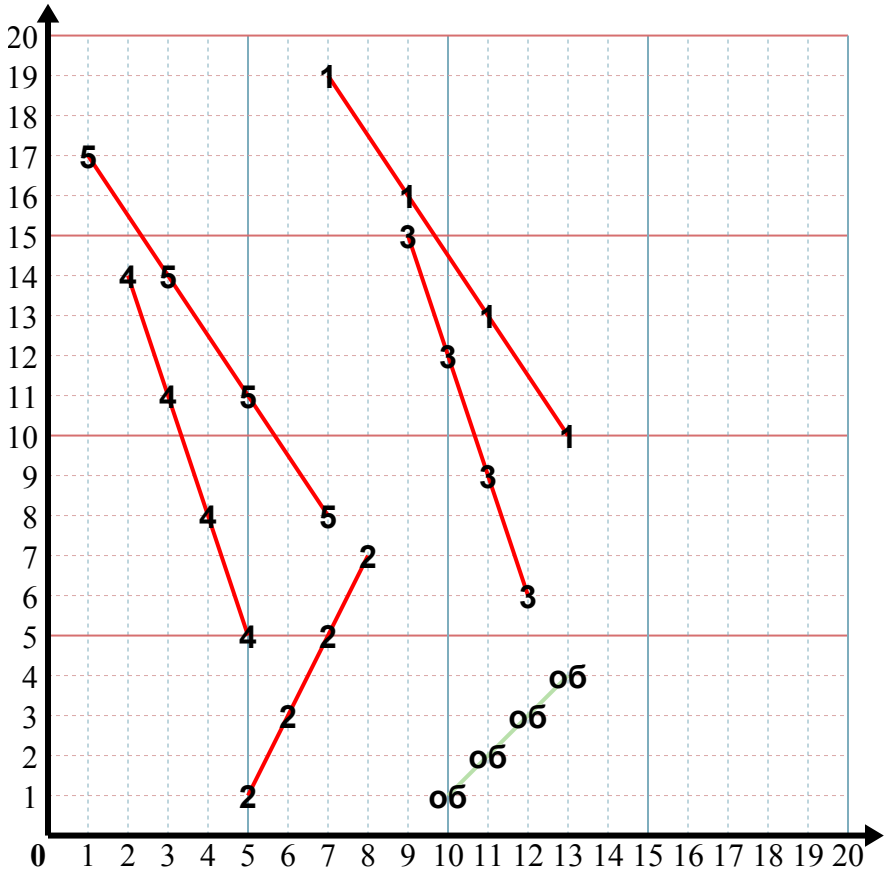

об) X: Начните с 13 и отнемите 1.
Y: Начните с 4 и отнемите 1.

x:	13	12	11	10
y:	4	3	2	1

1) X: Начните с 7 и прибавьте 2.
Y: Начните с 19 и отнемите 3.

x:	7	9	11	13
y:	19	16	13	10

2) X: Начните с 5 и прибавьте 1.
Y: Начните с 1 и прибавьте 2.

x:	5	6	7	8
y:	1	3	5	7

3) X: Начните с 12 и отнемите 1.
Y: Начните с 6 и прибавьте 3.

x:	12	11	10	9
y:	6	9	12	15

4) X: Начните с 5 и отнемите 1.
Y: Начните с 5 и прибавьте 3.

x:	5	4	3	2
y:	5	8	11	14

5) X: Начните с 7 и отнемите 2.
Y: Начните с 8 и прибавьте 3.

x:	7	5	3	1
y:	8	11	14	17

Ответы

об. (10 1)
1. (13 10)
2. (8 7)
3. (9 15)
4. (2 14)
5. (1 17)

1-5	80	60	40	20	0

Вычерчивание графика Имя:

Определите части и обозначте их на графике.

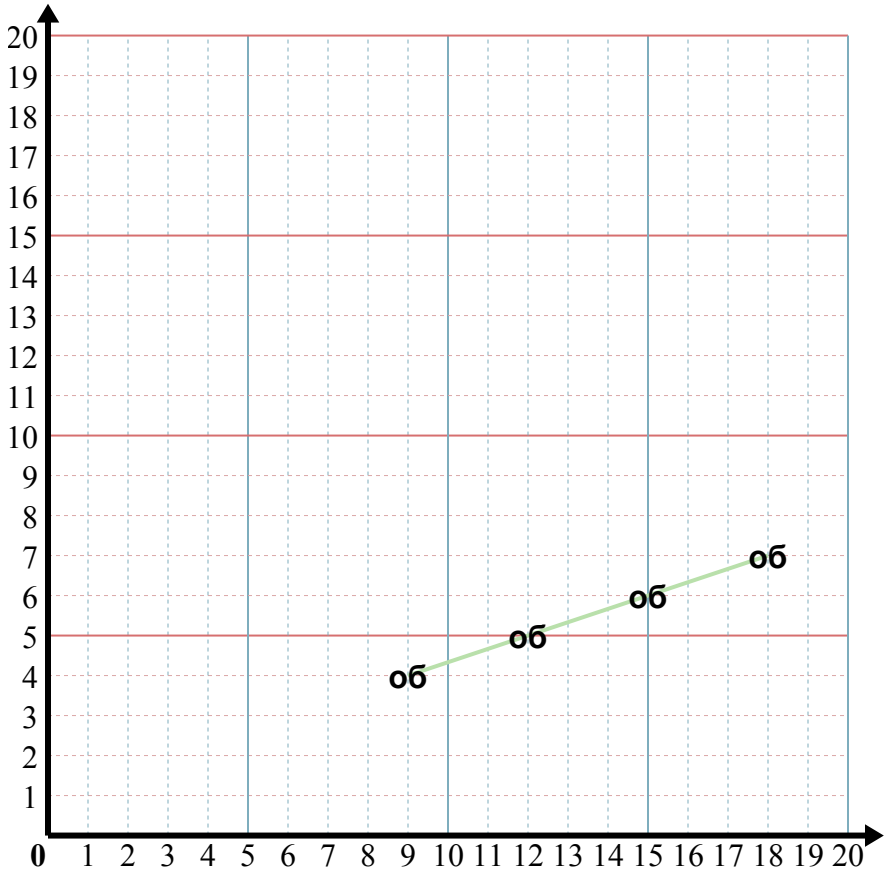

об) X: Начните с 9 и прибавьте 3.
Y: Начните с 4 и прибавьте 1.
x: 9 12 15 18
y: 4 5 6 7

1) X: Начните с 15 и отнемите 3.
Y: Начните с 10 и отнемите 3.
x: ____ ____ ____ ____
y: ____ ____ ____ ____

2) X: Начните с 2 и прибавьте 3.
Y: Начните с 14 и отнемите 2.
x: ____ ____ ____ ____
y: ____ ____ ____ ____

3) X: Начните с 1 и прибавьте 2.
Y: Начните с 2 и прибавьте 1.
x: ____ ____ ____ ____
y: ____ ____ ____ ____

4) X: Начните с 2 и прибавьте 1.
Y: Начните с 9 и отнемите 2.
x: ____ ____ ____ ____
y: ____ ____ ____ ____

5) X: Начните с 1 и прибавьте 2.
Y: Начните с 1 и прибавьте 1.
x: ____ ____ ____ ____
y: ____ ____ ____ ____

Ответы

об. (18 7)
1. ____
2. ____
3. ____
4. ____
5. ____

1-5	80	60	40	20	0

Вычерчивание графика

Имя: Ключ к правильным ответам

Определите части и обозначте их на графике.

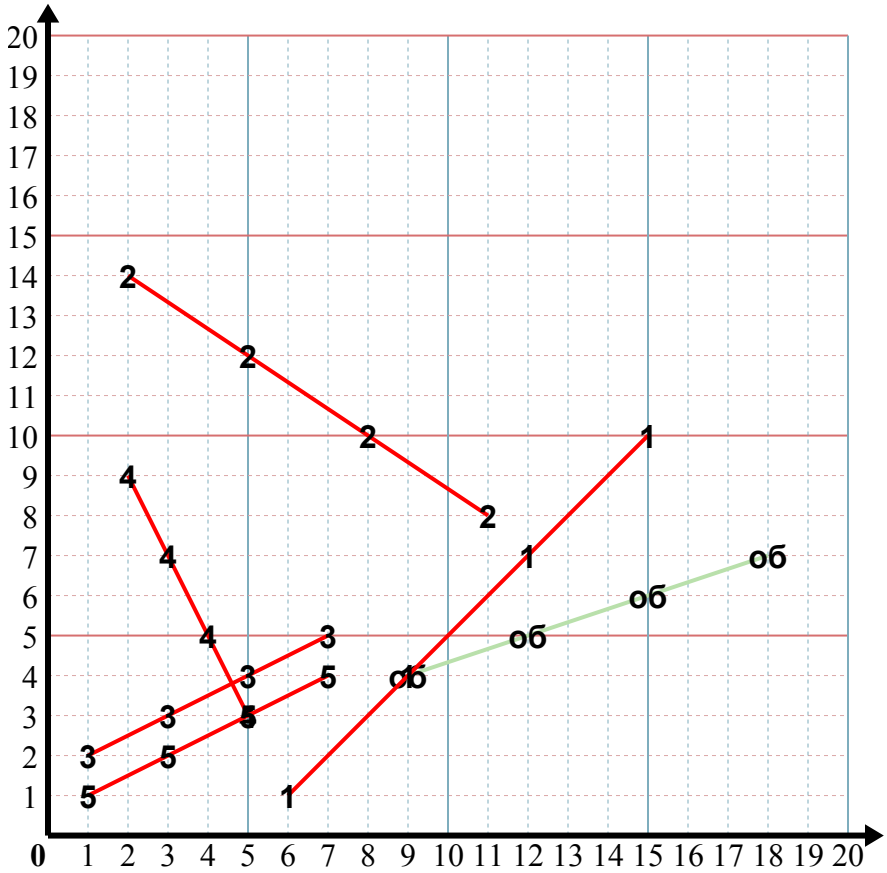

об) X: Начните с 9 и прибавьте 3.
Y: Начните с 4 и прибавьте 1.

x:	9	12	15	18
y:	4	5	6	7

1) X: Начните с 15 и отнемите 3.
Y: Начните с 10 и отнемите 3.

x:	15	12	9	6
y:	10	7	4	1

2) X: Начните с 2 и прибавьте 3.
Y: Начните с 14 и отнемите 2.

x:	2	5	8	11
y:	14	12	10	8

3) X: Начните с 1 и прибавьте 2.
Y: Начните с 2 и прибавьте 1.

x:	1	3	5	7
y:	2	3	4	5

4) X: Начните с 2 и прибавьте 1.
Y: Начните с 9 и отнемите 2.

x:	2	3	4	5
y:	9	7	5	3

5) X: Начните с 1 и прибавьте 2.
Y: Начните с 1 и прибавьте 1.

x:	1	3	5	7
y:	1	2	3	4

Ответы

об. (18 7)

1. (6 1)

2. (11 8)

3. (7 5)

4. (5 3)

5. (7 4)

1-5	80	60	40	20	0

Вычерчивание графика Имя:

Определите части и обозначте их на графике.

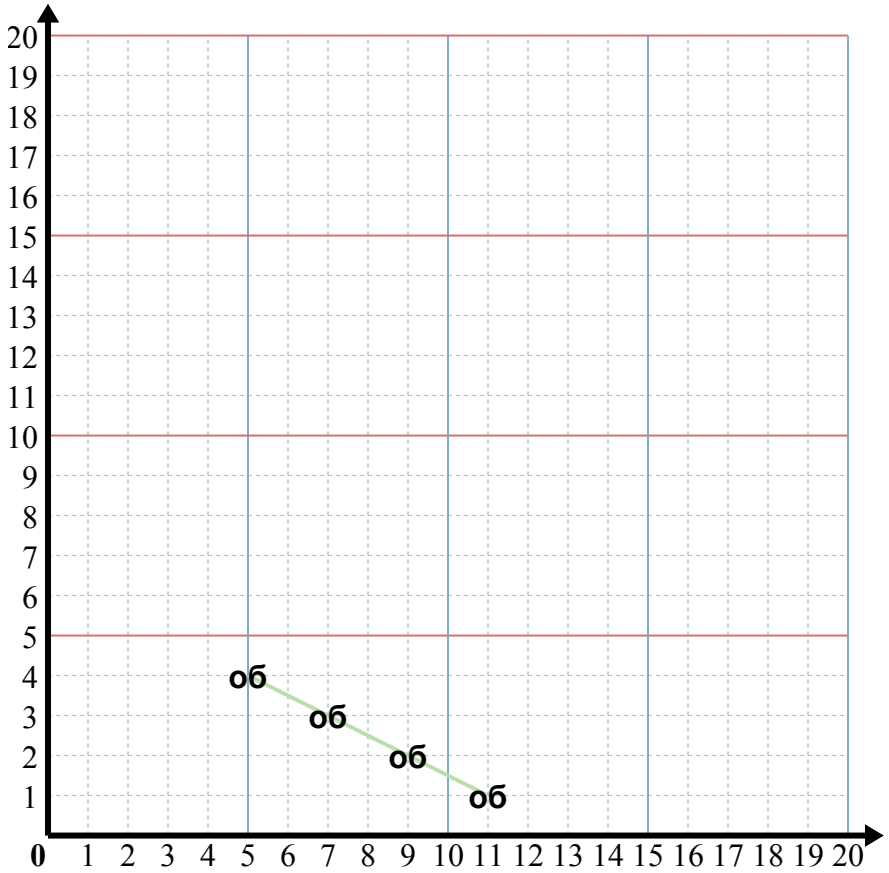

об) X: Начните с 11 и отнемите 2.
Y: Начните с 1 и прибавьте 1.
x: 11 9 7 5
y: 1 2 3 4

1) X: Начните с 9 и прибавьте 2.
Y: Начните с 1 и прибавьте 1.
x: ____ ____ ____ ____
y: ____ ____ ____ ____

2) X: Начните с 12 и отнемите 3.
Y: Начните с 11 и отнемите 2.
x: ____ ____ ____ ____
y: ____ ____ ____ ____

3) X: Начните с 4 и прибавьте 1.
Y: Начните с 8 и отнемите 1.
x: ____ ____ ____ ____
y: ____ ____ ____ ____

4) X: Начните с 9 и прибавьте 1.
Y: Начните с 15 и отнемите 3.
x: ____ ____ ____ ____
y: ____ ____ ____ ____

5) X: Начните с 4 и прибавьте 1.
Y: Начните с 10 и прибавьте 2.
x: ____ ____ ____ ____
y: ____ ____ ____ ____

Ответы

об. (54)
1. ____
2. ____
3. ____
4. ____
5. ____

1-5	80	60	40	20	0

Определите части и обозначте их на графике.

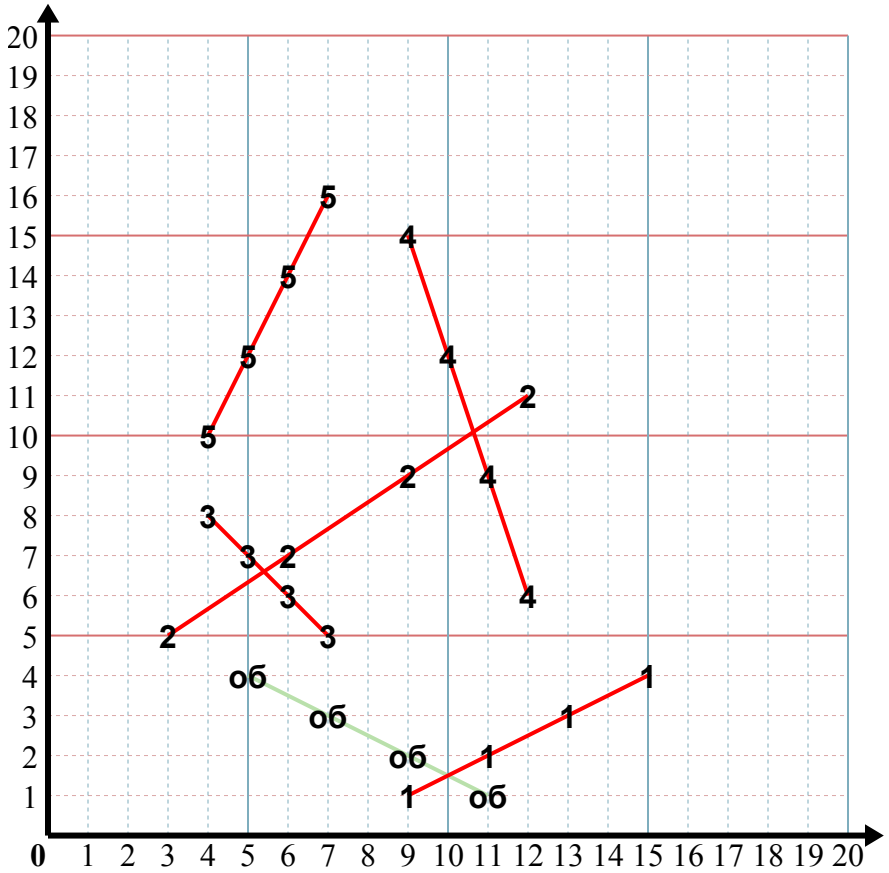

об) X: Начните с 11 и отнемите 2.
Y: Начните с 1 и прибавьте 1.

x:	11	9	7	5
y:	1	2	3	4

1) X: Начните с 9 и прибавьте 2.
Y: Начните с 1 и прибавьте 1.

x:	9	11	13	15
y:	1	2	3	4

2) X: Начните с 12 и отнемите 3.
Y: Начните с 11 и отнемите 2.

x:	12	9	6	3
y:	11	9	7	5

3) X: Начните с 4 и прибавьте 1.
Y: Начните с 8 и отнемите 1.

x:	4	5	6	7
y:	8	7	6	5

4) X: Начните с 9 и прибавьте 1.
Y: Начните с 15 и отнемите 3.

x:	9	10	11	12
y:	15	12	9	6

5) X: Начните с 4 и прибавьте 1.
Y: Начните с 10 и прибавьте 2.

x:	4	5	6	7
y:	10	12	14	16

Ответы

об. (5 4)
1. (15 4)
2. (3 5)
3. (7 5)
4. (12 6)
5. (7 16)

1-5	80	60	40	20	0

Вычерчивание графика Имя:

Определите части и обозначте их на графике.

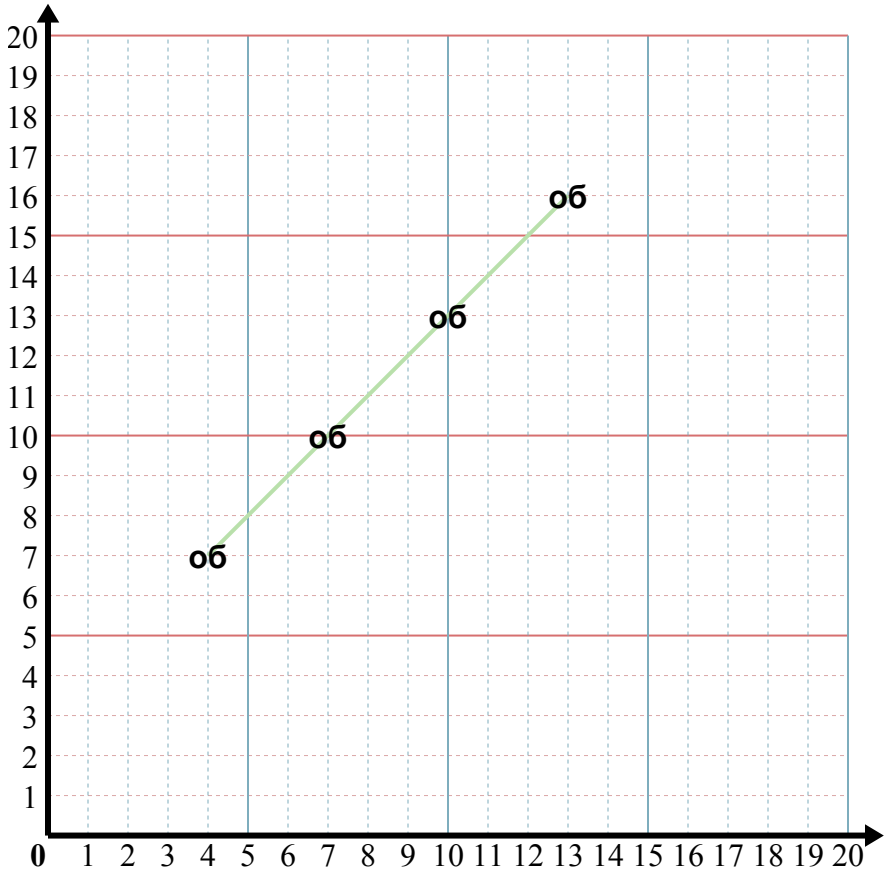

об) X: Начните с 13 и отнемите 3.
Y: Начните с 16 и отнемите 3.
x: 13 10 7 4
y: 16 13 10 7

1) X: Начните с 16 и отнемите 2.
Y: Начните с 3 и прибавьте 2.
x: ____ ____ ____ ____
y: ____ ____ ____ ____

2) X: Начните с 7 и прибавьте 1.
Y: Начните с 4 и прибавьте 2.
x: ____ ____ ____ ____
y: ____ ____ ____ ____

3) X: Начните с 8 и отнемите 1.
Y: Начните с 10 и отнемите 2.
x: ____ ____ ____ ____
y: ____ ____ ____ ____

4) X: Начните с 7 и отнемите 1.
Y: Начните с 10 и отнемите 3.
x: ____ ____ ____ ____
y: ____ ____ ____ ____

5) X: Начните с 8 и прибавьте 1.
Y: Начните с 7 и отнемите 2.
x: ____ ____ ____ ____
y: ____ ____ ____ ____

Ответы

об. (47)
1. ____
2. ____
3. ____
4. ____
5. ____

1-5	80	60	40	20	0

Определите части и обозначте их на графике.

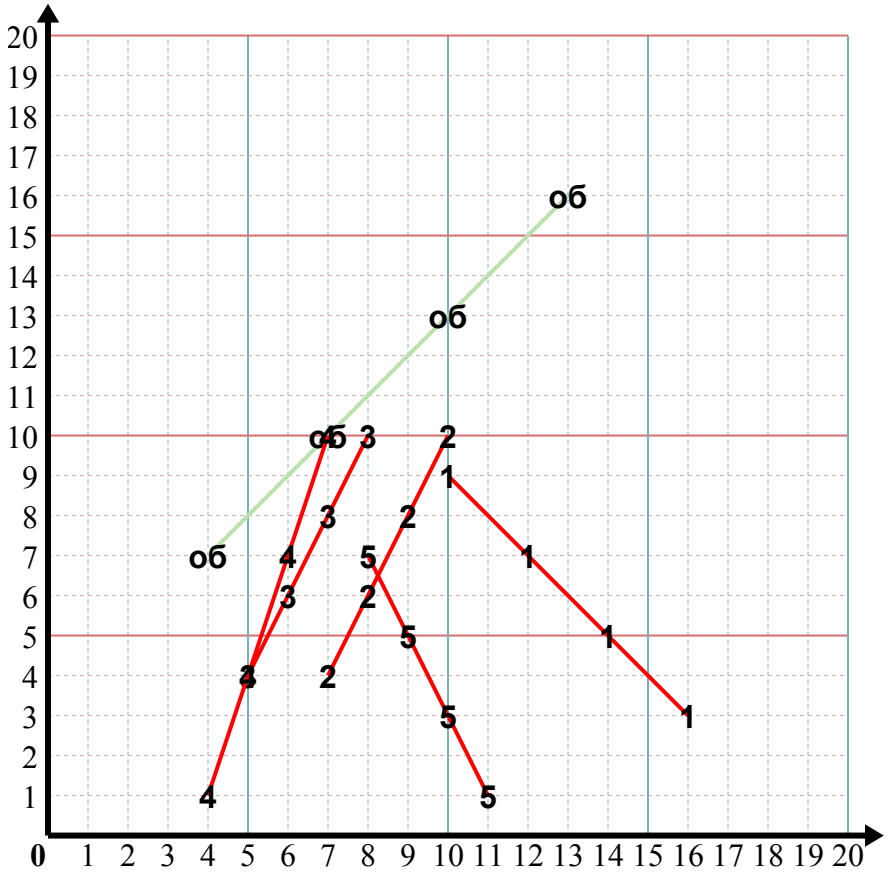

об) X: Начните с 13 и отнемите 3.
Y: Начните с 16 и отнемите 3.

x:	13	10	7	4
y:	16	13	10	7

1) X: Начните с 16 и отнемите 2.
Y: Начните с 3 и прибавьте 2.

x:	16	14	12	10
y:	3	5	7	9

2) X: Начните с 7 и прибавьте 1.
Y: Начните с 4 и прибавьте 2.

x:	7	8	9	10
y:	4	6	8	10

3) X: Начните с 8 и отнемите 1.
Y: Начните с 10 и отнемите 2.

x:	8	7	6	5
y:	10	8	6	4

4) X: Начните с 7 и отнемите 1.
Y: Начните с 10 и отнемите 3.

x:	7	6	5	4
y:	10	7	4	1

5) X: Начните с 8 и прибавьте 1.
Y: Начните с 7 и отнемите 2.

x:	8	9	10	11
y:	7	5	3	1

Ответы

об. (4 7)
1. (10 9)
2. (10 10)
3. (5 4)
4. (4 1)
5. (11 1)

1-5	80	60	40	20	0

Вычерчивание графика Имя:

Определите части и обозначте их на графике.

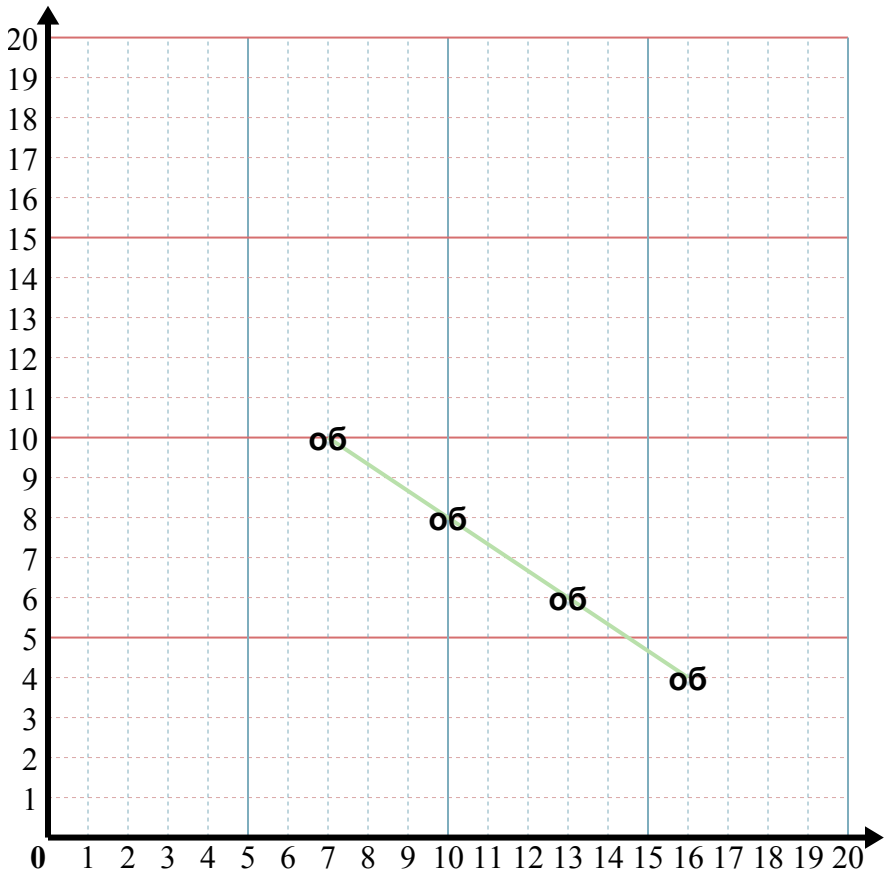

об) X: Начните с 16 и отнемите 3.
Y: Начните с 4 и прибавьте 2.
x: 16 13 10 7
y: 4 6 8 10

1) X: Начните с 11 и отнемите 3.
Y: Начните с 15 и отнемите 2.
x: ____ ____ ____ ____
y: ____ ____ ____ ____

2) X: Начните с 16 и отнемите 3.
Y: Начните с 4 и прибавьте 2.
x: ____ ____ ____ ____
y: ____ ____ ____ ____

3) X: Начните с 9 и прибавьте 3.
Y: Начните с 1 и прибавьте 1.
x: ____ ____ ____ ____
y: ____ ____ ____ ____

4) X: Начните с 10 и отнемите 3.
Y: Начните с 6 и прибавьте 1.
x: ____ ____ ____ ____
y: ____ ____ ____ ____

5) X: Начните с 12 и отнемите 3.
Y: Начните с 16 и отнемите 3.
x: ____ ____ ____ ____
y: ____ ____ ____ ____

Ответы

об. (7 10)
1. ____
2. ____
3. ____
4. ____
5. ____

1-5	80	60	40	20	0

Определите части и обозначте их на графике.

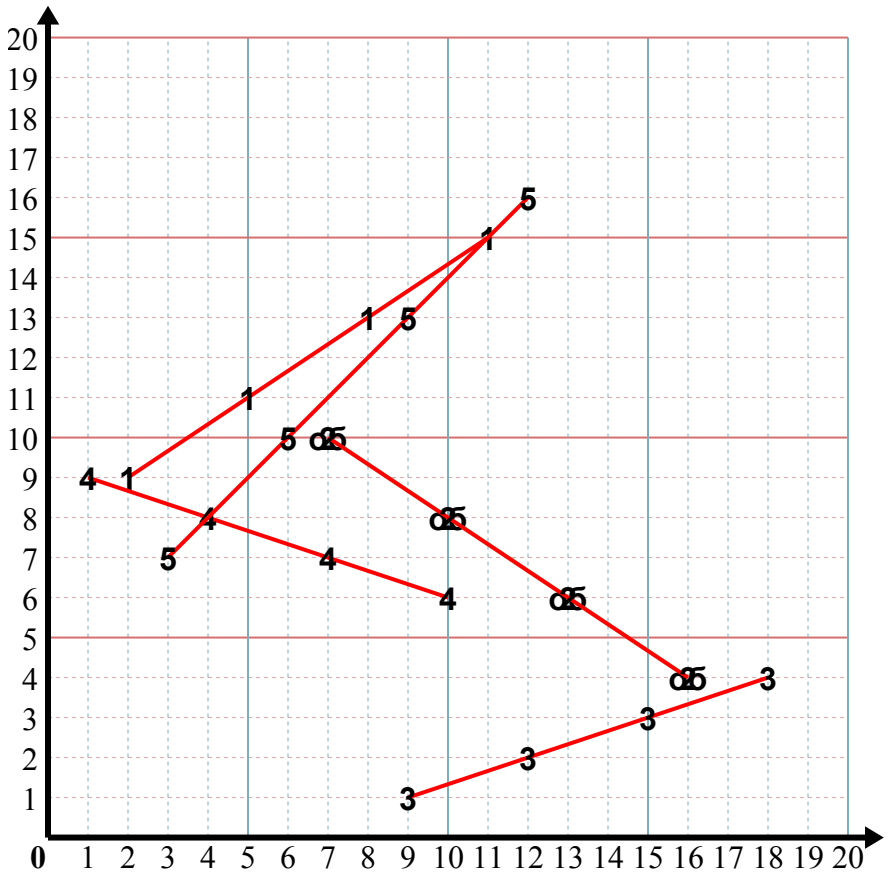

об) X: Начните с 16 и отнемите 3.
Y: Начните с 4 и прибавьте 2.

x:	16	13	10	7
y:	4	6	8	10

1) X: Начните с 11 и отнемите 3.
Y: Начните с 15 и отнемите 2.

x:	11	8	5	2
y:	15	13	11	9

2) X: Начните с 16 и отнемите 3.
Y: Начните с 4 и прибавьте 2.

x:	16	13	10	7
y:	4	6	8	10

3) X: Начните с 9 и прибавьте 3.
Y: Начните с 1 и прибавьте 1.

x:	9	12	15	18
y:	1	2	3	4

4) X: Начните с 10 и отнемите 3.
Y: Начните с 6 и прибавьте 1.

x:	10	7	4	1
y:	6	7	8	9

5) X: Начните с 12 и отнемите 3.
Y: Начните с 16 и отнемите 3.

x:	12	9	6	3
y:	16	13	10	7

Ответы

об. (7 10)
1. (2 9)
2. (7 10)
3. (18 4)
4. (1 9)
5. (3 7)

1-5	80	60	40	20	0

Вычерчивание графика Имя:

Определите части и обозначте их на графике.

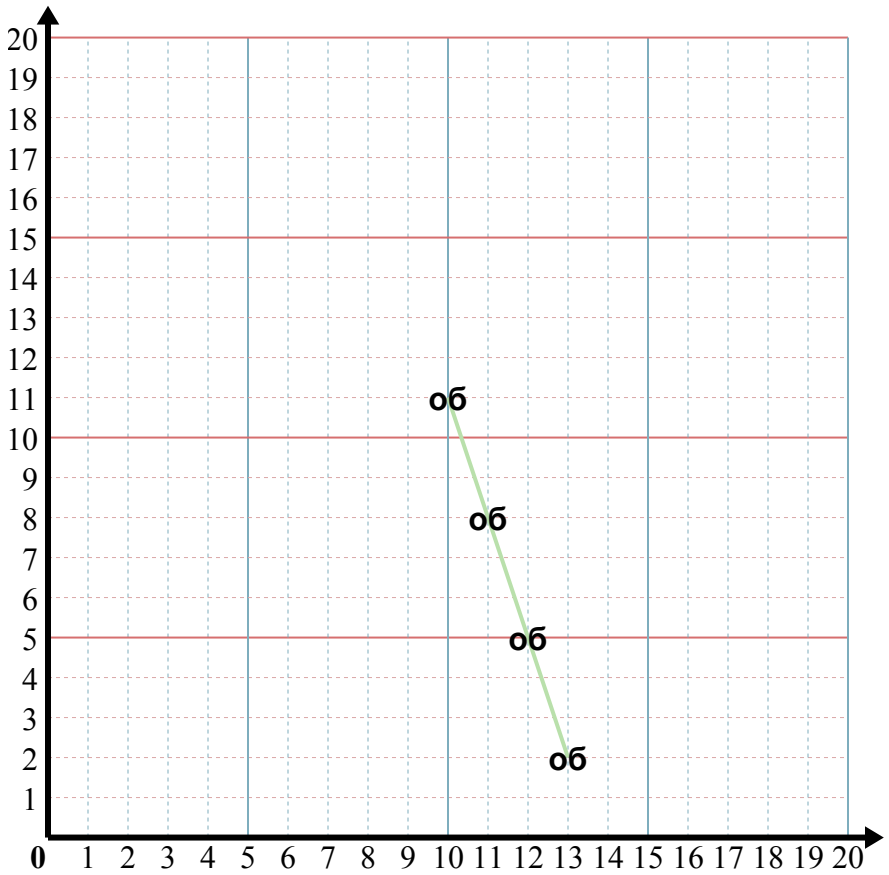

об) X: Начните с 13 и отнемите 1.
Y: Начните с 2 и прибавьте 3.
x: 13 12 11 10
y: 2 5 8 11

1) X: Начните с 3 и прибавьте 1.
Y: Начните с 15 и отнемите 3.
x: ____ ____ ____ ____
y: ____ ____ ____ ____

2) X: Начните с 4 и прибавьте 2.
Y: Начните с 9 и прибавьте 3.
x: ____ ____ ____ ____
y: ____ ____ ____ ____

3) X: Начните с 10 и отнемите 3.
Y: Начните с 4 и прибавьте 1.
x: ____ ____ ____ ____
y: ____ ____ ____ ____

4) X: Начните с 12 и отнемите 2.
Y: Начните с 13 и отнемите 3.
x: ____ ____ ____ ____
y: ____ ____ ____ ____

5) X: Начните с 7 и прибавьте 3.
Y: Начните с 4 и прибавьте 1.
x: ____ ____ ____ ____
y: ____ ____ ____ ____

Ответы

об. (10 11)
1. ____
2. ____
3. ____
4. ____
5. ____

1-5	80	60	40	20	0

Вычерчивание графика

Имя: Ключ к правильным ответам

Определите части и обозначте их на графике.

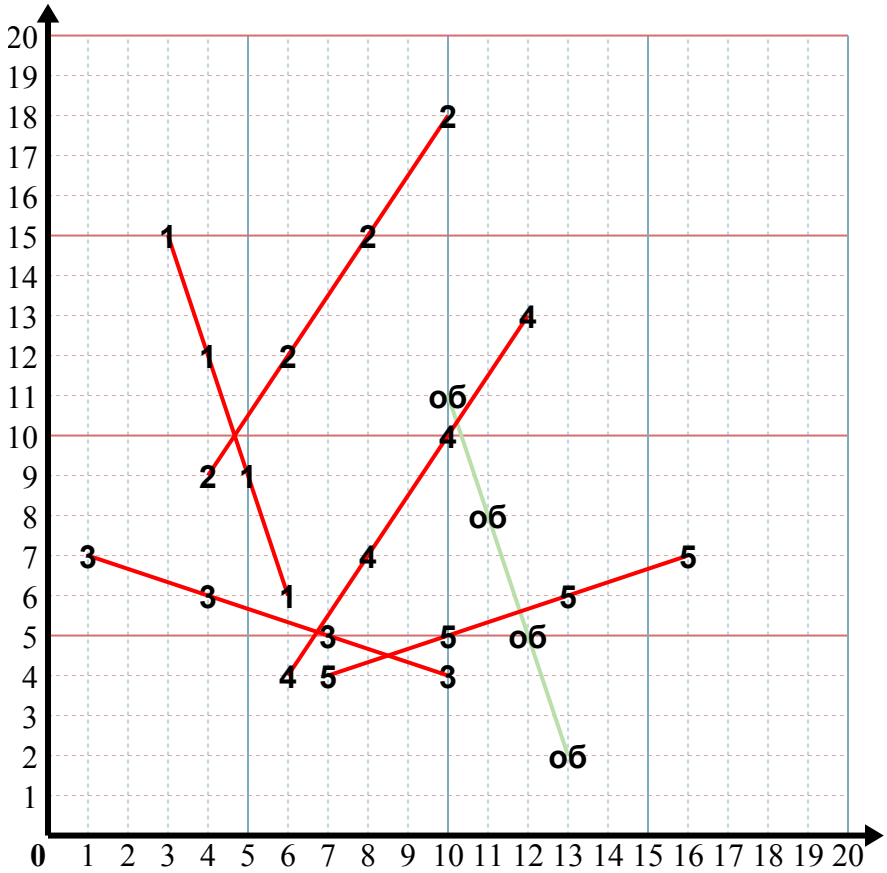

об) X: Начните с 13 и отнемите 1.
Y: Начните с 2 и прибавьте 3.

x:	13	12	11	10
y:	2	5	8	11

1) X: Начните с 3 и прибавьте 1.
Y: Начните с 15 и отнемите 3.

x:	3	4	5	6
y:	15	12	9	6

2) X: Начните с 4 и прибавьте 2.
Y: Начните с 9 и прибавьте 3.

x:	4	6	8	10
y:	9	12	15	18

3) X: Начните с 10 и отнемите 3.
Y: Начните с 4 и прибавьте 1.

x:	10	7	4	1
y:	4	5	6	7

4) X: Начните с 12 и отнемите 2.
Y: Начните с 13 и отнемите 3.

x:	12	10	8	6
y:	13	10	7	4

5) X: Начните с 7 и прибавьте 3.
Y: Начните с 4 и прибавьте 1.

x:	7	10	13	16
y:	4	5	6	7

Ответы

об. (10 11)

1. (6 6)

2. (10 18)

3. (1 7)

4. (6 4)

5. (16 7)

1-5	80	60	40	20	0

Вычерчивание графика Имя:

Определите части и обозначте их на графике.

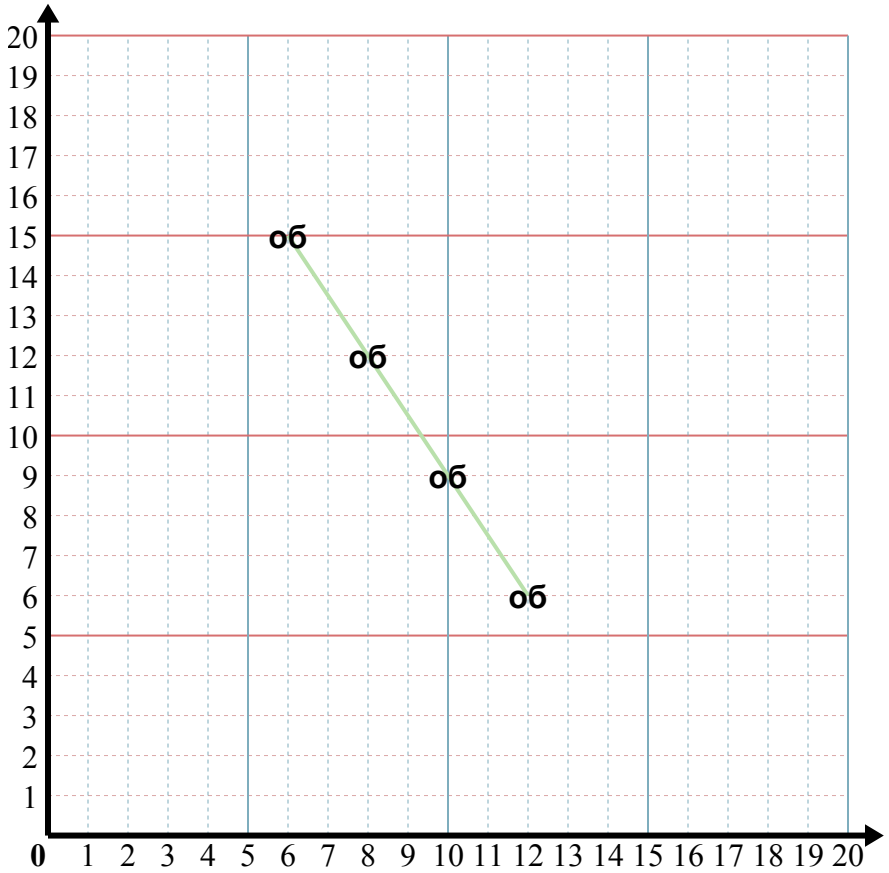

об) X: Начните с 6 и прибавьте 2.
Y: Начните с 15 и отнемите 3.
x: 6 8 10 12
y: 15 12 9 6

1) X: Начните с 8 и прибавьте 2.
Y: Начните с 10 и прибавьте 3.
x: ____ ____ ____ ____
y: ____ ____ ____ ____

2) X: Начните с 2 и прибавьте 1.
Y: Начните с 5 и отнемите 1.
x: ____ ____ ____ ____
y: ____ ____ ____ ____

3) X: Начните с 8 и отнемите 1.
Y: Начните с 5 и прибавьте 3.
x: ____ ____ ____ ____
y: ____ ____ ____ ____

4) X: Начните с 17 и отнемите 3.
Y: Начните с 1 и прибавьте 2.
x: ____ ____ ____ ____
y: ____ ____ ____ ____

5) X: Начните с 18 и отнемите 3.
Y: Начните с 6 и прибавьте 1.
x: ____ ____ ____ ____
y: ____ ____ ____ ____

Ответы

об. (12 6)
1. ____
2. ____
3. ____
4. ____
5. ____

1-5	80	60	40	20	0

Определите части и обозначте их на графике.

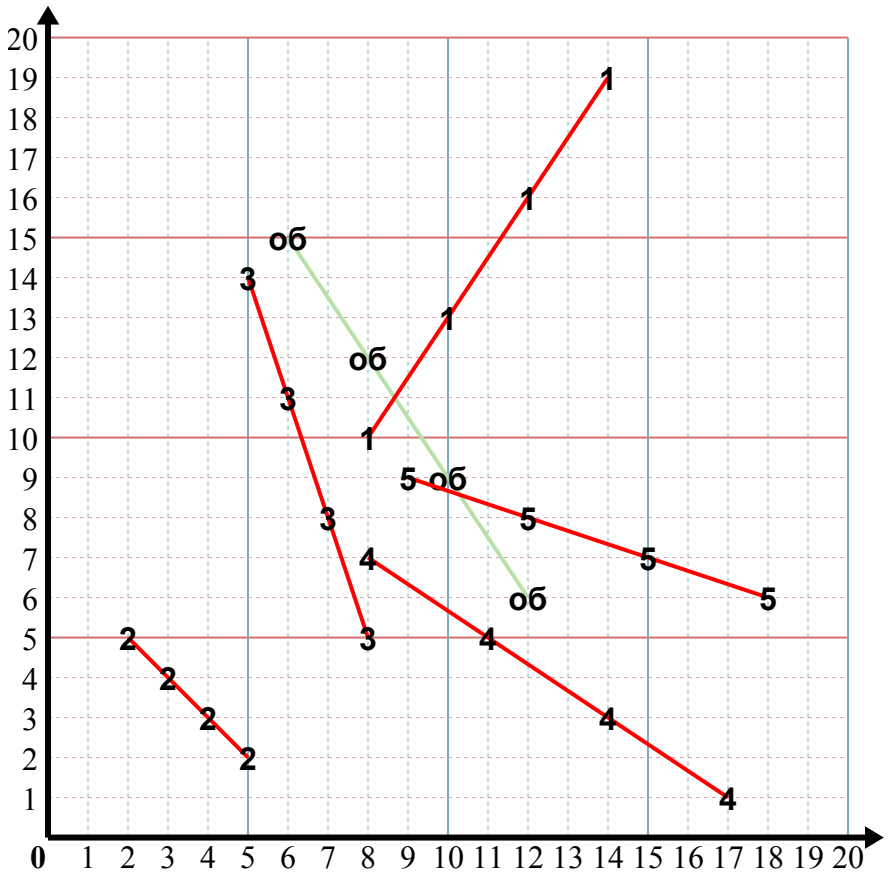

об) X: Начните с 6 и прибавьте 2.
Y: Начните с 15 и отнемите 3.

x:	6	8	10	12
y:	15	12	9	6

1) X: Начните с 8 и прибавьте 2.
Y: Начните с 10 и прибавьте 3.

x:	8	10	12	14
y:	10	13	16	19

2) X: Начните с 2 и прибавьте 1.
Y: Начните с 5 и отнемите 1.

x:	2	3	4	5
y:	5	4	3	2

3) X: Начните с 8 и отнемите 1.
Y: Начните с 5 и прибавьте 3.

x:	8	7	6	5
y:	5	8	11	14

4) X: Начните с 17 и отнемите 3.
Y: Начните с 1 и прибавьте 2.

x:	17	14	11	8
y:	1	3	5	7

5) X: Начните с 18 и отнемите 3.
Y: Начните с 6 и прибавьте 1.

x:	18	15	12	9
y:	6	7	8	9

Ответы

об. (12 6)
1. (14 19)
2. (5 2)
3. (5 14)
4. (8 7)
5. (9 9)

1-5	80	60	40	20	0