Положение дроби на числовой прямой Имя:

Определите под какой буквой находится правильный ответ по положению дроби на цифровой прямой.

1)

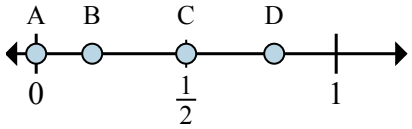

a. Какая буква наиболее точно показывает $^{0}/_{2}$

b. Какая буква наиболее точно показывает $^{1}/_{2}$

2)

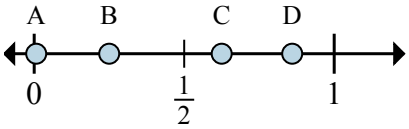

a. Какая буква наиболее точно показывает $^{2}/_{8}$

b. Какая буква наиболее точно показывает $^{5}/_{8}$

3)

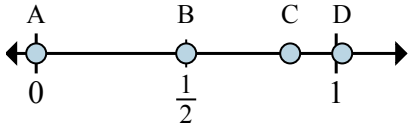

a. Какая буква наиболее точно показывает $^{0}/_{6}$

b. Какая буква наиболее точно показывает $^{3}/_{6}$

4)

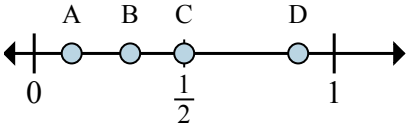

a. Какая буква наиболее точно показывает $^{1}/_{8}$

b. Какая буква наиболее точно показывает $^{4}/_{8}$

5)

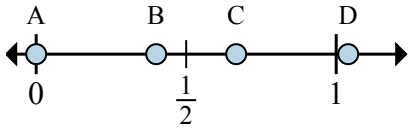

a. Какая буква наиболее точно показывает $^{0}/_{3}$

b. Какая буква наиболее точно показывает $^{2}/_{3}$

6)

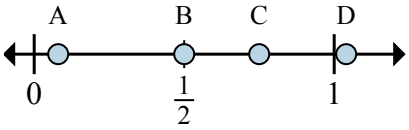

a. Какая буква наиболее точно показывает $^{2}/_{4}$

b. Какая буква наиболее точно показывает $^{3}/_{4}$

7)

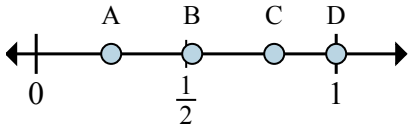

a. Какая буква наиболее точно показывает $^{1}/_{4}$

b. Какая буква наиболее точно показывает $^{4}/_{4}$

8)

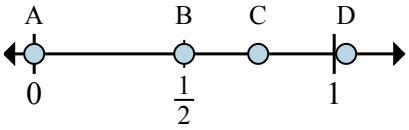

a. Какая буква наиболее точно показывает $^{0}/_{2}$

b. Какая буква наиболее точно показывает $^{1}/_{2}$

Ответы

1. ____ ____
2. ____ ____
3. ____ ____
4. ____ ____
5. ____ ____
6. ____ ____
7. ____ ____
8. ____ ____

1-8	88	75	63	50	38	25	13	0

Определите под какой буквой находится правильный ответ по положению дроби на цифровой прямой.

1)

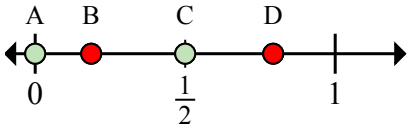

a. Какая буква наиболее точно показывает $^{0}/_{2}$

b. Какая буква наиболее точно показывает $^{1}/_{2}$

2)

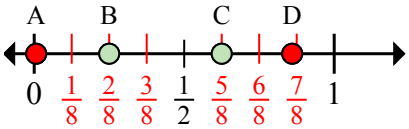

a. Какая буква наиболее точно показывает $^{2}/_{8}$

b. Какая буква наиболее точно показывает $^{5}/_{8}$

3)

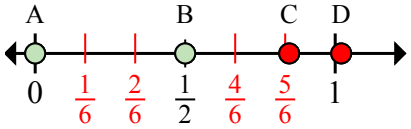

a. Какая буква наиболее точно показывает $^{0}/_{6}$

b. Какая буква наиболее точно показывает $^{3}/_{6}$

4)

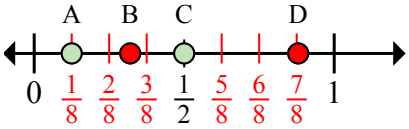

a. Какая буква наиболее точно показывает $^{1}/_{8}$

b. Какая буква наиболее точно показывает $^{4}/_{8}$

5)

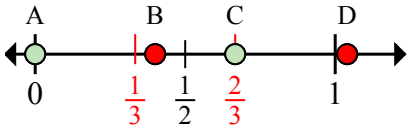

a. Какая буква наиболее точно показывает $^{0}/_{3}$

b. Какая буква наиболее точно показывает $^{2}/_{3}$

6)

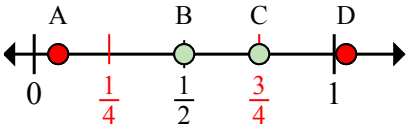

a. Какая буква наиболее точно показывает $^{2}/_{4}$

b. Какая буква наиболее точно показывает $^{3}/_{4}$

7)

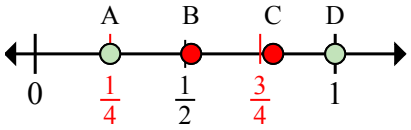

a. Какая буква наиболее точно показывает $^{1}/_{4}$

b. Какая буква наиболее точно показывает $^{4}/_{4}$

8)

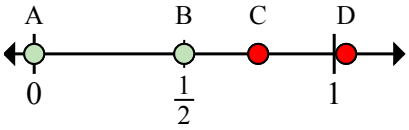

a. Какая буква наиболее точно показывает $^{0}/_{2}$

b. Какая буква наиболее точно показывает $^{1}/_{2}$

Ответы

1. A C
2. B C
3. A B
4. A C
5. A C
6. B C
7. A D
8. A B

1-8	88	75	63	50	38	25	13	0