Определите под какой буквой находится правильный ответ по положению дроби на цифровой прямой.

1)

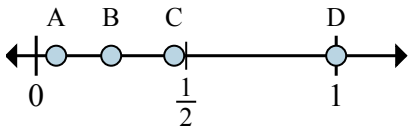

a. Какая буква наиболее точно показывает $^{4}/_{4}$

b. Какая буква наиболее точно показывает $^{1}/_{4}$

2)

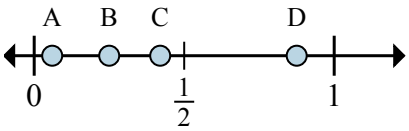

a. Какая буква наиболее точно показывает $^{7}/_{8}$

b. Какая буква наиболее точно показывает $^{2}/_{8}$

3)

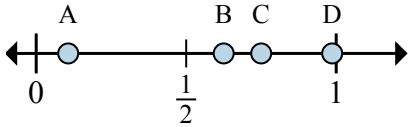

a. Какая буква наиболее точно показывает $^{5}/_{8}$

b. Какая буква наиболее точно показывает $^{6}/_{8}$

4)

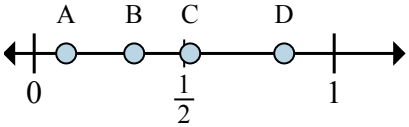

a. Какая буква наиболее точно показывает $^{5}/_{6}$

b. Какая буква наиболее точно показывает $^{2}/_{6}$

5)

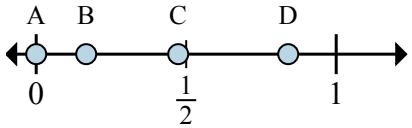

a. Какая буква наиболее точно показывает $^{0}/_{6}$

b. Какая буква наиболее точно показывает $^{1}/_{6}$

6)

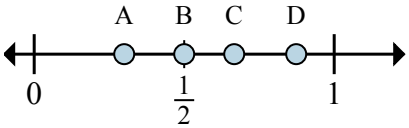

a. Какая буква наиболее точно показывает $^{3}/_{6}$

b. Какая буква наиболее точно показывает $^{4}/_{6}$

7)

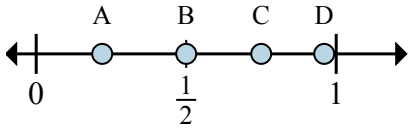

a. Какая буква наиболее точно показывает $^{3}/_{4}$

b. Какая буква наиболее точно показывает $^{2}/_{4}$

8)

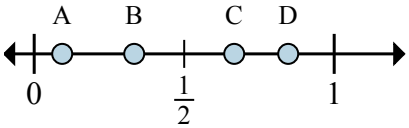

a. Какая буква наиболее точно показывает $^{2}/_{3}$

b. Какая буква наиболее точно показывает $^{1}/_{3}$

Ответы

1. ____ ____
2. ____ ____
3. ____ ____
4. ____ ____
5. ____ ____
6. ____ ____
7. ____ ____
8. ____ ____

1-8	88	75	63	50	38	25	13	0

Определите под какой буквой находится правильный ответ по положению дроби на цифровой прямой.

1)

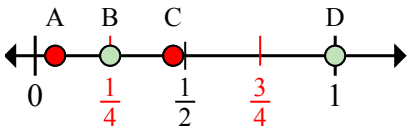

a. Какая буква наиболее точно показывает $^{4}/_{4}$

b. Какая буква наиболее точно показывает $^{1}/_{4}$

2)

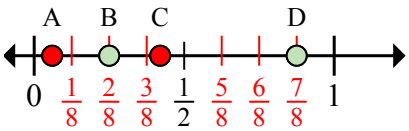

a. Какая буква наиболее точно показывает $^{7}/_{8}$

b. Какая буква наиболее точно показывает $^{2}/_{8}$

3)

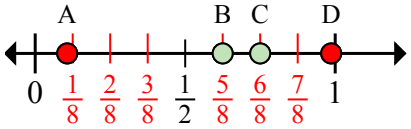

a. Какая буква наиболее точно показывает $^{5}/_{8}$

b. Какая буква наиболее точно показывает $^{6}/_{8}$

4)

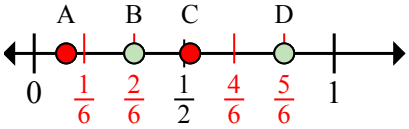

a. Какая буква наиболее точно показывает $^{5}/_{6}$

b. Какая буква наиболее точно показывает $^{2}/_{6}$

5)

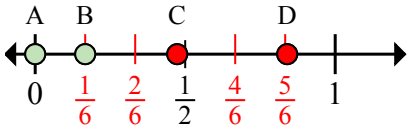

a. Какая буква наиболее точно показывает $^{0}/_{6}$

b. Какая буква наиболее точно показывает $^{1}/_{6}$

6)

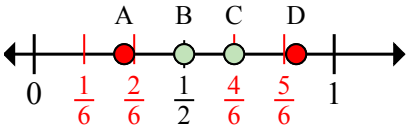

a. Какая буква наиболее точно показывает $^{3}/_{6}$

b. Какая буква наиболее точно показывает $^{4}/_{6}$

7)

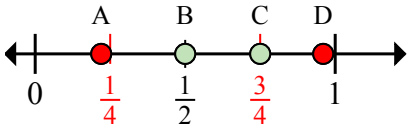

a. Какая буква наиболее точно показывает $^{3}/_{4}$

b. Какая буква наиболее точно показывает $^{2}/_{4}$

8)

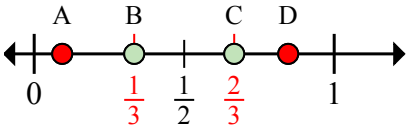

a. Какая буква наиболее точно показывает $^{2}/_{3}$

b. Какая буква наиболее точно показывает $^{1}/_{3}$

Ответы

1.	D	B
2.	D	B
3.	B	C
4.	D	B
5.	A	B
6.	B	C
7.	C	B
8.	C	B

1-8	88	75	63	50	38	25	13	0