Расположение дроби на числовой прямой Имя:

Решите каждую задачу.

об)

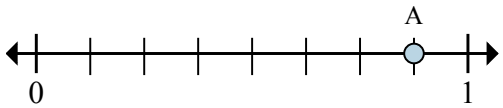

a. На сколько частей разделена данная числовая прямая?

b. Каково местоположение A (написанного как дробь)?

1)

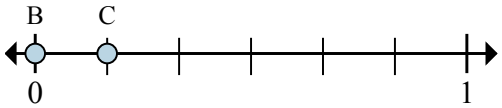

a. Каково значение 1 на числовой прямой, написанного как дробь?

b. Каково расстояние на числовой прямой между B и C is (написанного как дробь)?

2)

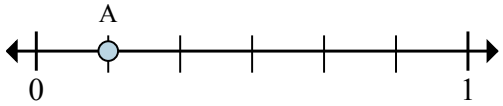

a. На сколько частей разделена данная числовая прямая?

b. Каково местоположение A (написанного как дробь)?

3)

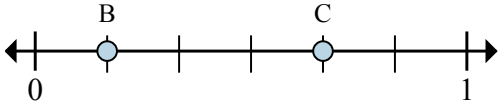

a. Каково значение 0 на числовой прямой, написанного как дробь?

b. Каково расстояние на числовой прямой между B и C is (написанного как дробь)?

4)

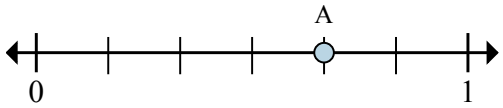

a. На сколько частей разделена данная числовая прямая?

b. Каково местоположение A (написанного как дробь)?

5)

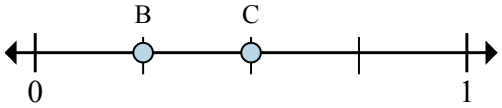

a. Каково значение 0 на числовой прямой, написанного как дробь?

b. Каково расстояние на числовой прямой между B и C is (написанного как дробь)?

6)

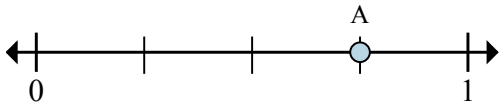

a. На сколько частей разделена данная числовая прямая?

b. Каково местоположение A (написанного как дробь)?

7)

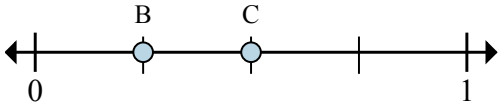

a. Каково значение 0 на числовой прямой, написанного как дробь?

b. Каково расстояние на числовой прямой между B и C is (написанного как дробь)?

Ответы

об.	8	$\frac{7}{8}$
1.		
2.		
3.		
4.		
5.		
6.		
7.		

1-7	86	71	57	43	29	14	0

Расположение дроби на числовой прямой Имя: **Ключ к правильным ответам**

Решите каждую задачу.

об)

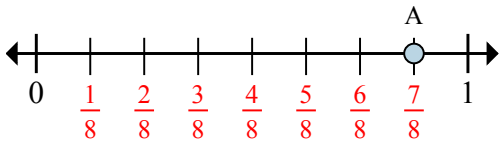

a. На сколько частей разделена данная числовая прямая?

b. Каково местоположение A (написанного как дробь)?

1)

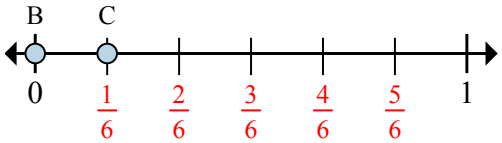

a. Каково значение 1 на числовой прямой, написанного как дробь?

b. Каково расстояние на числовой прямой между B и C is (написанного как дробь)?

2)

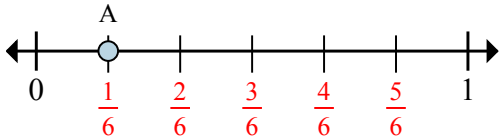

a. На сколько частей разделена данная числовая прямая?

b. Каково местоположение A (написанного как дробь)?

3)

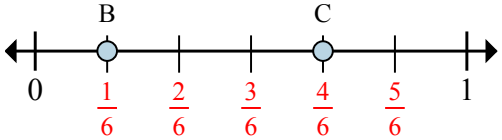

a. Каково значение 0 на числовой прямой, написанного как дробь?

b. Каково расстояние на числовой прямой между B и C is (написанного как дробь)?

4)

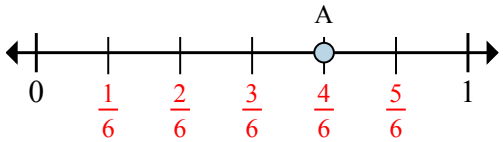

a. На сколько частей разделена данная числовая прямая?

b. Каково местоположение A (написанного как дробь)?

5)

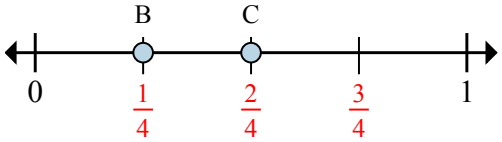

a. Каково значение 0 на числовой прямой, написанного как дробь?

b. Каково расстояние на числовой прямой между B и C is (написанного как дробь)?

6)

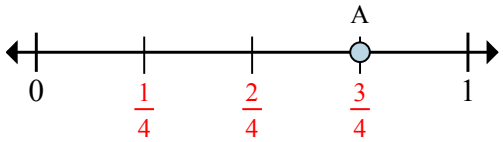

a. На сколько частей разделена данная числовая прямая?

b. Каково местоположение A (написанного как дробь)?

7)

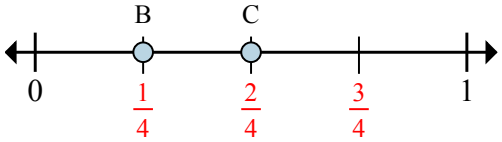

a. Каково значение 0 на числовой прямой, написанного как дробь?

b. Каково расстояние на числовой прямой между B и C is (написанного как дробь)?

Ответы

об.	8	7/8
1.	6/6	1/6
2.	6	1/6
3.	0/6	3/6
4.	6	4/6
5.	0/4	1/4
6.	4	3/4
7.	0/4	1/4

1-7	86	71	57	43	29	14	0

Расположение дроби на числовой прямой Имя:

Решите каждую задачу.

об)

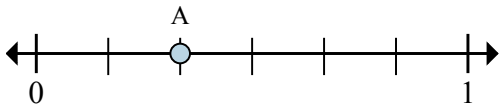

a. На сколько частей разделена данная числовая прямая?

b. Каково местоположение A (написанного как дробь)?

1)

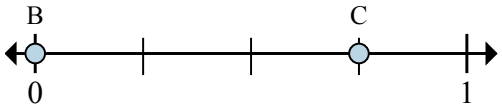

a. Каково значение 1 на числовой прямой, написанного как дробь?

b. Каково расстояние на числовой прямой между B и C is (написанного как дробь)?

2)

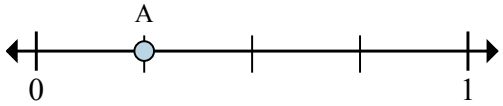

a. На сколько частей разделена данная числовая прямая?

b. Каково местоположение A (написанного как дробь)?

3)

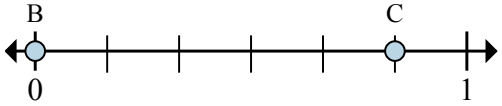

a. Каково значение 1 на числовой прямой, написанного как дробь?

b. Каково расстояние на числовой прямой между B и C is (написанного как дробь)?

4)

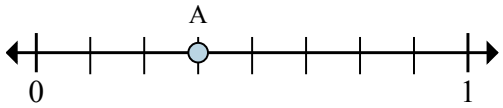

a. На сколько частей разделена данная числовая прямая?

b. Каково местоположение A (написанного как дробь)?

5)

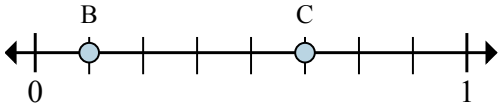

a. Каково значение 0 на числовой прямой, написанного как дробь?

b. Каково расстояние на числовой прямой между B и C is (написанного как дробь)?

6)

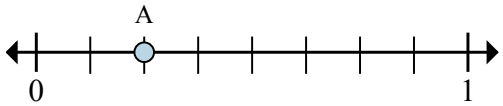

a. На сколько частей разделена данная числовая прямая?

b. Каково местоположение A (написанного как дробь)?

7)

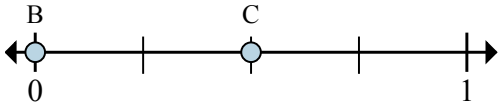

a. Каково значение 1 на числовой прямой, написанного как дробь?

b. Каково расстояние на числовой прямой между B и C is (написанного как дробь)?

Ответы

об.	6	$^2/_6$
1.		
2.		
3.		
4.		
5.		
6.		
7.		

1-7	86	71	57	43	29	14	0

Решите каждую задачу.

об)

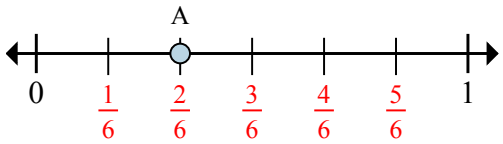

a. На сколько частей разделена данная числовая прямая?

b. Каково местоположение A (написанного как дробь)?

1)

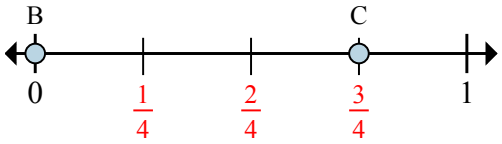

a. Каково значение 1 на числовой прямой, написанного как дробь?

b. Каково расстояние на числовой прямой между B и C is (написанного как дробь)?

2)

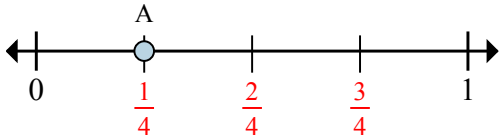

a. На сколько частей разделена данная числовая прямая?

b. Каково местоположение A (написанного как дробь)?

3)

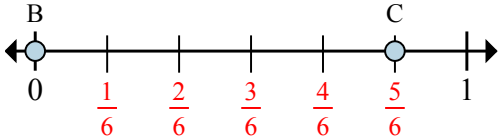

a. Каково значение 1 на числовой прямой, написанного как дробь?

b. Каково расстояние на числовой прямой между B и C is (написанного как дробь)?

4)

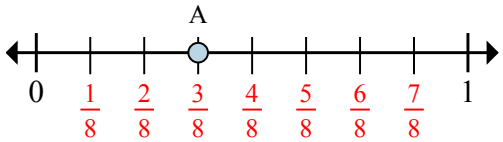

a. На сколько частей разделена данная числовая прямая?

b. Каково местоположение A (написанного как дробь)?

5)

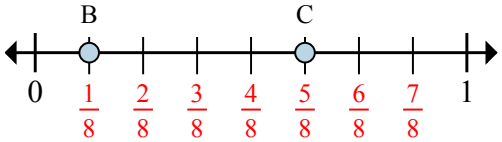

a. Каково значение 0 на числовой прямой, написанного как дробь?

b. Каково расстояние на числовой прямой между B и C is (написанного как дробь)?

6)

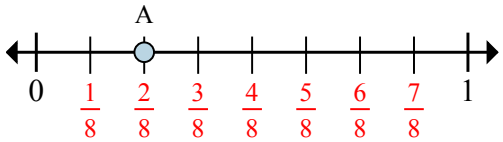

a. На сколько частей разделена данная числовая прямая?

b. Каково местоположение A (написанного как дробь)?

7)

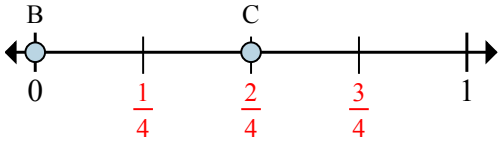

a. Каково значение 1 на числовой прямой, написанного как дробь?

b. Каково расстояние на числовой прямой между B и C is (написанного как дробь)?

Ответы

об.	6	2/6
1.	4/4	3/4
2.	4	1/4
3.	6/6	5/6
4.	8	3/8
5.	0/8	4/8
6.	8	2/8
7.	4/4	2/4

1-7	86	71	57	43	29	14	0

Расположение дроби на числовой прямой Имя:

Решите каждую задачу.

об)

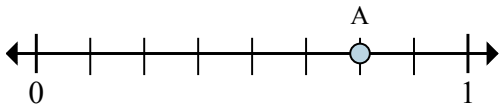

a. На сколько частей разделена данная числовая прямая?

b. Каково местоположение A (написанного как дробь)?

1)

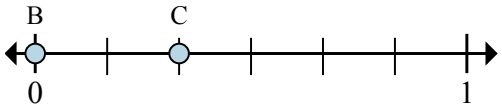

a. Каково значение 0 на числовой прямой, написанного как дробь?

b. Каково расстояние на числовой прямой между B и C is (написанного как дробь)?

2)

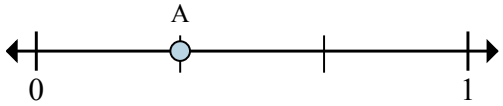

a. На сколько частей разделена данная числовая прямая?

b. Каково местоположение A (написанного как дробь)?

3)

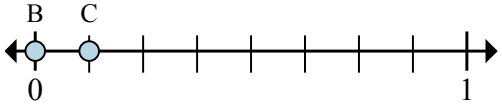

a. Каково значение 1 на числовой прямой, написанного как дробь?

b. Каково расстояние на числовой прямой между B и C is (написанного как дробь)?

4)



a. На сколько частей разделена данная числовая прямая?

b. Каково местоположение A (написанного как дробь)?

5)

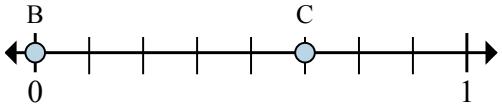

a. Каково значение 0 на числовой прямой, написанного как дробь?

b. Каково расстояние на числовой прямой между B и C is (написанного как дробь)?

6)

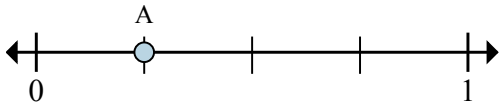

a. На сколько частей разделена данная числовая прямая?

b. Каково местоположение A (написанного как дробь)?

7)

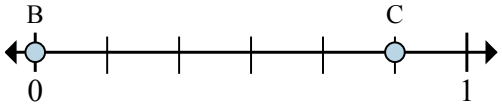

a. Каково значение 0 на числовой прямой, написанного как дробь?

b. Каково расстояние на числовой прямой между B и C is (написанного как дробь)?

Ответы

об.	8	$\frac{6}{8}$
1.		
2.		
3.		
4.		
5.		
6.		
7.		

1-7	86	71	57	43	29	14	0

Решите каждую задачу.

об)

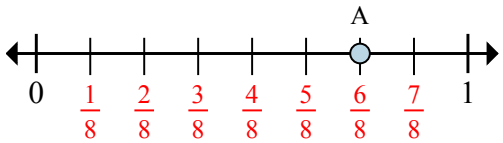

a. На сколько частей разделена данная числовая прямая?

b. Каково местоположение A (написанного как дробь)?

1)

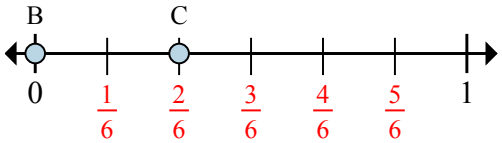

a. Каково значение 0 на числовой прямой, написанного как дробь?

b. Каково расстояние на числовой прямой между B и C is (написанного как дробь)?

2)

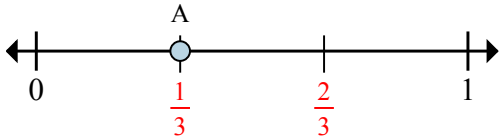

a. На сколько частей разделена данная числовая прямая?

b. Каково местоположение A (написанного как дробь)?

3)

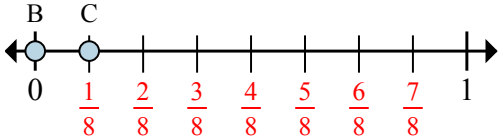

a. Каково значение 1 на числовой прямой, написанного как дробь?

b. Каково расстояние на числовой прямой между B и C is (написанного как дробь)?

4)

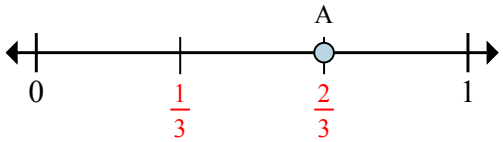

a. На сколько частей разделена данная числовая прямая?

b. Каково местоположение A (написанного как дробь)?

5)

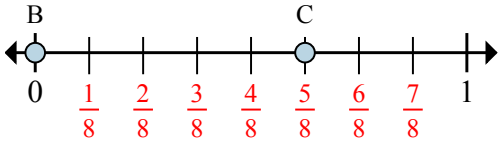

a. Каково значение 0 на числовой прямой, написанного как дробь?

b. Каково расстояние на числовой прямой между B и C is (написанного как дробь)?

6)

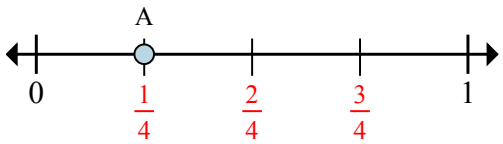

a. На сколько частей разделена данная числовая прямая?

b. Каково местоположение A (написанного как дробь)?

7)

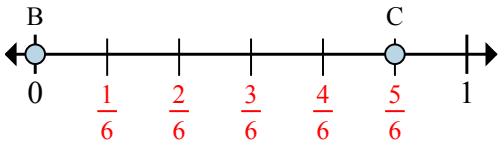

a. Каково значение 0 на числовой прямой, написанного как дробь?

b. Каково расстояние на числовой прямой между B и C is (написанного как дробь)?

Ответы

об.	8	6/8
1.	0/6	2/6
2.	3	1/3
3.	8/8	1/8
4.	3	2/3
5.	0/8	5/8
6.	4	1/4
7.	0/6	5/6

1-7	86	71	57	43	29	14	0

Расположение дроби на числовой прямой Имя:

Решите каждую задачу.

об)

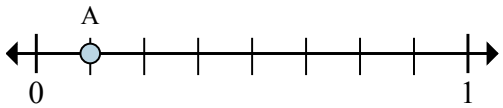

a. На сколько частей разделена данная числовая прямая?

b. Каково местоположение A (написанного как дробь)?

1)

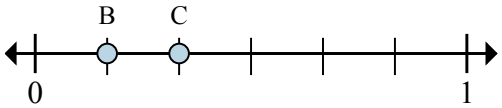

a. Каково значение 1 на числовой прямой, написанного как дробь?

b. Каково расстояние на числовой прямой между B и C is (написанного как дробь)?

2)

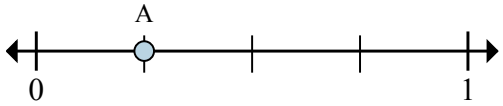

a. На сколько частей разделена данная числовая прямая?

b. Каково местоположение A (написанного как дробь)?

3)

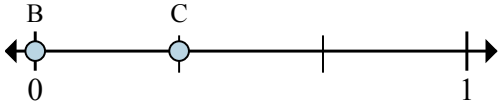

a. Каково значение 0 на числовой прямой, написанного как дробь?

b. Каково расстояние на числовой прямой между B и C is (написанного как дробь)?

4)

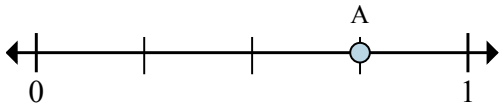

a. На сколько частей разделена данная числовая прямая?

b. Каково местоположение A (написанного как дробь)?

5)



a. Каково значение 1 на числовой прямой, написанного как дробь?

b. Каково расстояние на числовой прямой между B и C is (написанного как дробь)?

6)

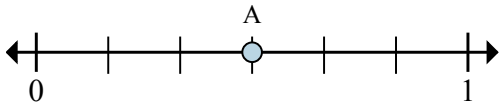

a. На сколько частей разделена данная числовая прямая?

b. Каково местоположение A (написанного как дробь)?

7)

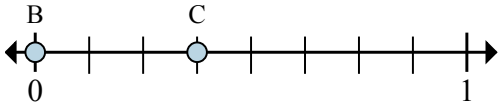

a. Каково значение 1 на числовой прямой, написанного как дробь?

b. Каково расстояние на числовой прямой между B и C is (написанного как дробь)?

Ответы

об.	8	$\frac{1}{8}$
1.		
2.		
3.		
4.		
5.		
6.		
7.		

1-7	86	71	57	43	29	14	0

Решите каждую задачу.

об)

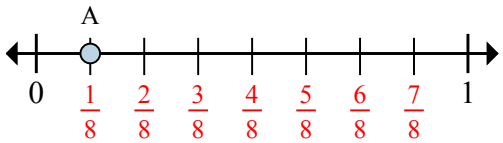

a. На сколько частей разделена данная числовая прямая?

b. Каково местоположение A (написанного как дробь)?

1)

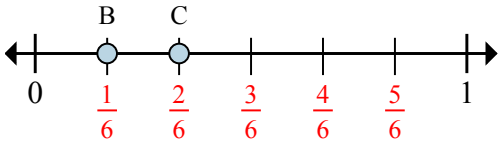

a. Каково значение 1 на числовой прямой, написанного как дробь?

b. Каково расстояние на числовой прямой между B и C is (написанного как дробь)?

2)

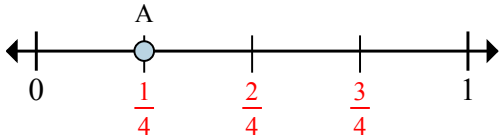

a. На сколько частей разделена данная числовая прямая?

b. Каково местоположение A (написанного как дробь)?

3)

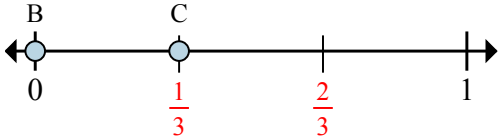

a. Каково значение 0 на числовой прямой, написанного как дробь?

b. Каково расстояние на числовой прямой между B и C is (написанного как дробь)?

4)

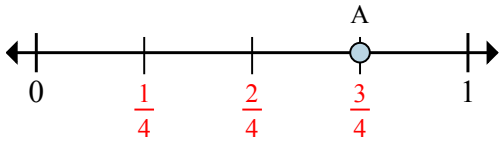

a. На сколько частей разделена данная числовая прямая?

b. Каково местоположение A (написанного как дробь)?

5)

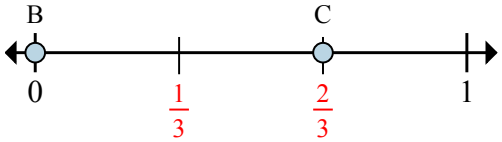

a. Каково значение 1 на числовой прямой, написанного как дробь?

b. Каково расстояние на числовой прямой между B и C is (написанного как дробь)?

6)

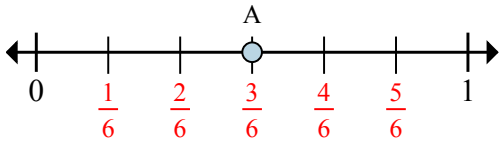

a. На сколько частей разделена данная числовая прямая?

b. Каково местоположение A (написанного как дробь)?

7)

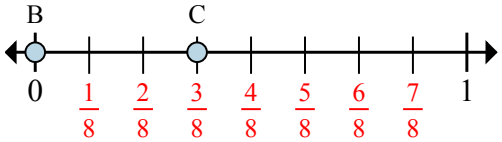

a. Каково значение 1 на числовой прямой, написанного как дробь?

b. Каково расстояние на числовой прямой между B и C is (написанного как дробь)?

Ответы

об.	8	1/8
1.	6/6	1/6
2.	4	1/4
3.	0/3	1/3
4.	4	3/4
5.	3/3	2/3
6.	6	3/6
7.	8/8	3/8

1-7	86	71	57	43	29	14	0

Расположение дроби на числовой прямой Имя:

Решите каждую задачу.

об)

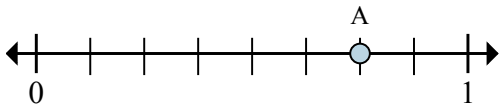

a. На сколько частей разделена данная числовая прямая?

b. Каково местоположение A (написанного как дробь)?

1)

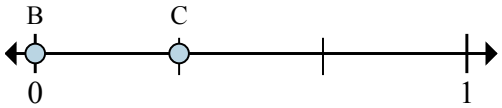

a. Каково значение 0 на числовой прямой, написанного как дробь?

b. Каково расстояние на числовой прямой между B и C is (написанного как дробь)?

2)

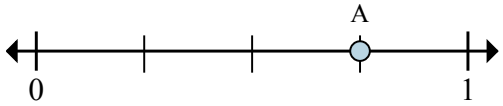

a. На сколько частей разделена данная числовая прямая?

b. Каково местоположение A (написанного как дробь)?

3)

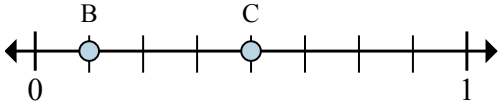

a. Каково значение 1 на числовой прямой, написанного как дробь?

b. Каково расстояние на числовой прямой между B и C is (написанного как дробь)?

4)

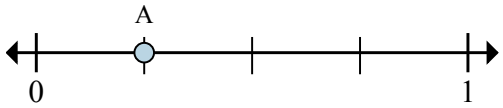

a. На сколько частей разделена данная числовая прямая?

b. Каково местоположение A (написанного как дробь)?

5)

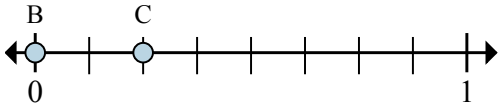

a. Каково значение 0 на числовой прямой, написанного как дробь?

b. Каково расстояние на числовой прямой между B и C is (написанного как дробь)?

6)

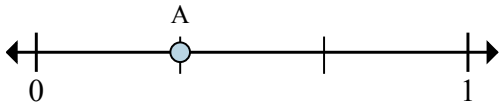

a. На сколько частей разделена данная числовая прямая?

b. Каково местоположение A (написанного как дробь)?

7)

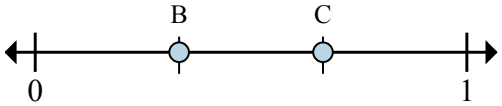

a. Каково значение 0 на числовой прямой, написанного как дробь?

b. Каково расстояние на числовой прямой между B и C is (написанного как дробь)?

Ответы

об.	8	$\frac{6}{8}$
1.		
2.		
3.		
4.		
5.		
6.		
7.		

1-7	86	71	57	43	29	14	0

Решите каждую задачу.

об)

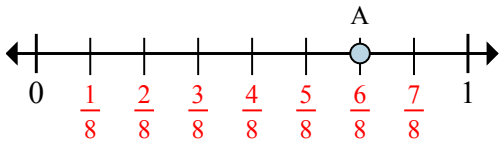

a. На сколько частей разделена данная числовая прямая?

b. Каково местоположение A (написанного как дробь)?

1)

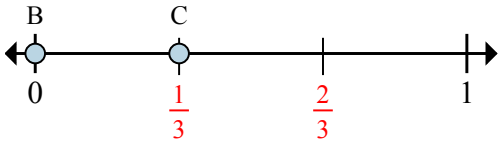

a. Каково значение 0 на числовой прямой, написанного как дробь?

b. Каково расстояние на числовой прямой между B и C is (написанного как дробь)?

2)

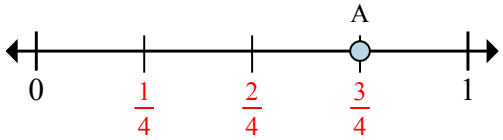

a. На сколько частей разделена данная числовая прямая?

b. Каково местоположение A (написанного как дробь)?

3)

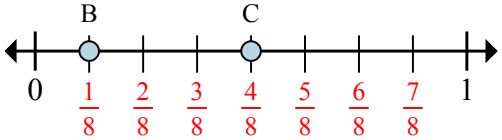

a. Каково значение 1 на числовой прямой, написанного как дробь?

b. Каково расстояние на числовой прямой между B и C is (написанного как дробь)?

4)

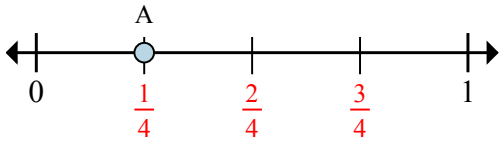

a. На сколько частей разделена данная числовая прямая?

b. Каково местоположение A (написанного как дробь)?

5)

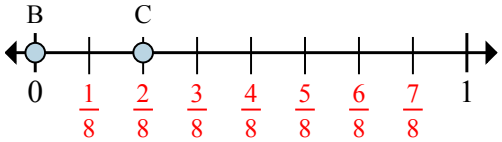

a. Каково значение 0 на числовой прямой, написанного как дробь?

b. Каково расстояние на числовой прямой между B и C is (написанного как дробь)?

6)

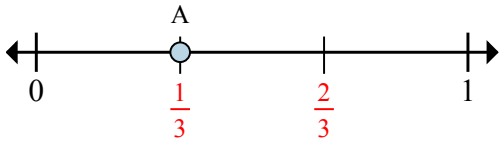

a. На сколько частей разделена данная числовая прямая?

b. Каково местоположение A (написанного как дробь)?

7)

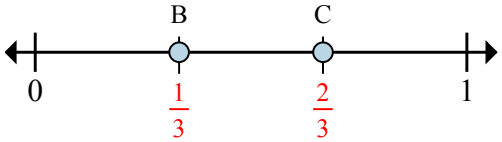

a. Каково значение 0 на числовой прямой, написанного как дробь?

b. Каково расстояние на числовой прямой между B и C is (написанного как дробь)?

Ответы

об.	8	6/8
1.	0/3	1/3
2.	4	3/4
3.	8/8	3/8
4.	4	1/4
5.	0/8	2/8
6.	3	1/3
7.	0/3	1/3

1-7	86	71	57	43	29	14	0

Расположение дроби на числовой прямой Имя:

Решите каждую задачу.

об)

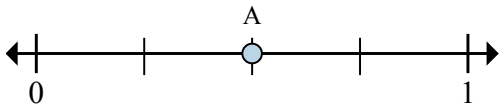

a. На сколько частей разделена данная числовая прямая?

b. Каково местоположение A (написанного как дробь)?

1)

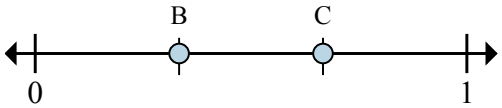

a. Каково значение 1 на числовой прямой, написанного как дробь?

b. Каково расстояние на числовой прямой между B и C is (написанного как дробь)?

2)

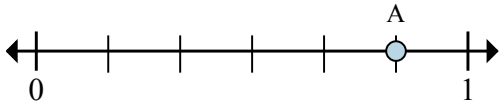

a. На сколько частей разделена данная числовая прямая?

b. Каково местоположение A (написанного как дробь)?

3)

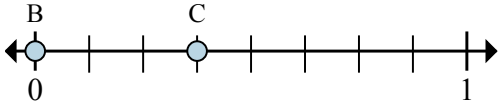

a. Каково значение 0 на числовой прямой, написанного как дробь?

b. Каково расстояние на числовой прямой между B и C is (написанного как дробь)?

4)

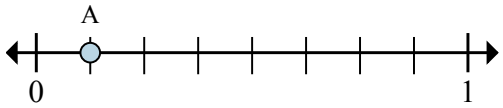

a. На сколько частей разделена данная числовая прямая?

b. Каково местоположение A (написанного как дробь)?

5)



a. Каково значение 1 на числовой прямой, написанного как дробь?

b. Каково расстояние на числовой прямой между B и C is (написанного как дробь)?

6)

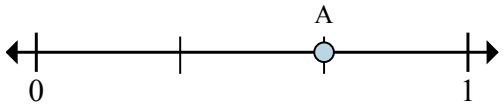

a. На сколько частей разделена данная числовая прямая?

b. Каково местоположение A (написанного как дробь)?

7)

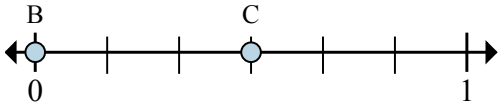

a. Каково значение 0 на числовой прямой, написанного как дробь?

b. Каково расстояние на числовой прямой между B и C is (написанного как дробь)?

Ответы

об.	4	$\frac{2}{4}$
1.		
2.		
3.		
4.		
5.		
6.		
7.		

1-7	86	71	57	43	29	14	0

Решите каждую задачу.

об)

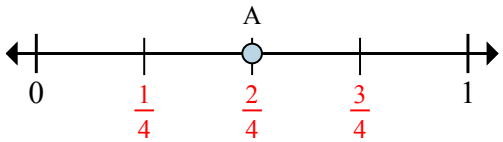

a. На сколько частей разделена данная числовая прямая?

b. Каково местоположение A (написанного как дробь)?

1)

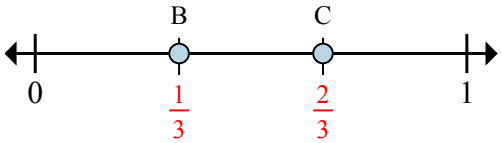

a. Каково значение 1 на числовой прямой, написанного как дробь?

b. Каково расстояние на числовой прямой между B и C is (написанного как дробь)?

2)

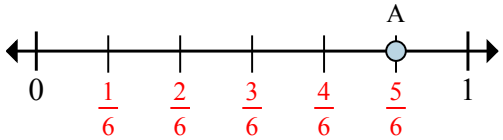

a. На сколько частей разделена данная числовая прямая?

b. Каково местоположение A (написанного как дробь)?

3)

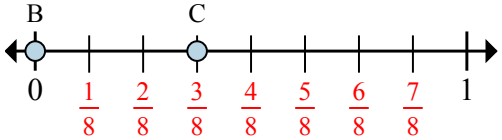

a. Каково значение 0 на числовой прямой, написанного как дробь?

b. Каково расстояние на числовой прямой между B и C is (написанного как дробь)?

4)

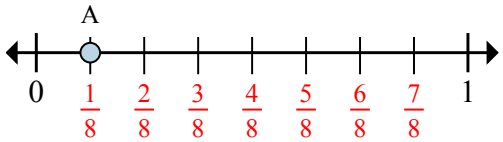

a. На сколько частей разделена данная числовая прямая?

b. Каково местоположение A (написанного как дробь)?

5)

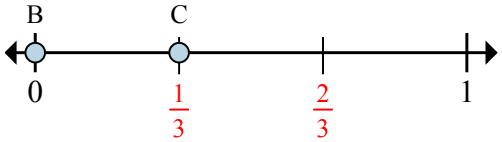

a. Каково значение 1 на числовой прямой, написанного как дробь?

b. Каково расстояние на числовой прямой между B и C is (написанного как дробь)?

6)

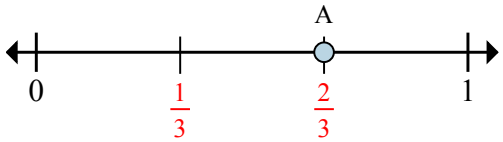

a. На сколько частей разделена данная числовая прямая?

b. Каково местоположение A (написанного как дробь)?

7)

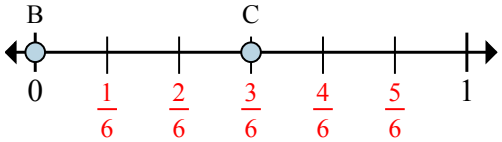

a. Каково значение 0 на числовой прямой, написанного как дробь?

b. Каково расстояние на числовой прямой между B и C is (написанного как дробь)?

Ответы

об.	4	2/4
1.	3/3	1/3
2.	6	5/6
3.	0/8	3/8
4.	8	1/8
5.	3/3	1/3
6.	3	2/3
7.	0/6	3/6

1-7	86	71	57	43	29	14	0

Расположение дроби на числовой прямой Имя:

Решите каждую задачу.

об)

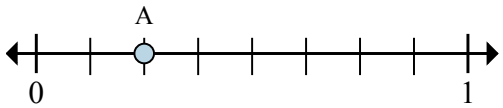

a. На сколько частей разделена данная числовая прямая?

b. Каково местоположение A (написанного как дробь)?

1)

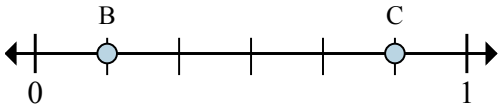

a. Каково значение 0 на числовой прямой, написанного как дробь?

b. Каково расстояние на числовой прямой между B и C is (написанного как дробь)?

2)

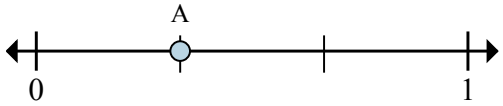

a. На сколько частей разделена данная числовая прямая?

b. Каково местоположение A (написанного как дробь)?

3)

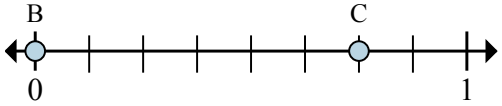

a. Каково значение 1 на числовой прямой, написанного как дробь?

b. Каково расстояние на числовой прямой между B и C is (написанного как дробь)?

4)

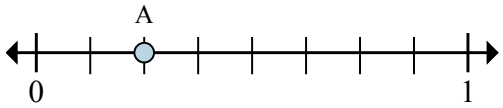

a. На сколько частей разделена данная числовая прямая?

b. Каково местоположение A (написанного как дробь)?

5)

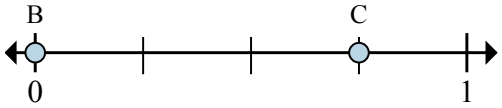

a. Каково значение 0 на числовой прямой, написанного как дробь?

b. Каково расстояние на числовой прямой между B и C is (написанного как дробь)?

6)

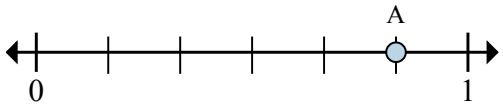

a. На сколько частей разделена данная числовая прямая?

b. Каково местоположение A (написанного как дробь)?

7)

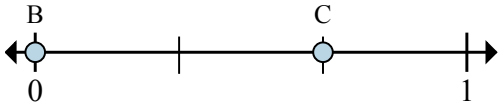

a. Каково значение 1 на числовой прямой, написанного как дробь?

b. Каково расстояние на числовой прямой между B и C is (написанного как дробь)?

Ответы

об.	8	$^{2}/_{8}$
1.		
2.		
3.		
4.		
5.		
6.		
7.		

1-7	86	71	57	43	29	14	0

Расположение дроби на числовой прямой Имя: **Ключ к правильным ответам**

Решите каждую задачу.

об)

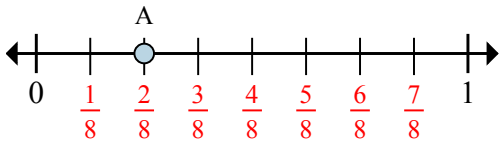

a. На сколько частей разделена данная числовая прямая?

b. Каково местоположение A (написанного как дробь)?

1)

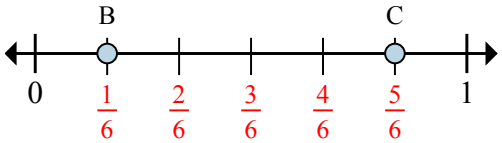

a. Каково значение 0 на числовой прямой, написанного как дробь?

b. Каково расстояние на числовой прямой между B и C is (написанного как дробь)?

2)

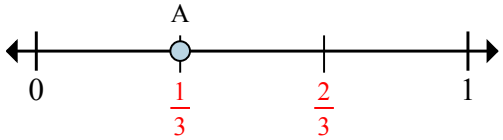

a. На сколько частей разделена данная числовая прямая?

b. Каково местоположение A (написанного как дробь)?

3)

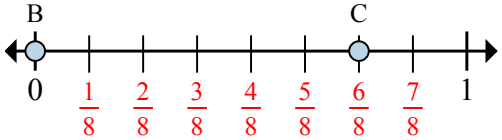

a. Каково значение 1 на числовой прямой, написанного как дробь?

b. Каково расстояние на числовой прямой между B и C is (написанного как дробь)?

4)

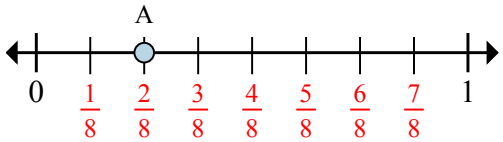

a. На сколько частей разделена данная числовая прямая?

b. Каково местоположение A (написанного как дробь)?

5)

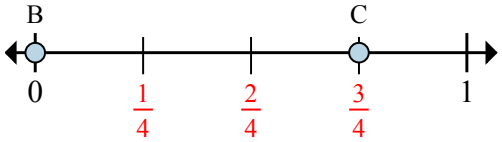

a. Каково значение 0 на числовой прямой, написанного как дробь?

b. Каково расстояние на числовой прямой между B и C is (написанного как дробь)?

6)

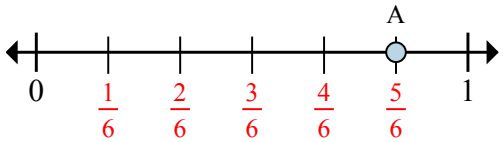

a. На сколько частей разделена данная числовая прямая?

b. Каково местоположение A (написанного как дробь)?

7)

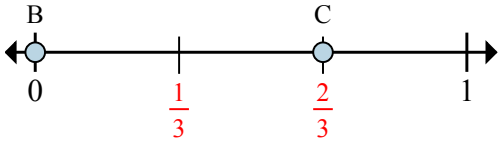

a. Каково значение 1 на числовой прямой, написанного как дробь?

b. Каково расстояние на числовой прямой между B и C is (написанного как дробь)?

Ответы

об.	8	2/8
1.	0/6	4/6
2.	3	1/3
3.	8/8	6/8
4.	8	2/8
5.	0/4	3/4
6.	6	5/6
7.	3/3	2/3

1-7	86	71	57	43	29	14	0

Расположение дроби на числовой прямой Имя:

Решите каждую задачу.

об)

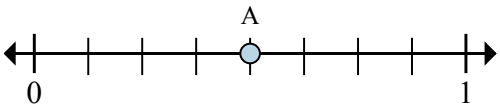

a. На сколько частей разделена данная числовая прямая?

b. Каково местоположение A (написанного как дробь)?

1)

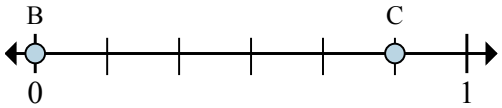

a. Каково значение 0 на числовой прямой, написанного как дробь?

b. Каково расстояние на числовой прямой между B и C is (написанного как дробь)?

2)

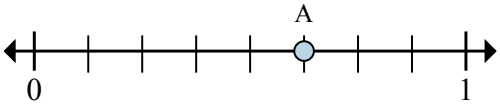

a. На сколько частей разделена данная числовая прямая?

b. Каково местоположение A (написанного как дробь)?

3)

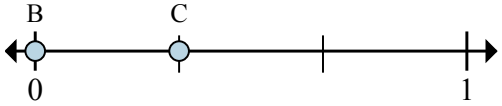

a. Каково значение 0 на числовой прямой, написанного как дробь?

b. Каково расстояние на числовой прямой между B и C is (написанного как дробь)?

4)

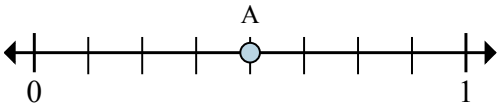

a. На сколько частей разделена данная числовая прямая?

b. Каково местоположение A (написанного как дробь)?

5)

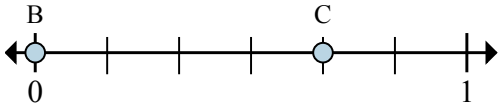

a. Каково значение 0 на числовой прямой, написанного как дробь?

b. Каково расстояние на числовой прямой между B и C is (написанного как дробь)?

6)

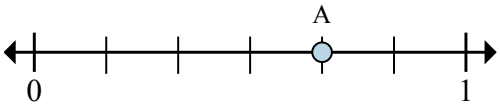

a. На сколько частей разделена данная числовая прямая?

b. Каково местоположение A (написанного как дробь)?

7)

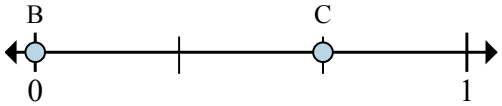

a. Каково значение 1 на числовой прямой, написанного как дробь?

b. Каково расстояние на числовой прямой между B и C is (написанного как дробь)?

Ответы

об.	8	$\frac{4}{8}$
1.		
2.		
3.		
4.		
5.		
6.		
7.		

1-7	86	71	57	43	29	14	0

Решите каждую задачу.

об)

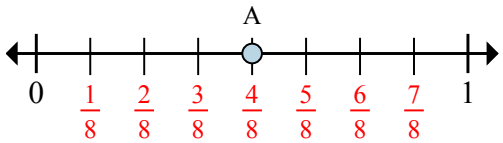

a. На сколько частей разделена данная числовая прямая?

b. Каково местоположение A (написанного как дробь)?

1)

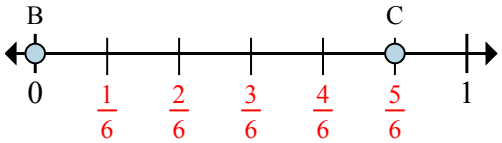

a. Каково значение 0 на числовой прямой, написанного как дробь?

b. Каково расстояние на числовой прямой между B и C is (написанного как дробь)?

2)

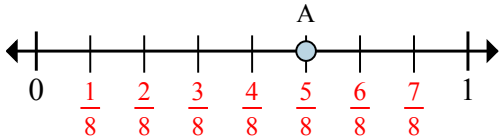

a. На сколько частей разделена данная числовая прямая?

b. Каково местоположение A (написанного как дробь)?

3)

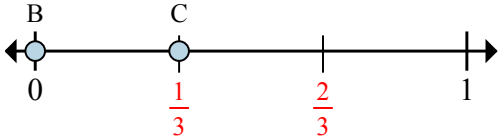

a. Каково значение 0 на числовой прямой, написанного как дробь?

b. Каково расстояние на числовой прямой между B и C is (написанного как дробь)?

4)

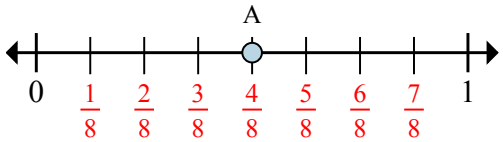

a. На сколько частей разделена данная числовая прямая?

b. Каково местоположение A (написанного как дробь)?

5)

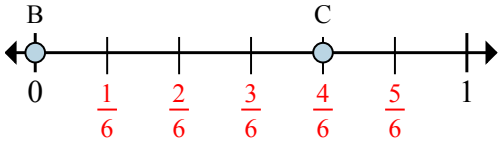

a. Каково значение 0 на числовой прямой, написанного как дробь?

b. Каково расстояние на числовой прямой между B и C is (написанного как дробь)?

6)

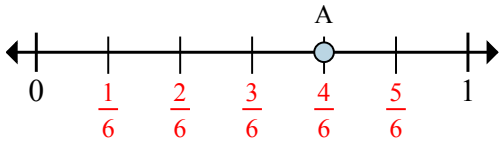

a. На сколько частей разделена данная числовая прямая?

b. Каково местоположение A (написанного как дробь)?

7)

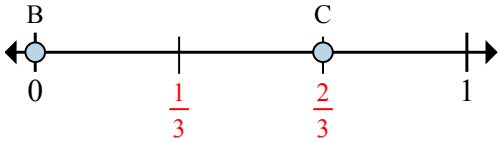

a. Каково значение 1 на числовой прямой, написанного как дробь?

b. Каково расстояние на числовой прямой между B и C is (написанного как дробь)?

Ответы

об.	8	4/8
1.	0/6	5/6
2.	8	5/8
3.	0/3	1/3
4.	8	4/8
5.	0/6	4/6
6.	6	4/6
7.	3/3	2/3

1-7	86	71	57	43	29	14	0

Расположение дроби на числовой прямой Имя:

Решите каждую задачу.

об)

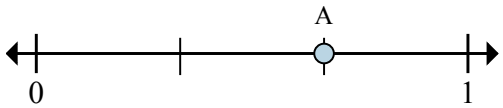

a. На сколько частей разделена данная числовая прямая?

b. Каково местоположение A (написанного как дробь)?

1)

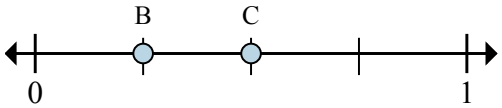

a. Каково значение 1 на числовой прямой, написанного как дробь?

b. Каково расстояние на числовой прямой между B и C is (написанного как дробь)?

2)

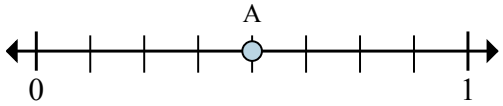

a. На сколько частей разделена данная числовая прямая?

b. Каково местоположение A (написанного как дробь)?

3)

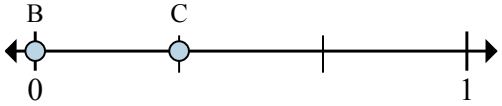

a. Каково значение 1 на числовой прямой, написанного как дробь?

b. Каково расстояние на числовой прямой между B и C is (написанного как дробь)?

4)

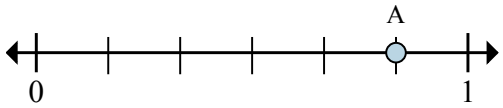

a. На сколько частей разделена данная числовая прямая?

b. Каково местоположение A (написанного как дробь)?

5)

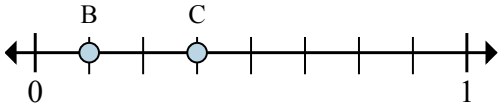

a. Каково значение 1 на числовой прямой, написанного как дробь?

b. Каково расстояние на числовой прямой между B и C is (написанного как дробь)?

6)

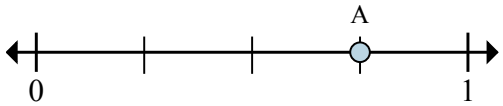

a. На сколько частей разделена данная числовая прямая?

b. Каково местоположение A (написанного как дробь)?

7)

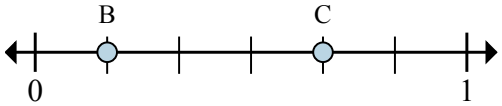

a. Каково значение 1 на числовой прямой, написанного как дробь?

b. Каково расстояние на числовой прямой между B и C is (написанного как дробь)?

Ответы

об.	3	$\frac{2}{3}$
1.		
2.		
3.		
4.		
5.		
6.		
7.		

1-7	86	71	57	43	29	14	0

Решите каждую задачу.

об)

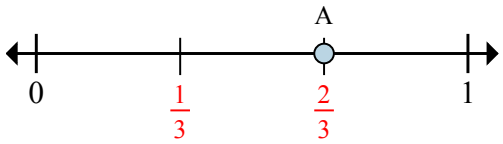

a. На сколько частей разделена данная числовая прямая?

b. Каково местоположение A (написанного как дробь)?

1)

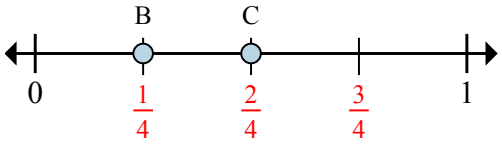

a. Каково значение 1 на числовой прямой, написанного как дробь?

b. Каково расстояние на числовой прямой между B и C is (написанного как дробь)?

2)

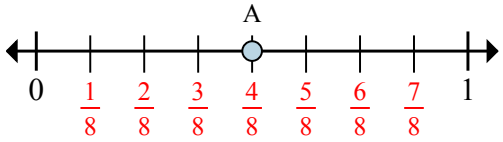

a. На сколько частей разделена данная числовая прямая?

b. Каково местоположение A (написанного как дробь)?

3)

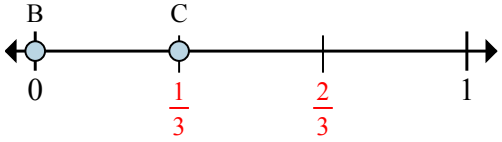

a. Каково значение 1 на числовой прямой, написанного как дробь?

b. Каково расстояние на числовой прямой между B и C is (написанного как дробь)?

4)

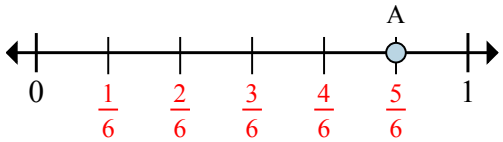

a. На сколько частей разделена данная числовая прямая?

b. Каково местоположение A (написанного как дробь)?

5)

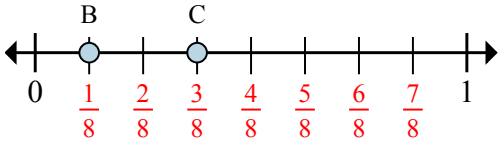

a. Каково значение 1 на числовой прямой, написанного как дробь?

b. Каково расстояние на числовой прямой между B и C is (написанного как дробь)?

6)

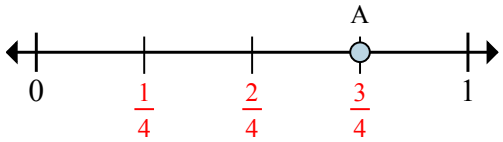

a. На сколько частей разделена данная числовая прямая?

b. Каково местоположение A (написанного как дробь)?

7)

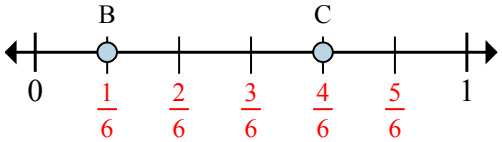

a. Каково значение 1 на числовой прямой, написанного как дробь?

b. Каково расстояние на числовой прямой между B и C is (написанного как дробь)?

Ответы

об.	3	2/3
1.	4/4	1/4
2.	8	4/8
3.	3/3	1/3
4.	6	5/6
5.	8/8	2/8
6.	4	3/4
7.	6/6	3/6

1-7	86	71	57	43	29	14	0

Расположение дроби на числовой прямой Имя:

Решите каждую задачу.

об)

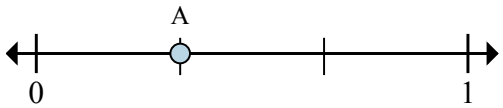

a. На сколько частей разделена данная числовая прямая?

b. Каково местоположение A (написанного как дробь)?

1)

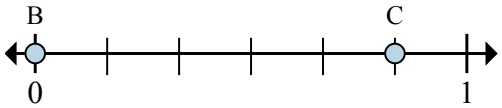

a. Каково значение 1 на числовой прямой, написанного как дробь?

b. Каково расстояние на числовой прямой между B и C is (написанного как дробь)?

2)

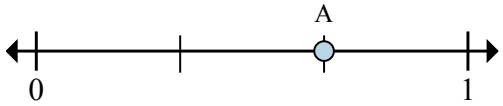

a. На сколько частей разделена данная числовая прямая?

b. Каково местоположение A (написанного как дробь)?

3)

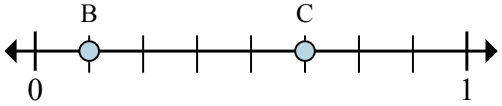

a. Каково значение 0 на числовой прямой, написанного как дробь?

b. Каково расстояние на числовой прямой между B и C is (написанного как дробь)?

4)

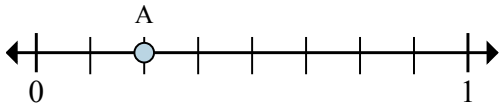

a. На сколько частей разделена данная числовая прямая?

b. Каково местоположение A (написанного как дробь)?

5)

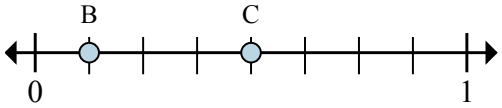

a. Каково значение 1 на числовой прямой, написанного как дробь?

b. Каково расстояние на числовой прямой между B и C is (написанного как дробь)?

6)

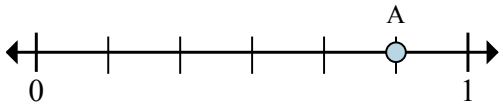

a. На сколько частей разделена данная числовая прямая?

b. Каково местоположение A (написанного как дробь)?

7)

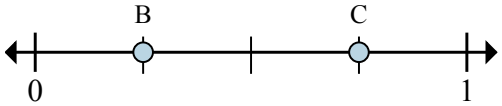

a. Каково значение 1 на числовой прямой, написанного как дробь?

b. Каково расстояние на числовой прямой между B и C is (написанного как дробь)?

Ответы

об.	3	$\frac{1}{3}$
1.		
2.		
3.		
4.		
5.		
6.		
7.		

1-7	86	71	57	43	29	14	0

Решите каждую задачу.

об)

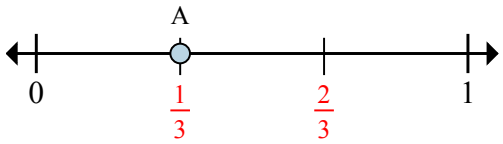

a. На сколько частей разделена данная числовая прямая?

b. Каково местоположение A (написанного как дробь)?

1)

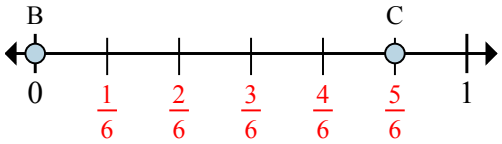

a. Каково значение 1 на числовой прямой, написанного как дробь?

b. Каково расстояние на числовой прямой между B и C is (написанного как дробь)?

2)

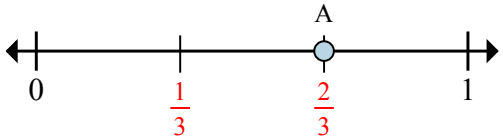

a. На сколько частей разделена данная числовая прямая?

b. Каково местоположение A (написанного как дробь)?

3)

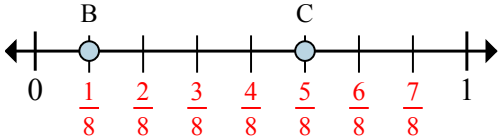

a. Каково значение 0 на числовой прямой, написанного как дробь?

b. Каково расстояние на числовой прямой между B и C is (написанного как дробь)?

4)

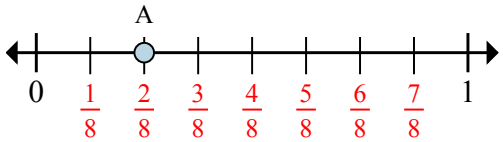

a. На сколько частей разделена данная числовая прямая?

b. Каково местоположение A (написанного как дробь)?

5)

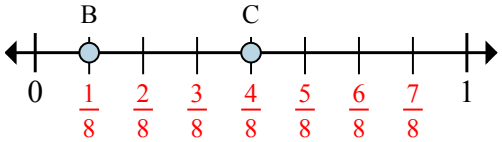

a. Каково значение 1 на числовой прямой, написанного как дробь?

b. Каково расстояние на числовой прямой между B и C is (написанного как дробь)?

6)

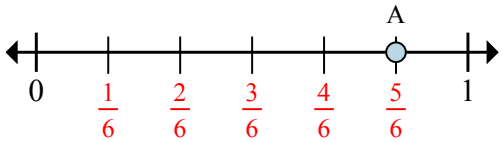

a. На сколько частей разделена данная числовая прямая?

b. Каково местоположение A (написанного как дробь)?

7)

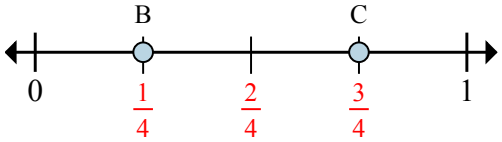

a. Каково значение 1 на числовой прямой, написанного как дробь?

b. Каково расстояние на числовой прямой между B и C is (написанного как дробь)?

Ответы

об.	3	1/3
1.	6/6	5/6
2.	3	2/3
3.	0/8	4/8
4.	8	2/8
5.	8/8	3/8
6.	6	5/6
7.	4/4	2/4

1-7	86	71	57	43	29	14	0