Расположение дроби на числовой прямой Имя:

Решите каждую задачу.

об)

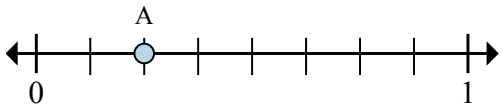

a. На сколько частей разделена данная числовая прямая?

b. Каково местоположение A (написанного как дробь)?

1)

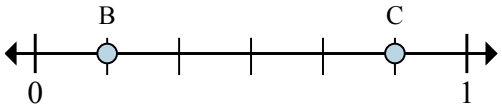

a. Каково значение 0 на числовой прямой, написанного как дробь?

b. Каково расстояние на числовой прямой между B и C is (написанного как дробь)?

2)

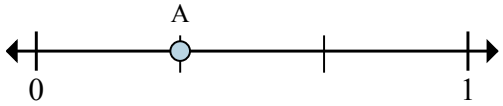

a. На сколько частей разделена данная числовая прямая?

b. Каково местоположение A (написанного как дробь)?

3)

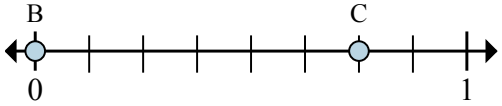

a. Каково значение 1 на числовой прямой, написанного как дробь?

b. Каково расстояние на числовой прямой между B и C is (написанного как дробь)?

4)

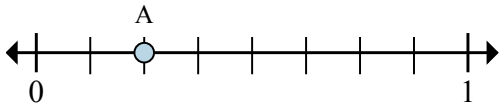

a. На сколько частей разделена данная числовая прямая?

b. Каково местоположение A (написанного как дробь)?

5)

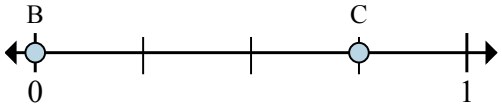

a. Каково значение 0 на числовой прямой, написанного как дробь?

b. Каково расстояние на числовой прямой между B и C is (написанного как дробь)?

6)

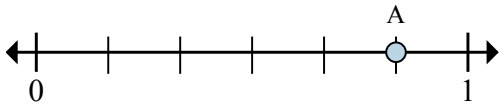

a. На сколько частей разделена данная числовая прямая?

b. Каково местоположение A (написанного как дробь)?

7)

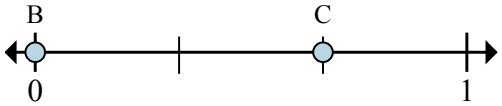

a. Каково значение 1 на числовой прямой, написанного как дробь?

b. Каково расстояние на числовой прямой между B и C is (написанного как дробь)?

Ответы

об.	8	$^{2}/_{8}$
1.		
2.		
3.		
4.		
5.		
6.		
7.		

1-7	86	71	57	43	29	14	0

Расположение дроби на числовой прямой Имя: **Ключ к правильным ответам**

Решите каждую задачу.

об)

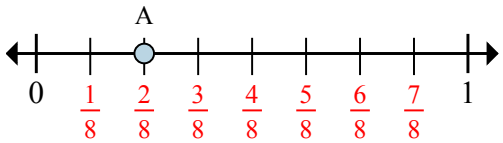

a. На сколько частей разделена данная числовая прямая?

b. Каково местоположение A (написанного как дробь)?

1)

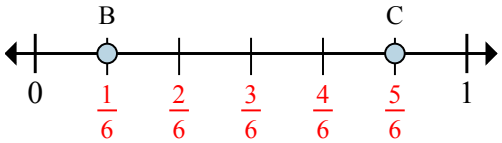

a. Каково значение 0 на числовой прямой, написанного как дробь?

b. Каково расстояние на числовой прямой между B и C is (написанного как дробь)?

2)

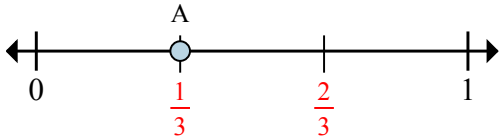

a. На сколько частей разделена данная числовая прямая?

b. Каково местоположение A (написанного как дробь)?

3)

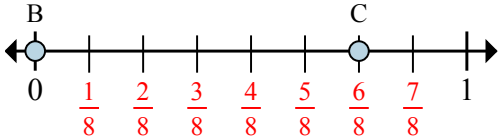

a. Каково значение 1 на числовой прямой, написанного как дробь?

b. Каково расстояние на числовой прямой между B и C is (написанного как дробь)?

4)

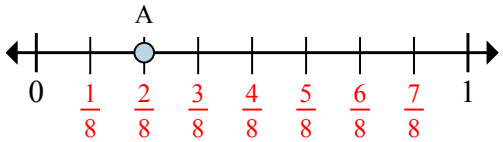

a. На сколько частей разделена данная числовая прямая?

b. Каково местоположение A (написанного как дробь)?

5)

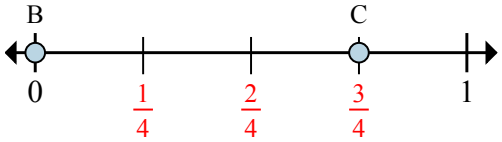

a. Каково значение 0 на числовой прямой, написанного как дробь?

b. Каково расстояние на числовой прямой между B и C is (написанного как дробь)?

6)

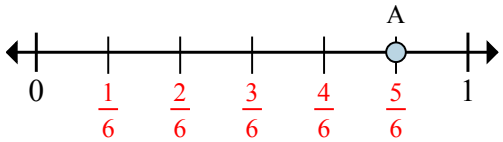

a. На сколько частей разделена данная числовая прямая?

b. Каково местоположение A (написанного как дробь)?

7)

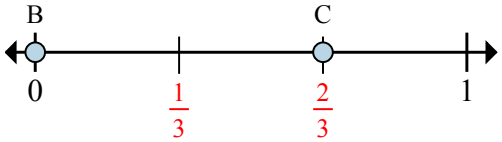

a. Каково значение 1 на числовой прямой, написанного как дробь?

b. Каково расстояние на числовой прямой между B и C is (написанного как дробь)?

Ответы

об.	8	2/8
1.	0/6	4/6
2.	3	1/3
3.	8/8	6/8
4.	8	2/8
5.	0/4	3/4
6.	6	5/6
7.	3/3	2/3

1-7	86	71	57	43	29	14	0