Расположение дроби на числовой прямой Имя:

Решите каждую задачу.

об)

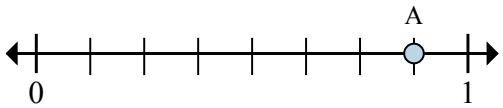

a. На сколько частей разделена данная числовая прямая?

b. Каково местоположение A (написанного как дробь)?

1)

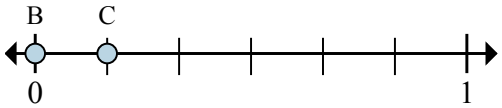

a. Каково значение 1 на числовой прямой, написанного как дробь?

b. Каково расстояние на числовой прямой между B и C is (написанного как дробь)?

2)

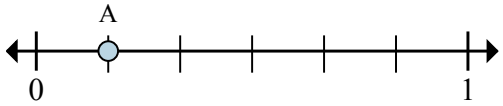

a. На сколько частей разделена данная числовая прямая?

b. Каково местоположение A (написанного как дробь)?

3)

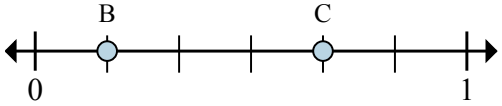

a. Каково значение 0 на числовой прямой, написанного как дробь?

b. Каково расстояние на числовой прямой между B и C is (написанного как дробь)?

4)

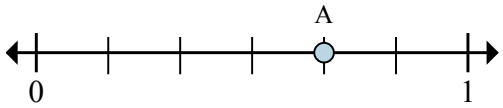

a. На сколько частей разделена данная числовая прямая?

b. Каково местоположение A (написанного как дробь)?

5)

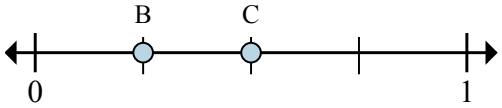

a. Каково значение 0 на числовой прямой, написанного как дробь?

b. Каково расстояние на числовой прямой между B и C is (написанного как дробь)?

6)

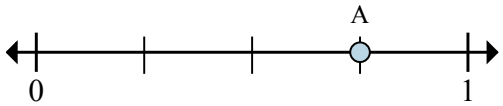

a. На сколько частей разделена данная числовая прямая?

b. Каково местоположение A (написанного как дробь)?

7)

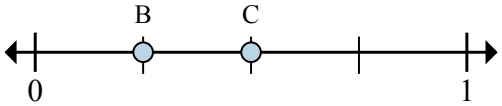

a. Каково значение 0 на числовой прямой, написанного как дробь?

b. Каково расстояние на числовой прямой между B и C is (написанного как дробь)?

Ответы

об.	8	$\frac{7}{8}$
1.		
2.		
3.		
4.		
5.		
6.		
7.		

1-7	86	71	57	43	29	14	0

Расположение дроби на числовой прямой Имя: **Ключ к правильным ответам**

Решите каждую задачу.

об)

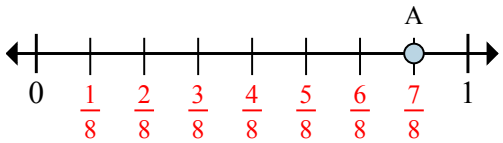

a. На сколько частей разделена данная числовая прямая?

b. Каково местоположение A (написанного как дробь)?

1)

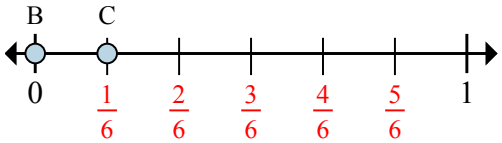

a. Каково значение 1 на числовой прямой, написанного как дробь?

b. Каково расстояние на числовой прямой между B и C is (написанного как дробь)?

2)

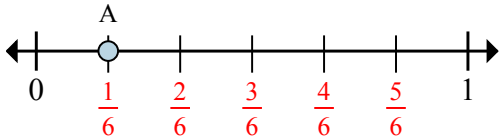

a. На сколько частей разделена данная числовая прямая?

b. Каково местоположение A (написанного как дробь)?

3)

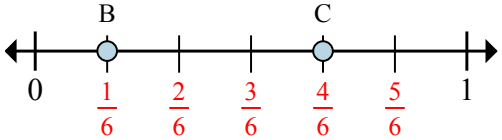

a. Каково значение 0 на числовой прямой, написанного как дробь?

b. Каково расстояние на числовой прямой между B и C is (написанного как дробь)?

4)

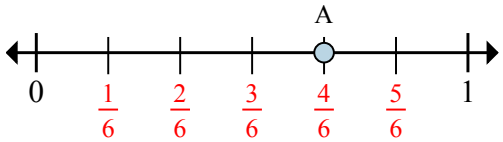

a. На сколько частей разделена данная числовая прямая?

b. Каково местоположение A (написанного как дробь)?

5)

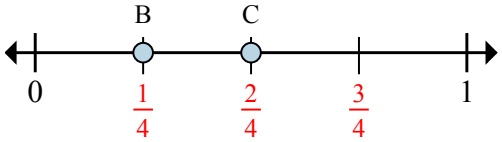

a. Каково значение 0 на числовой прямой, написанного как дробь?

b. Каково расстояние на числовой прямой между B и C is (написанного как дробь)?

6)

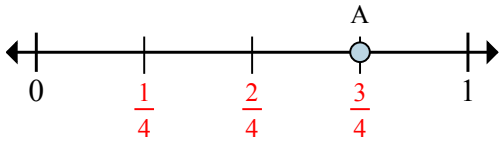

a. На сколько частей разделена данная числовая прямая?

b. Каково местоположение A (написанного как дробь)?

7)

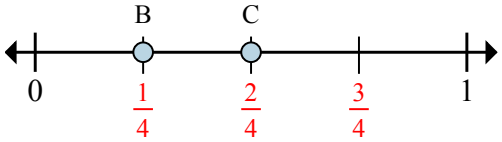

a. Каково значение 0 на числовой прямой, написанного как дробь?

b. Каково расстояние на числовой прямой между B и C is (написанного как дробь)?

Ответы

об.	8	7/8
1.	6/6	1/6
2.	6	1/6
3.	0/6	3/6
4.	6	4/6
5.	0/4	1/4
6.	4	3/4
7.	0/4	1/4

1-7	86	71	57	43	29	14	0