Количество дроби относительно целого числа Имя:

Решите каждую задачу.

об) Выразите треугольников(ка) в виде дроби от всего множества.

1) Выразите звезд(ы) в виде дроби от всего множества.

2) Выразите луны в виде дроби от всего множества.

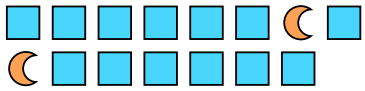

3) Выразите пятиугольников(ка) в виде дроби от всего множества.



4) Выразите звезд(ы) в виде дроби от всего множества.

5) Выразите луны в виде дроби от всего множества.



6) Выразите звезд(ы) в виде дроби от всего множества.

7) Выразите кругов(га) в виде дроби от всего множества.



8) Выразите кругов(га) в виде дроби от всего множества.



9) Выразите пятиугольников(ка) в виде дроби от всего множества.

10) Выразите пятиугольников(ка) в виде дроби от всего множества.

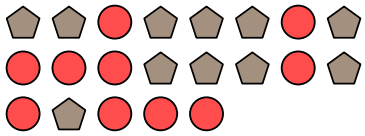

11) Выразите квадратов(та) в виде дроби от всего множества.

Ответы

об. $\frac{4}{16}$

1. _____

2. _____

3. _____

4. _____

5. _____

6. _____

7. _____

8. _____

9. _____

10. _____

11. _____

1-10	91	82	73	64	55	45	36	27	18	9
11	0									

Количество дроби относительно целого числа

Имя: **Ключ к правильным ответам**

Решите каждую задачу.

об) Выразите треугольников(ка) в виде дроби от всего множества.

1) Выразите звезд(ы) в виде дроби от всего множества.

2) Выразите луны в виде дроби от всего множества.

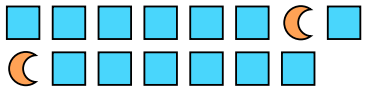

3) Выразите пятиугольников(ка) в виде дроби от всего множества.



4) Выразите звезд(ы) в виде дроби от всего множества.

5) Выразите луны в виде дроби от всего множества.



6) Выразите звезд(ы) в виде дроби от всего множества.

7) Выразите кругов(га) в виде дроби от всего множества.



8) Выразите кругов(га) в виде дроби от всего множества.



9) Выразите пятиугольников(ка) в виде дроби от всего множества.

10) Выразите пятиугольников(ка) в виде дроби от всего множества.

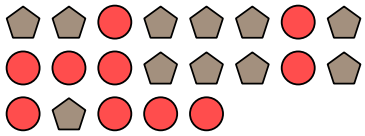

11) Выразите квадратов(та) в виде дроби от всего множества.

Ответы

об.	4/16
1.	9/21
2.	2/15
3.	10/23
4.	12/17
5.	15/26
6.	7/16
7.	12/19
8.	8/23
9.	7/11
10.	11/21
11.	4/10

1-10	91	82	73	64	55	45	36	27	18	9
11	0									