Количество дроби относительно целого числа

Имя:

Решите каждую задачу.

об) Выразите треугольников(ка) в виде дроби от всего множества.

1) Выразите кругов(га) в виде дроби от всего множества.

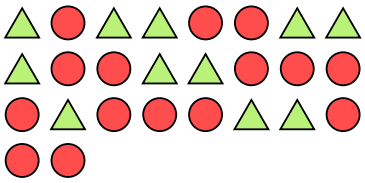

2) Выразите пятиугольников(ка) в виде дроби от всего множества.

3) Выразите квадратов(та) в виде дроби от всего множества.

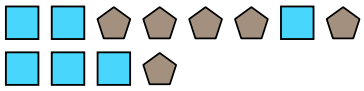

4) Выразите луны в виде дроби от всего множества.



5) Выразите кругов(га) в виде дроби от всего множества.

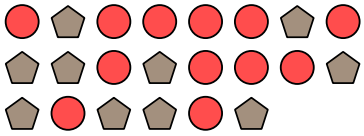

6) Выразите треугольников(ка) в виде дроби от всего множества.

7) Выразите сердца в виде дроби от всего множества.



8) Выразите сердца в виде дроби от всего множества.



9) Выразите сердца в виде дроби от всего множества.



10) Выразите квадратов(та) в виде дроби от всего множества.



11) Выразите треугольников(ка) в виде дроби от всего множества.

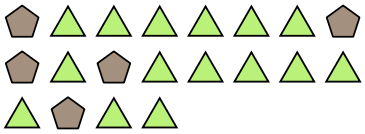

Ответы

об. $\frac{3}{12}$

1. _____

2. _____

3. _____

4. _____

5. _____

6. _____

7. _____

8. _____

9. _____

10. _____

11. _____

1-10	91	82	73	64	55	45	36	27	18	9
11	0									

Количество дроби относительно целого числа

Имя: **Ключ к правильным ответам**

Решите каждую задачу.

об) Выразите треугольников(ка) в виде дроби от всего множества.

1) Выразите кругов(га) в виде дроби от всего множества.

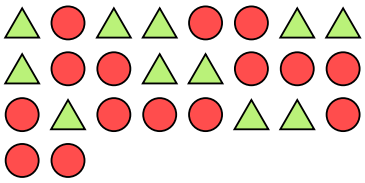

2) Выразите пятиугольников(ка) в виде дроби от всего множества.

3) Выразите квадратов(та) в виде дроби от всего множества.

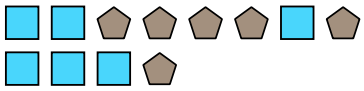

4) Выразите луны в виде дроби от всего множества.



5) Выразите кругов(га) в виде дроби от всего множества.

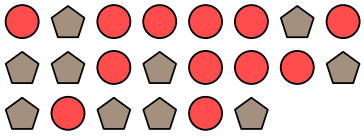

6) Выразите треугольников(ка) в виде дроби от всего множества.

7) Выразите сердца в виде дроби от всего множества.



8) Выразите сердца в виде дроби от всего множества.



9) Выразите сердца в виде дроби от всего множества.



10) Выразите квадратов(та) в виде дроби от всего множества.



11) Выразите треугольников(ка) в виде дроби от всего множества.

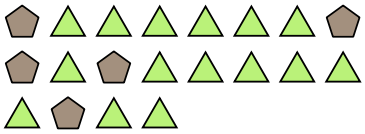

Ответы

об.	3/12
1.	15/26
2.	4/15
3.	6/12
4.	8/22
5.	12/22
6.	6/10
7.	8/19
8.	15/23
9.	5/14
10.	6/19
11.	15/20

1-10	91	82	73	64	55	45	36	27	18	9
11	0									