Количество дроби относительно целого числа

Имя:

Решите каждую задачу.

об) Выразите треугольников(ка) в виде дроби от всего множества.

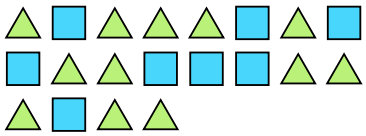

1) Выразите звезд(ы) в виде дроби от всего множества.

2) Выразите луны в виде дроби от всего множества.

3) Выразите луны в виде дроби от всего множества.

4) Выразите звезд(ы) в виде дроби от всего множества.



5) Выразите треугольников(ка) в виде дроби от всего множества.

6) Выразите сердца в виде дроби от всего множества.

7) Выразите сердца в виде дроби от всего множества.

8) Выразите сердца в виде дроби от всего множества.



9) Выразите квадратов(та) в виде дроби от всего множества.

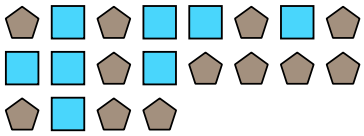

10) Выразите сердца в виде дроби от всего множества.

11) Выразите квадратов(та) в виде дроби от всего множества.



Ответы

об. $\frac{12}{20}$

1. _____
2. _____
3. _____
4. _____
5. _____
6. _____
7. _____
8. _____
9. _____
10. _____
11. _____

1-10	91	82	73	64	55	45	36	27	18	9
11	0									

Количество дроби относительно целого числа

Имя: **Ключ к правильным ответам**

Решите каждую задачу.

об) Выразите треугольников(ка) в виде дроби от всего множества.

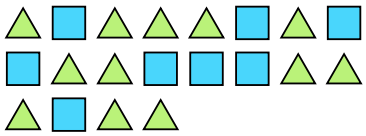

1) Выразите звезд(ы) в виде дроби от всего множества.

2) Выразите луны в виде дроби от всего множества.

3) Выразите луны в виде дроби от всего множества.

4) Выразите звезд(ы) в виде дроби от всего множества.



5) Выразите треугольников(ка) в виде дроби от всего множества.

6) Выразите сердца в виде дроби от всего множества.

7) Выразите сердца в виде дроби от всего множества.

8) Выразите сердца в виде дроби от всего множества.



9) Выразите квадратов(та) в виде дроби от всего множества.

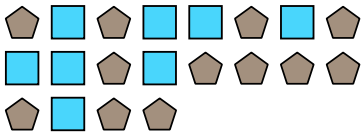

10) Выразите сердца в виде дроби от всего множества.

11) Выразите квадратов(та) в виде дроби от всего множества.



Ответы

об.	12/20
1.	3/12
2.	11/13
3.	10/14
4.	8/19
5.	8/14
6.	2/12
7.	9/22
8.	9/16
9.	8/20
10.	4/6
11.	13/27

1-10	91	82	73	64	55	45	36	27	18	9
11	0									