Деление единиц и дробей (Визуальное) Имя:

Решите задачу, путем обозначения дробей. Первая для Вас обозначена.

об) $2:\frac{1}{6} = ?$ Это то же самое, что: Сколько $\frac{1}{6}$ в 2 целых?

1 целых						1 целых					

1) $5:\frac{1}{3} =$

1 целых	1 целых	1 целых	1 целых	1 целых

2) $5:\frac{1}{5} =$

1 целых	1 целых	1 целых	1 целых	1 целых

3) $3:\frac{1}{5} =$

1 целых	1 целых	1 целых

4) $4:\frac{1}{7} =$

1 целых	1 целых	1 целых	1 целых

5) $2:\frac{1}{7} =$

1 целых	1 целых

6) $5:\frac{1}{4} =$

1 целых	1 целых	1 целых	1 целых	1 целых

7) $4:\frac{1}{3} =$

1 целых	1 целых	1 целых	1 целых

8) $4:\frac{1}{4} =$

1 целых	1 целых	1 целых	1 целых

9) $3:\frac{1}{3} =$

1 целых	1 целых	1 целых

Ответы

об. 12

1. _____

2. _____

3. _____

4. _____

5. _____

6. _____

7. _____

8. _____

9. _____

1-9	89	78	67	56	44	33	22	11	0

Решите задачу, путем обозначения дробей. Первая для Вас обозначена.

об) $2:\frac{1}{6}$ = ? Это то же самое, что: Сколько $\frac{1}{6}$ в 2 целых?

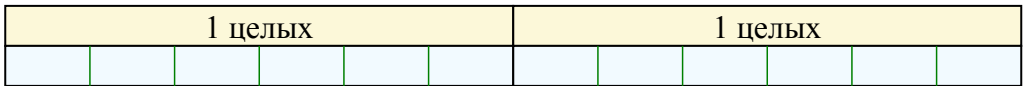

1) $5:\frac{1}{3}$ = Это то же самое, что: Сколько $\frac{1}{3}$ в 5 целых?

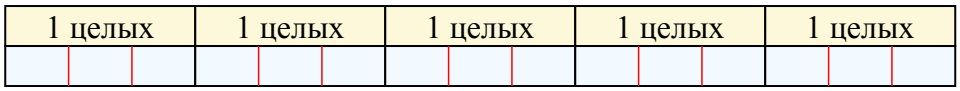

2) $5:\frac{1}{5}$ = Это то же самое, что: Сколько $\frac{1}{5}$ в 5 целых?

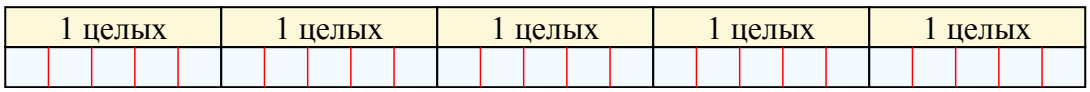

3) $3:\frac{1}{5}$ = Это то же самое, что: Сколько $\frac{1}{5}$ в 3 целых?

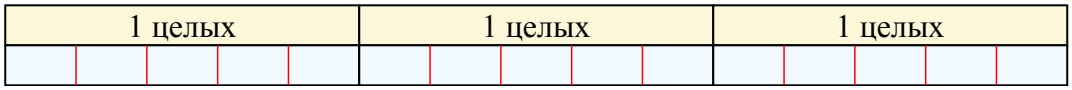

4) $4:\frac{1}{7}$ = Это то же самое, что: Сколько $\frac{1}{7}$ в 4 целых?

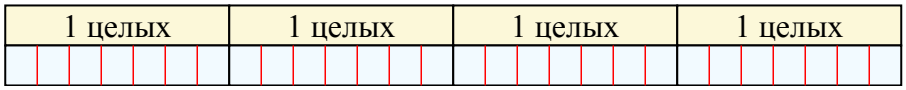

5) $2:\frac{1}{7}$ = Это то же самое, что: Сколько $\frac{1}{7}$ в 2 целых?

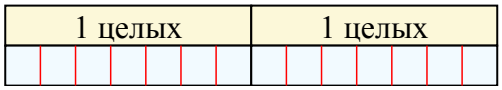

6) $5:\frac{1}{4}$ = Это то же самое, что: Сколько $\frac{1}{4}$ в 5 целых?

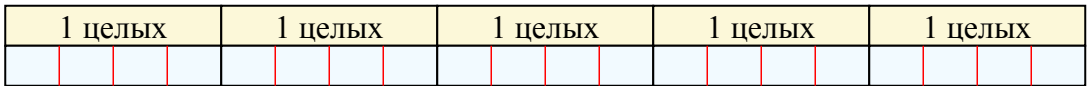

7) $4:\frac{1}{3}$ = Это то же самое, что: Сколько $\frac{1}{3}$ в 4 целых?

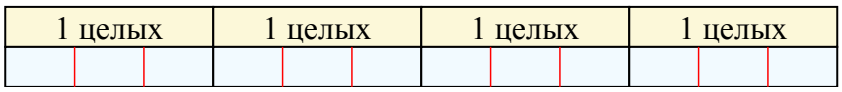

8) $4:\frac{1}{4}$ = Это то же самое, что: Сколько $\frac{1}{4}$ в 4 целых?

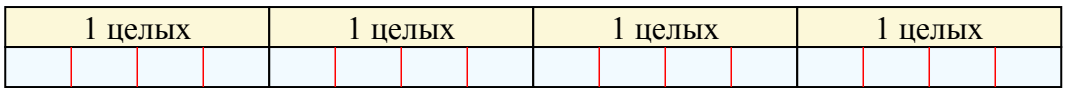

9) $3:\frac{1}{3}$ = Это то же самое, что: Сколько $\frac{1}{3}$ в 3 целых?

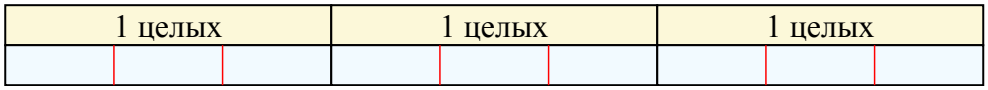

Ответы

об.	12
1.	15
2.	25
3.	15
4.	28
5.	14
6.	20
7.	12
8.	16
9.	9

1-9	89	78	67	56	44	33	22	11	0