Решите каждую задачу.

Ответы

1. _____
2. _____
3. _____
4. _____
5. _____
6. _____

1) Прямая показывает расстояние (в милях), которое проделал каждый участник ралли.

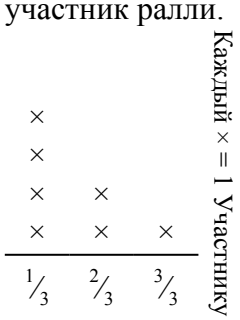

На сколько далеко мог убежать каждый участник, если все расстояние было распределено поровну?

2) Прямая показывает количество воды, которое получало растение (в чашах) в течении {7} дней.

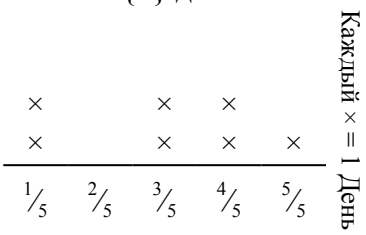

Определите сколько чаш воды получит растение, если каждый день оно получает равное количество.

3) ? порвала бумагу на кусочки разной длинны. прямая показывает длину (в дюймах) каждого кусочка.

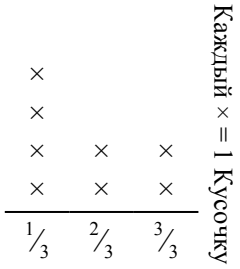

Какова будет длина каждого кусочка, если она порвет бумагу на равные кусочки?

4) Прямая показывает вес коробок (в тоннах) на поддоне.

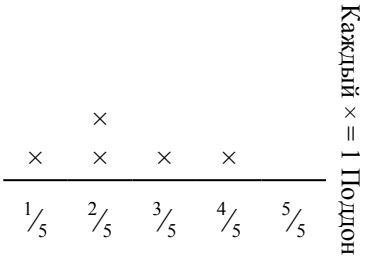

Если вес распределить поровну среди коробок, то сколько будет весить каждая коробка?

5) Прямая показывает вес (в граммах) баночек с витаминами.

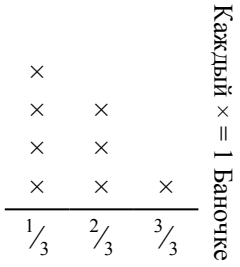

Если бы Вы распределили витамины по баночкам поровну, каков был бы вес каждой баночки?

6) Прямая показывает количество жидкости (в литрах) в разных контейнерах.

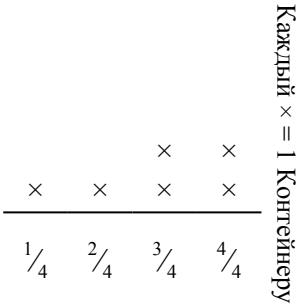

Определите количество жидкости в каждом контейнере, если вся жидкость будет поделена поровну.

1-6	83	67	50	33	17	0

Решите каждую задачу.

1) Прямая показывает расстояние (в милях), которое проделал каждый участник ралли.

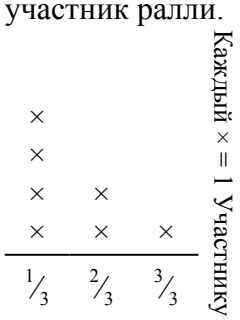

На сколько далеко мог убежать каждый участник, если все расстояние было распределено поровну?

2) Прямая показывает количество воды, которое получало растение (в чашах) в течении {7} дней.

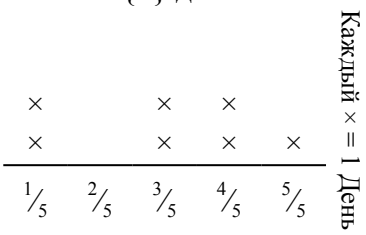

Определите сколько чаш воды получит растение, если каждый день оно получает равное количество.

3) ? порвала бумагу на кусочки разной длинны. прямая показывает длину (в дюймах) каждого кусочка.

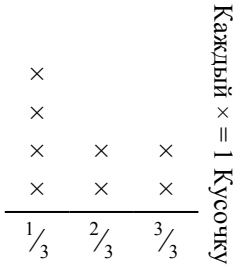

Какова будет длина каждого кусочка, если она порвет бумагу на равные кусочки?

4) Прямая показывает вес коробок (в тоннах) на поддоне.

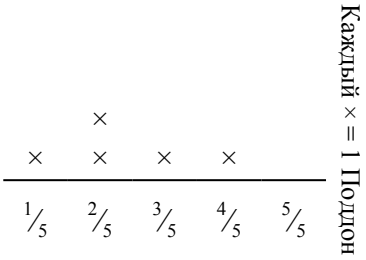

Если вес распределить поровну среди коробок, то сколько будет весить каждая коробка?

5) Прямая показывает вес (в граммах) баночек с витаминами.

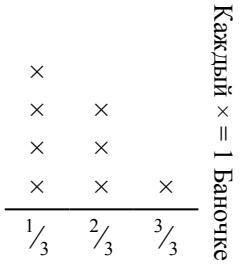

Если бы Вы распределили витамины по баночкам поровну, каков был бы вес каждой баночки?

6) Прямая показывает количество жидкости (в литрах) в разных контейнерах.

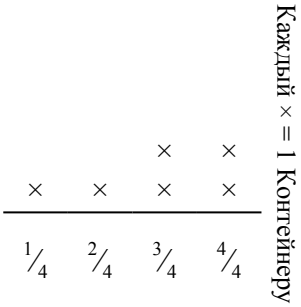

Определите количество жидкости в каждом контейнере, если вся жидкость будет поделена поровну.

Ответы

1. $^{11}/_{21}$
2. $^{21}/_{35} = {}^{3}/_{5}$
3. $^{14}/_{24} = {}^{7}/_{12}$
4. $^{12}/_{25}$
5. $^{13}/_{24}$
6. $^{17}/_{24}$

1-6	83	67	50	33	17	0