Значение по дистрибутивной линии Имя:

Решите каждую задачу.

1) Прямая показывает количество фунтов конфет, которое получила группа друзей.



Если они поровну разделят количество конфет, то сколько получит каждый из друзей?

2) ? порезал канат на кусочки разной длинны. Прямая показывает длинну (в футах) каждого кусочка.



Если бы он порезал канат на кусочки равной длины, то какова была бы длина каждого кусочка?

3) Прямая показывает количество воды, которое получало растение (в чашах) в течении {8} дней.

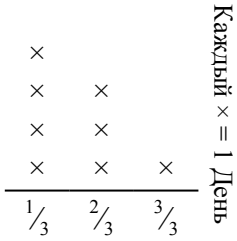

Определите сколько чаш воды получит растение, если каждый день оно получает равное количество.

4) Прямая показывает вес (в граммах) баночек с витаминами.

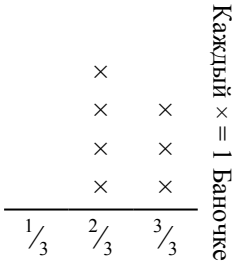

Если бы Вы распределили витамины по баночкам поровну, каков был бы вес каждой баночки?

5) ? порвала бумагу на кусочки разной длинны. прямая показывает длину (в дюймах) каждого кусочка.

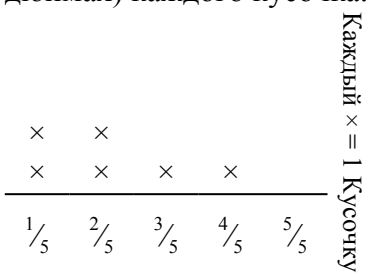

Какова будет длина каждого кусочка, если она порвет бумагу на равные кусочки?

6) Прямая показывает вес коробок (в тоннах) на поддоне.

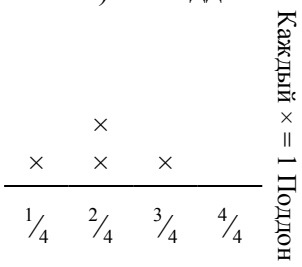

Если вес распределить поровну среди коробок, то сколько будет весить каждая коробка?

Ответы

1. _____
2. _____
3. _____
4. _____
5. _____
6. _____

1-6	83	67	50	33	17	0

Решите каждую задачу.

1) Прямая показывает количество фунтов конфет, которое получила группа друзей.



Если они поровну разделят количество конфет, то сколько получит каждый из друзей?

2) ? порезал канат на кусочки разной длинны. Прямая показывает длинну (в футах) каждого кусочка.



Если бы он порезал канат на кусочки равной длины, то какова была бы длина каждого кусочка?

3) Прямая показывает количество воды, которое получало растение (в чашах) в течении {8} дней.

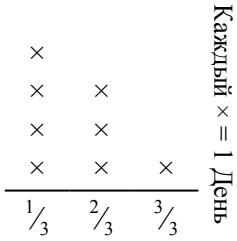

Определите сколько чаш воды получит растение, если каждый день оно получает равное количество.

4) Прямая показывает вес (в граммах) баночек с витаминами.

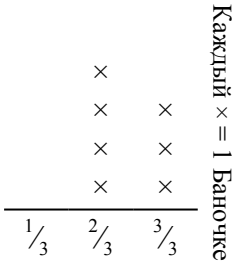

Если бы Вы распределили витамины по баночкам поровну, каков был бы вес каждой баночки?

5) ? порвала бумагу на кусочки разной длинны. прямая показывает длину (в дюймах) каждого кусочка.

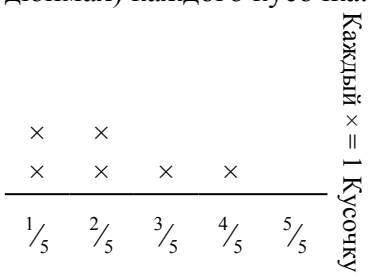

Какова будет длина каждого кусочка, если она порвет бумагу на равные кусочки?

6) Прямая показывает вес коробок (в тоннах) на поддоне.

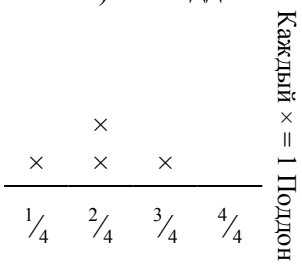

Если вес распределить поровну среди коробок, то сколько будет весить каждая коробка?

Ответы

1. $^{24}/_{36} = {}^{2}/_{3}$
2. $^{18}/_{32} = {}^{9}/_{16}$
3. $^{13}/_{24}$
4. $^{17}/_{21}$
5. $^{13}/_{30}$
6. $^{8}/_{16} = {}^{1}/_{2}$

1-6	83	67	50	33	17	0