Значение по дистрибутивной линии Имя:

Решите каждую задачу.

1) Прямая показывает количество жидкости (в литрах) в разных контейнерах.

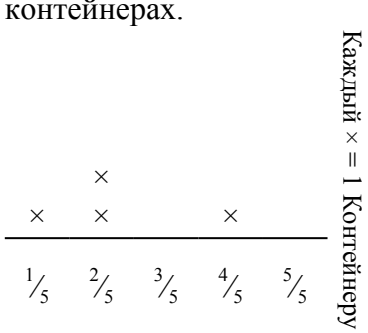

Определите количество жидкости в каждом контейнере, если вся жидкость будет поделена поровну.

2) Прямая показывает расстояние (в милях), которое проделал каждый участник ралли.

На сколько далеко мог убежать каждый участник, если все расстояние было распределено поровну?

3) Прямая показывает количество фунтов конфет, которое получила группа друзей.

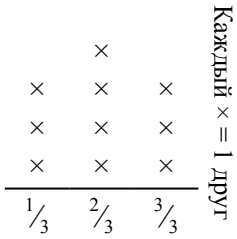

Если они поровну разделят количество конфет, то сколько получит каждый из друзей?

4) Прямая показывает вес коробок (в тоннах) на поддоне.

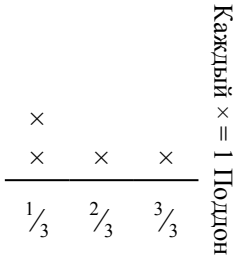

Если вес распределить поровну среди коробок, то сколько будет весить каждая коробка?

5) Прямая показывает вес (в граммах) баночек с витаминами.

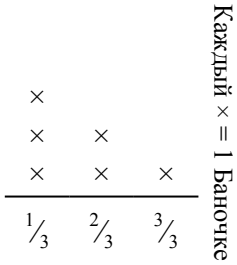

Если бы Вы распределили витамины по баночкам поровну, каков был бы вес каждой баночки?

6) ? порвала бумагу на кусочки разной длинны. прямая показывает длину (в дюймах) каждого кусочка.

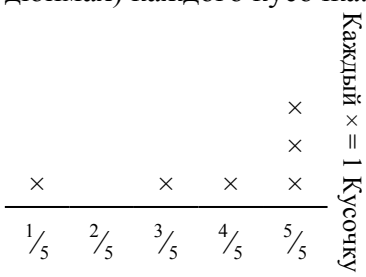

Какова будет длина каждого кусочка, если она порвет бумагу на равные кусочки?

Ответы

1. _____
2. _____
3. _____
4. _____
5. _____
6. _____

1-6	83	67	50	33	17	0

Решите каждую задачу.

1) Прямая показывает количество жидкости (в литрах) в разных контейнерах.

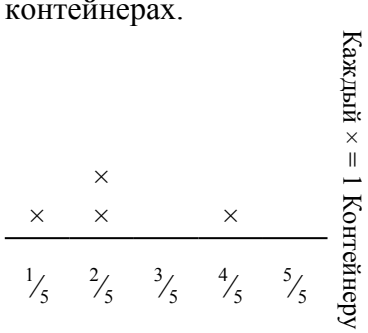

Определите количество жидкости в каждом контейнере, если вся жидкость будет поделена поровну.

2) Прямая показывает расстояние (в милях), которое проделал каждый участник ралли.

На сколько далеко мог убежать каждый участник, если все расстояние было распределено поровну?

3) Прямая показывает количество фунтов конфет, которое получила группа друзей.

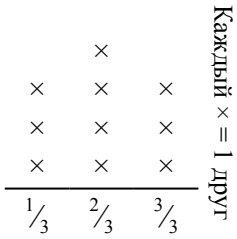

Если они поровну разделят количество конфет, то сколько получит каждый из друзей?

4) Прямая показывает вес коробок (в тоннах) на поддоне.

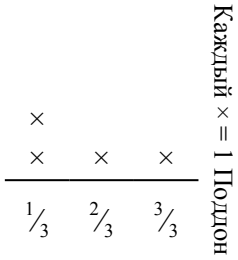

Если вес распределить поровну среди коробок, то сколько будет весить каждая коробка?

5) Прямая показывает вес (в граммах) баночек с витаминами.

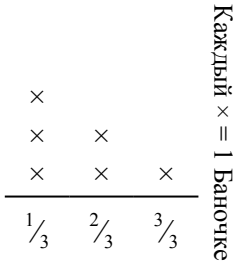

Если бы Вы распределили витамины по баночкам поровну, каков был бы вес каждой баночки?

6) ? порвала бумагу на кусочки разной длинны. прямая показывает длину (в дюймах) каждого кусочка.

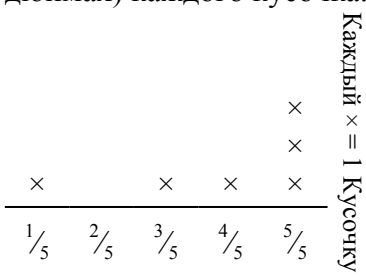

Какова будет длина каждого кусочка, если она порвет бумагу на равные кусочки?

Ответы

1. $\frac{9}{20}$
2. $\frac{14}{16} = \frac{7}{8}$
3. $\frac{20}{30} = \frac{2}{3}$
4. $\frac{7}{12}$
5. $\frac{10}{18} = \frac{5}{9}$
6. $\frac{23}{30}$

1-6	83	67	50	33	17	0